每日一练——判断推理

1. 从所给的四个选项中，选择最合适的一个填入问号处，使之呈现一定的规律性（　　）

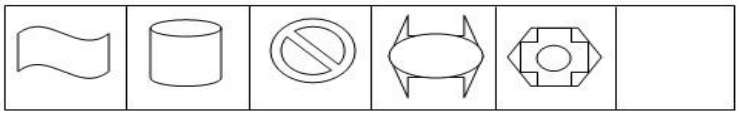

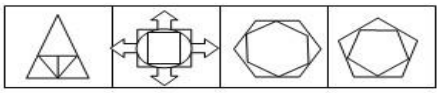

A　　B　　C　　D

2. 从所给的四个选项中，选择最合适的一个填入问号处，使之呈现一定的规律性（　　）

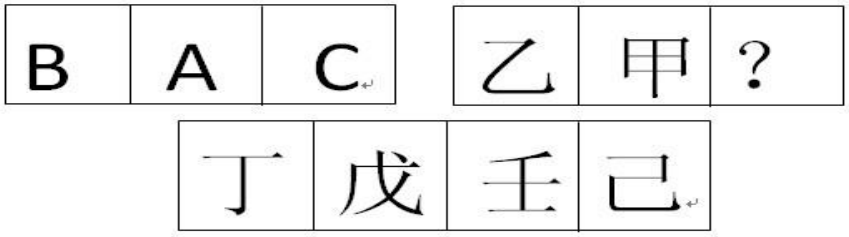

A　　B　　C　　D

3. 从所给的四个选项中，选择最合适的一个填入问号处，使之呈现一定的规律性（　　）

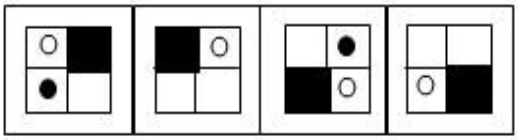

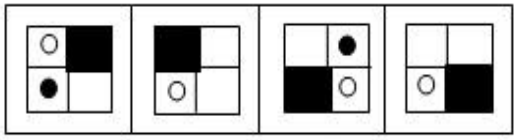

A　　B　　C　　D

4. 从所给的四个选项中，选择最合适的一个填入问号处，使之呈现一定的规律性（　　）

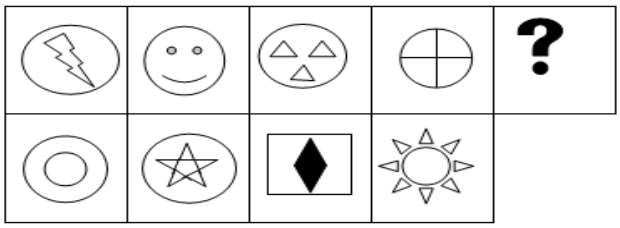

A　　B　　C　　D

5. 从所给的四个选项中，选择最合适的一个填入问号处，使之呈现一定的规律性（　　）

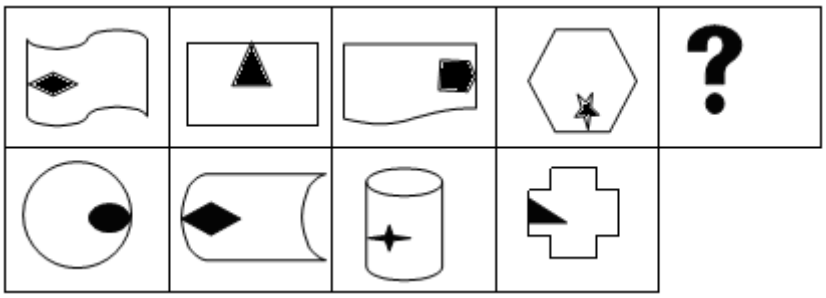

A　　B　　C　　D

6. 信息化战争是一种战争形态，是指在信息时代核威慑条件下，交战双方以信息化军队为主要作战力量，在陆、海、空、天、电等全维空间展开的多军兵种一体化的战争，大量的运用具有信息技术，新材料技术，新能源技术，生物技术，航天技术，海洋技术等当代高新技术水平的常规的武器装备，并采取相应的作战方法，在局部地区进行的，目的手段规模均较有限的战争。简单地说，它是敌我双方在信息领域中争夺信息控制权的战争。其作战对象主要不是人，而是对方的各种信息系统以及与之有关的各项设施；其任务是获取、管理、使用和控制各种信息，同时防止对方获取和有效地使用各种信息。

下列哪一项不属于信息化战争（　　）

A.甲乙两国交战初期，甲国的“军事黑客”就侵入了乙国的信息系统，并成功植入病毒，导致对方信息指挥系统的瘫痪。

B.军事演习中，某侦查连成功突破敌方防线，完整获知了敌方阵地的火力配置，并将火力配置信息发回指挥部，帮助部队成功夺取了敌方阵地。

C.海湾战争期间，美国多次派无人侦察机到海湾地区进行巡航，获取了大量的地面军事设施分布情况的信息。

D.总攻之前，A 集团军开启所有的军事雷达，不间断的向 B 集团军发送干扰信号，致使 B 集团军信息传输中断。

7. 米格-25 效应：前苏联研制的米格-25 喷气式战斗机的许多零部件与美国的相比都落后，但因设计者考虑了整体性能，故能在升降、速度、应急反应等方面成为当时世界一流。即所谓最佳整体，乃是个体的最佳组合。

下列哪一项属于米格-25 效应（　　）

A.NBA 中很多豪门球队都不惜重金追逐巨星，并围绕巨星进行球队的组建。

B.历史上有名的田忌赛马的故事中，孙膑采取“下驷战上驷，上驷战中驷，中驷战下驷”的策略，对劣势资源进行合理组合而赢得最终胜利。

C.现代公司越来越注重部门的专业化，但这带来的后果是公司组织臃肿。

D.小明作为校辩论队队长，率队在全国大学生辩论赛中一举夺得冠军，为学校争得了荣誉。

8. 具体行政行为，是指国家行政机关和行政机关工作人员、法律法规授权的组织、行政机关委托的组织、或者个人在行政管理活动中行使行政职权，针对特定的公民、法人或者其他组织，就特定的具体事项，作出的有关该公民、法人或者其他组织权利义务的单方行为。简而言之，即指行政机关行使行政权力，对特定的公民、法人和其他组织作出的有关其权利义务的单方行为。

下列哪一项属于具体行政行为（　　）

A.国家号召大力发展生态农工业。

B.近日北京市交管部门出台规定，对行人闯红灯处罚开始正式执行，行人闯红灯一次当场处罚 10 元。

C.市民政局与某家具企业签订购买办公家具的合同。

D.市公安局决定，给予见义勇为模范个人小李 10 万元奖励。

9. 监护：指依照法律规定，对未成年人、无民事行为能力或限制民事行为能力的精神病人的人身、财产及其他合法权益进行监督和保护的法律制度。其目的是为了保护无行为能力人和限制行为能力人的一切合法权利，保护正常的社会经济秩序。

下列不属于监护的是（　　）

A.小王的父母死后把遗产分给小王和精神失常的姐姐，小王先替姐姐保管其财产，并负责其吃穿住行。

B.彤彤是一个多才多艺的孩子，在他们小县城很出名，未经彤彤家长的同意，有些商家利用彤彤的照片做广告代言，彤彤父母知道后将这些商家告上了法庭。

C.欣欣今年 10 岁，因交通事故撞伤了双腿，其父母向肇事司机索赔医药费。

D.上小学的仔仔，在学校被人欺负，他爸爸找到学校，把欺负儿子的人打了一顿。

10. 非条件反射是指人生来就有的先天性反射。条件反射是人出生以后在生活过程中逐渐形

成的后天性反射，是在非条件反射的基础上，经过一定的过程，在大脑皮层参与下完成的，是一种高级的神经活动，是高级神经活动的基本方式。

下列属于条件反射的是（　　）

A.婴儿一出生就会吮乳。

B.叩击人的膝盖，小腿就会弹起。

C.吃了山楂后，就会分泌唾液。

D.当年曹操的士兵没有吃过梅子，但是听说梅子是酸的，并且前方有梅林，都流下了口水。

每日一练——判断推理

1【答案】B.

【解析】本题属于数量类。题干中每幅图中包含的封闭空间的数量分别为 1、2、3、5、8，即从第三幅图开始，每幅图包含的封闭空间数等于前两幅图中封闭空间的数量之和，所以第 6 幅图应包含 13 个封闭空间。所以选择 B 选项。

2【答案】D.

【解析】本题属于数量类。题干中，第一段中三幅图的最少笔画数分别是 1、2、1 整体对称；第二段中前两幅图的最少笔画数是 1、2，所以第 3 幅图的最少笔画数应为 1。所以选择 D 选项。

3【答案】A.

【解析】 本题属于位置类。题干中给出的图形从左到右是黑色阴影按逆时针方向、黑白小圆点按顺时针方向旋转，每次移动一个格。所以选择 A 选项。

4【答案】B

【解析】本题属于数量、样式类，第一幅图中相同元素是一，第二幅图有两个相同的元素，第三幅图有三个相同的元素，第四幅图有四个相同的元素，那么第五幅图有五个相同的元素，所以选 B 选项。

5【答案】C

【解析】本题属于位置类，每一幅图都由两个元素构成，同时第一幅图小元素位于大元素的左边，第二幅图位于上边，第三幅图位于右边，第四幅图位于下边，那么第 5 幅图应该位于左边，可以排除 A。同时每幅图的接触点都是直线，那么把 B 选项排除，再者接触的位置都是点接触，把 D 选项排除，所以选 C 选项。

6【答案】B

【解析】解题的关键在于信息化战争中交战双方以信息化军队为主要作战力量，在信息领域中争夺信息控制权的战争。A 项甲国的“军事黑客”是信息部队的典型代表，其摧

毁对方信息指挥系统是信息领域的战斗，符合定义；B 项侦查连并不是信息不对；C 无人侦查机侦查地面军事信息符合定义；D 项雷达部队是信息部队，进行电子干扰是信息战。正确答案是 B。

7【答案】B

【解析】解题的关键在于米格-25 效应强调最佳整体，乃是个体的最佳组合。A 项强调的是巨星的重要，即个人的重要而不是整体的重要；B 项田忌赛马正是强调了整体的重要性，符合定义；C 项无关项；D 项小明是个体，其取得的成绩说明了个体的重要性。正确答案是 B。

8【答案】D

【解析】解题的关键是具体行政行为是国家行政机关和行政机关工作人员、法律法规授权的组织、行政机关委托的组织、或者个人，对特定的主体的权利义务，就特定事项作出的单方行为。A 项国家只是在号召，并无特定对象和特定事项；B 项具体处罚谁并不确定，即无特定对象；C 项民政局只是作为一民事主体，并无行使行政职权；D 项公安局作为行政主体，对见义勇为模范小李，决定奖励 10 万元，符合具体行政行为定义。正确答案为 D。

9【答案】D

【解析】保护对象是“未成年人”、“无民事行为能力人”、“限制民事行为能力的精神病人”，保护的是人身、财产及其他合法权益。A 选项是保护的是精神病人的财产，B 选项保护的是未成年人的肖像权。C 选项保护的是未成年人的合法权益。D 选项目的不对，不符合保护正常的社会经济秩序，所以选 D 选项。

10【答案】D

【解析】A、B、C 的反射都是先天就有的，不需要学习就会的，属于非条件反射。而 D 选项中的反射不是先天就有的，首先士兵先知道酸是什么味道，才会流口水，属于条件反射。