华图

华图版

公务员考试系列用书

行政职业能力测验+申论

易错易混题集

SINCE 2001
HUATU.COM

华图教育 ◎ 编著

大数据，源自百万人亲测，你不得不服

补弱项，纠错让你无死角，你不能不看

目　录

行政职业能力测验

常识判断易错易混真题集萃 …… 1

言语理解与表达易错易混真题集萃 …… 6

数量关系易错易混真题集萃 …… 10

判断推理易错易混真题集萃 …… 15

资料分析易错易混真题集萃 …… 21

SINCE 2001
华图教育
HUATU.COM

申　论

归纳概括题易错易混真题集萃 …… 25

综合分析题易错易混真题集萃 …… 33

提出对策题易错易混真题集萃 …… 38

公文类写作题易错易混真题集萃 …… 44

文章写作题易错易混真题集萃 …… 51

行政职业能力测验

常识判断易错易混真题集萃

1.下列俗语描述的现象与经济学名词对应错误的是(　　)。

A. 覆水难收——机会成本

B. 一山不容二虎——完全垄断

C. 入芝兰之室,久而不闻其香——边际效用递减

D. 城门失火,殃及池鱼——负外部效应

【解析】A。机会成本是指为了得到某种东西而所要放弃另一些东西的最大价值,也可以理解为在面临多方案择一决策时,被舍弃的选项中的最高价值者是本次决策的机会成本;沉没成本是指由于过去的决策已经发生了,而不能由现在或将来的任何决策改变的成本。"覆水难收"比喻已成事实的事难以挽回,对应的是沉没成本,A 项错误。B、C、D 三项对应均正确。故本题选 A。

2.下列文字中画横线部分存在错误的是(　　)。

古代的东西方商路主要有三条:一条是从中亚由陆路沿里海、波罗的海(A)到小亚细亚;一条是先由海路至波斯湾,然后经两河流域到地中海东岸(B)的叙利亚一带;第三条是先由海路至红海,然后再由陆路到埃及(C)的亚历山大港。在这几条商路中,红海以东由阿拉伯商人(D)掌握;地中海一带则为意大利的威尼斯和热那亚所垄断。

【解析】A。本题考查地理常识。A 选项古代东西方商路一条由陆路沿里海、波罗的海到小亚细亚。里海位于中亚西部和欧洲东南端,高加索山脉以东。波罗的海位于欧洲北部,北冰洋的边缘。小亚细亚是亚洲西南部的一个半岛,北邻黑海。里海、波罗的海、小亚细亚并不在从东到西的一条线上,因此 A 选项错误。故本题答案为 A。

3.下列关于恐龙的说法正确的是(　　)。

A. 主要活跃在中生代时期

B. 霸王龙和剑龙都是肉食性动物

C. 属于脊椎亚门类动物中的哺乳纲

D. 可通过某个 DNA 片段克隆出恐龙

【解析】A。恐龙是出现于中生代多样化优势陆栖脊椎动物,属于脊椎亚门类动物中的爬行纲。剑龙是一种巨大的草食性恐龙,是一种生存在侏罗纪晚期的食草性动物。B、C、D 三项说法均错误。本题选 A。

4.图中 a 表示地壳中含量最多的三种元素氧、硅、铝,b 表示人体内含量最多的三种元素。关于阴影部分代表的元素,下列说法错误的是(　　)。

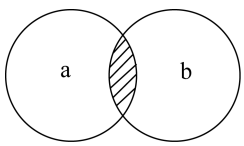

A. 在冶金工业中有广泛用途　　B. 其单质可以燃烧

C. 是碱类物质必不可少的元素　　D. 是大气中的一种重要元素

【解析】B。地壳中含量最多的三种元素为氧、硅、铝，人体内含量最多的三种元素为碳、氢、氧，所以阴影部分的元素为氧。氧气是氧元素最常见的单质形态，是大气中的重要元素，在冶金工业中有广泛用途，是碱类物质必不可少的元素。氧气可支持燃烧，但其本身不能燃烧。B项说法错误，故本题选B。

5.下列与雪有关的说法正确的是(　　)。

A. 大气中有足够的凝结核是形成降雪的必要条件

B. 食盐可作为融雪物质，是因为盐水的凝固点比纯水高

C. “下雪不冷化雪冷”是因为凝固吸热，有降温制冷作用

D. “六月飞雪”是文学作品杜撰的场景，不可能在我国境内出现

【解析】A。本题考查地理和物理常识。形成降水的条件有3个：一是要有充足的水汽；二是要使气块能够抬升并冷却凝结；三是要有较多的凝结核，A选项正确。食盐融雪的原理是盐水的凝固点比纯水的低，B选项错误。“下雪不冷化雪冷”是因为融化吸热，温度降低，C选项错误。夏季高空有较强的冷气流是可能导致六月飞雪的，D选项错误。故本题答案为A。

6.关于现代武器，下列说法错误的是(　　)。

A. 迫击炮通常配属装甲兵使用

B. 陆军航空兵以直升机为主要装备

C. 洲际弹道导弹是目前射程最远的导弹

D. 驱逐舰具有防空、反潜和对地攻击的综合作战能力

【解析】A。A项说法错误，迫击炮是对遮蔽目标实施曲射的一种火炮，是支援和伴随步兵作战的一种有效的压制兵器，是步兵极为重要的常规兵器，“配属装甲兵使用”的说法有误。B项说法正确，陆军航空兵是以直升机为主要装备的陆军前沿性主战兵种。C项说法正确，洲际弹道导弹(intercontinental ballistic missile)，通常指射程大于8000公里的远程弹道式导弹，是目前射程最远的导弹。D项说法正确，驱逐舰是一种多用途的军舰，现代驱逐舰能执行防空、反潜、反舰、对地攻击、护航、侦察、巡逻、警戒、布雷、火力支援以及攻击岸上目标等作战任务，有“海上多面手”称号。故本题选择A。

7.下列关于地理位置的描述与城市之间对应关系错误的是(　　)。

A. 北通汝洛，西带秦蜀，南遮湖广，东瞰吴越——襄阳

B. 东压江淮，西挟关陇，北通幽燕，南系荆襄——南京

C. 南抚百越，北望中州，据五岭之要会，扼赣闽粤湘之要冲——赣州

D. 居浙右之上游，控鄱阳之肘腋，制闽越之喉吭，通宣歙之声势——衢州

【解析】B。《读史方舆纪要》中介绍：“襄阳上流门户，北通汝洛，西带秦蜀，南遮湖广，东瞰吴越。”A选项说法正确。赣州自古有“承南启北、呼东应西、南抚百越、北望中州”的区位优势，赣南史称“南抚百越，北望中州，据五岭之要会，扼赣闽粤湘之要冲”，C选项说法正确。浙江衢州，闽、浙、赣、皖四省边际中心城市，有“居浙右之上游，控鄱阳之肘腋，制闽越之喉吭，通宣歙之声势”之谓，D选项说法正确。B选项对应的城市是洛阳，而非南京。洛阳城雄踞“天下之中”，“东压江淮，西挟关陇，北通幽燕，南系荆襄”，人称“八方辐辏”“九州腹地”“十省通衢”。所以本题选B。

8.下列选项所描述的对象，哪一项与其他三项不同？(　　)

A. 挥毫掣电，随手万变

B. 池墨泼飞云，紫毫挥广宇

C. 湖光秋月两相和，潭面无风镜未磨

D. 恍恍如闻神鬼惊，时时只见龙蛇走

【解析】C。A项“挥毫掣电，随手万变”出自唐代学者吕总的《续书评》，描述的是怀素的狂草。B项出自我国当代著名学者、书画家杨宗霖的《记东楚网书家墨场》：“今闻东楚人，结网为书圃。池墨泼飞云，紫毫挥广宇。风流与我逢，狂草竞龙舞。一舞醉三回，消愁极千古。”该诗描述的对象是狂草。C项

“湖光秋月两相和，潭面无风镜未磨”出自于唐代刘禹锡的《望洞庭》，意思是洞庭湖的水光与秋月交相融和，水面波平浪静就好像铜镜未磨，描写的对象为洞庭湖。D项出自唐代李白的《草书歌行》“少年上人号怀素，草书天下称独步……忧忧如闻神鬼惊，时时只见龙蛇走……”，描述的也是怀素的狂草。因此本题答案为C。

9.一跨国企业计划7月份在全球两个大城市同期举办大型室外活动，为避免降雨影响活动效果，选择下列哪两个城市最为合理？（　　）

A. 北京和纽约　　B. 东京和马德里

C. 上海和伦敦　　D. 罗马和洛杉矶

【解析】D。本题主要考查城市气候类型。北京属于温带季风气候，特点是夏季高温多雨；纽约属于温带大陆性气候，降雨集中在夏季，A项错误。东京属于属温带海洋性季风气候，终年温和湿润，6月多梅雨，夏秋季多台风；马德里属大陆性气候，降水量少，主要集中在夏季，B项错误。上海属于亚热带季风气候，降水集中在夏季；伦敦属于温带海洋性气候，全年温和湿润，C项错误。罗马和洛杉矶都属于地中海气候，特点是夏季炎热干燥，冬季温和多雨，D项正确。所以本题选D。

10.下列情境不可能发生在19世纪的是（　　）。

A. 杰克打电话约玛丽一起去看电影

B. 史蒂芬逊乘火车到斯托克顿旅行

C. 约翰乘电梯登大楼楼顶拍照留念

D. 汤姆通过广播收听葛底斯堡演说

【解析】D。1895年，法国人卢米埃尔兄弟发明了电影；1875年，美国人亚历山大·贝尔发明了电话，1876年，第一部电话机在美国投入使用。A项可能发生。1814年，英国人斯蒂芬逊发明了火车，B项可能发生。1852年，美国人伊莱沙·格雷夫斯·奥的斯发明了世界第一台安全电梯，次年第一台安全电梯正式投入使用；1839年，法国人达盖尔制成了第一台实用的银版照相机。C项可能发生。广播是指通过无线电波或导线传送声音的新闻传播工具，诞生于20世纪20年代，所以D项不可能发生在19世纪。故本题选D。

11.下列对CPI（居民消费价格指数）的认识正确的是（　　）。

A. CPI是采用指数商品加权平均的方法算出来的

B. CPI反映一定时期内居民所购生活消费品的价格程度的绝对数

C. CPI用来分析消费品非零售价对居民生活费用支出的影响程度

D. CPI反映居民所购生活消费品的价值和服务项目价格变动趋势

【解析】A。CPI反映一定时期内居民所购生活消费品的价格程度的相对数，而不是绝对数，B项错误；CPI用来观察和分析消费品的零售价格和服务价格变动对城乡居民实际生活费用支出的影响程度，C项“非零售价”表述错误；CPI是反映一定时期内城乡居民家庭所购买的生活消费品的价格和服务项目价格变动趋势，D项“消费品的价值”表述错误，应为“消费品的价格”，A项说法正确。

12.关于这张古代作战图，下列说法正确的是（　　）。

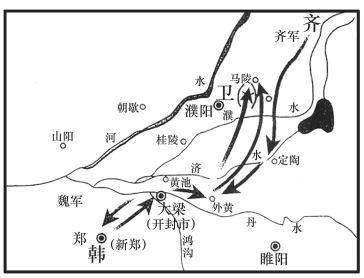

A. 战役发生在南北朝时期

B. 交战双方是齐国和韩国

C. 历史上称其为“马陵之战”

D. 孙膑、白起是交战双方的指挥者

【解析】C。图中出现了齐、卫、韩等国家，而南北朝中的南朝包含宋、齐、梁、陈四朝，北朝则包含北魏、东魏、西魏、北齐和北周五朝，A项错误；另外由图中出现的两支军队——齐军和魏军知交战双方应为齐国和魏国，B项错误；白起是战国时期秦国名将，另外孙膑与白起也不是同一时期之人，故D项错误；实际上图中表示的战役为“马陵之战”，发生于战国时期，交战双方是齐国和魏国，孙膑、庞涓是双方指挥者。

13.关于佛教、基督教和伊斯兰教，下列说法正确的是(　　)。

A. 都是一神论宗教

B. 都以亚洲为发源地

C. 基督教产生时间最早

D. 目前佛教信仰人数最多

【解析】B。基督教于公元1世纪起源于巴勒斯坦。伊斯兰教是公元7世纪初阿拉伯半岛麦加人穆罕默德所创的。佛教相传是公元前6—公元前5世纪，由古印度迦毗罗卫国王子释迦牟尼所创。三大宗教中，只有佛教是多神教，而基督教的信教人数最多。可知本题应选B项。

14.下列说法中正确的一项是(　　)。

A. 日光灯通过电流加热钨丝产生热量，继而产生光辐射来发光

B. 数码相机利用电子传感器技术，与普通相机记录图像的原理基本相同

C. 等离子电视显示器采用荧光粉显示屏幕，因而明亮度高于液晶电视

D. 激光打印机是把射到感光器材的图像转印到打印纸(或复印纸)上，其原理与复印机不同

【解析】D。日光灯通电后，管内电极通过汞蒸气放电而产生紫外线激发荧光物质发出可见光，A项是白炽灯的发光原理，A项不正确；数码相机是一种利用电子传感器把光学影像转换成电子数据的照相机，与普通照相机在胶卷上靠溴化银的化学变化来记录图像的原理不同，B项不正确；C项由于液晶电视采用的是背光源，可以通过多组光源提高亮度，而等离子电视依靠自身发光，很难把亮度提升，所以目前液晶电视在亮度上一般高于等离子。复印机的种类有很多，严格来说，与激光打印机原理是有差别的，D项正确。

15.作家萧伯纳说“人生有两大悲剧，一是没得到你心爱的东西，另一是得到了你心爱的东西”；学者周国平则说“人生有两大快乐，一是没有得到你心爱的东西，于是你可以去寻求和创造，另一是得到了你心爱的东西，于是你可以去品味和体验”。从哲学角度看，两个观点存在差异的主要原因是(　　)。

A. 追求真理是一个永无止境的认识过程

B. 价值判断和价值选择具有社会历史性特征

C. 人们的认识结果是由客体对主体的作用决定的

D. 意识对于客观事物的反映是主动的、有选择的

【解析】D。意识对客观世界的反映是主动的、有选择的，并不是客观世界有什么就反映什么，只有当人们的实践活动需要时，人们才会去主动地反映它。周国平与萧伯纳的观点不同在于人的意识在认识客观事物时会自觉选择对我们有利的认识，所以选择D选项。

16.世界大河中，与长江流向大致相同的是(　　)。

A. 尼罗河　　B. 印度河

C. 亚马孙河　　D. 伏尔加河

【解析】C。A、D两项所述的河流大体上都是由南向北的流向，B项印度河大体上是由东北向西南的流向，只有C项亚马孙河与长江的流向一样，都是自西向东。

17.关于我国的军衔制度，下列说法正确的是（　　）。

A. 士兵军衔肩章版面底色有棕绿色、天蓝色、黑色三种

B. 一般分帅、将、校、尉、士五个等级

C. 刘伯承、陈毅、粟裕等人曾被授予元帅军衔

D. 中国人民解放军第一次实行军衔制度是在 1949 年

【解析】A。A 选项所列描述是正确的，在我国，士兵军衔肩章分为三种底色，其中棕绿色为陆军使用颜色，天蓝色为空军使用颜色，黑色为海军使用颜色。B 选项中，有关“帅”这一军衔等级的描述是错误的，我国没有帅级军衔。C 选项中，粟裕没有被授予元帅军衔。D 选项中，中国人民解放军第一次实行军衔制度的年份应该为 1955 年。故本题应当选择 A。

18.下列影视剧情景设计符合历史常识的是（　　）。

A. 燕子丹与荆轲分坐八仙桌两侧，秉烛夜谈，谋划赴咸阳刺杀秦王计划

B. 毛泽东对李宗仁幽默地说：德邻先生，你这次归国，是误上了贼船啊

C. 魏征劝谏李世民时，说道：陛下当先天下之忧而忧，后天下之乐而乐

D. 越王勾践兵败后给吴王差夫当奴仆，以红薯充饥，每晚则睡在柴垛上

【解析】B。荆轲刺秦发生于战国时期，当时人们的起居方式是席地而坐，桌子于此时尚未出现。现在可考的八仙桌至少在辽金时代才出现，A 项错误。魏征、李世民均为唐朝人，而“先天下之忧而忧，后天下之乐而乐”出自北宋范仲淹的《岳阳楼记》，在唐代之后，C 项错误。勾践是春秋末期人物，而红薯在明朝万历十年才由吕宋（今菲律宾）引进中国，D 项错误。李宗仁，字德邻，原系国民党“代总统”，后因和谈未果出走美国，1965 年回到北京，受到毛泽东及其他中共领导的热烈欢迎。一般而言，称呼他人的字是表示对他的尊重。因此，本题选择 B。

19.2011 年 12 月中央经济工作会议提出“牢牢把握发展实体经济这一坚实基础”。下列产业中属于实体经济的是（　　）。

①房地产业　②仓储服务业　③旅游产业

④收藏业　⑤电信产业

A. ③⑤

B. ②③⑤

C. ①②③⑤

D. ①②③④⑤

【解析】B。实体经济是指物质的、精神的产品和服务的生产、流通等经济活动，包括农业、工业、交通通信业、商业服务业、建筑业等物质生产和服务部门，也包括教育、文化、知识、信息、艺术、体育等精神产品的生产和服务部门。与之相对的是虚拟经济，其主要集中于金融业、房地产业，也包括体育经济、博彩业、收藏业等。因此，本题选择 B。

20. 古人归纳总结出许多观天象识天气的谚语。下列与天气变化无关的谚语是（　　）。

A. 朝霞不出门，晚霞行千里

B. 天上鱼鳞云，地下雨淋淋

C. 东风是个精，不下也要阴

D. 百日连阴雨，总有一日晴

【解析】D。A、B、C 三项都是和天气变化有关的谚语，D 项“百日连阴雨，总有一日晴”的意思是逆境只是暂时的，总有峰回路转的那天，暗示不要失去信心，所以 D 项与天气变化无关，应选。

华图教育 HUATU.COM SINCE 2001

言语理解与表达易错易混真题集萃

1.改进作风涉及习俗、文化、制度、利益等方方面面，本身就是一场攻坚战。无论是克服_____的形式主义、官僚主义，还是打破思维定势、疗治沉疴顽疾，都需要有坚韧不拔的毅力。只有这样，才能_____，积小胜为大胜，取得让广大干部群众满意的成效。

依次填入画横线部分最恰当的一项是(　　)。

A. 固步自封　渐入佳境　　B. 老调重弹　稳操胜券

C. 抱残守缺　循序渐进　　D. 根深蒂固　稳扎稳打

【解析】D。首先看第一空，“无论是克服……还是打破思维定势、疗治沉疴顽疾，都需要有坚韧不拔的毅力”，关联词“无论……还是”前后两句为并列关系，因此，空缺处词语应与“沉疴顽疾”意义相一致，“沉疴顽疾”指久治不愈的病，观察选项，“固步自封”和“抱残守缺”指保守、守旧，“老调重弹”比喻把陈旧的理论和主张重新搬出来，均不符合文意，排除A、B、C项，“根深蒂固”形容根基深厚，与“沉疴顽疾”对应一致，且“根深蒂固”的东西更需要“坚韧不拔”的毅力去克服，符合文意。第二空，根据“积小胜为大胜”可知“稳扎稳打”符合句意。故答案为D选项。

2.资源为国家所有，资源开发不应成为暴利行业。可以大幅提高修复基金、生态补偿基金额度，作为_____，让有能力、有资质、负责任的企业成为开发主体，使其成为未来矿产开发的方向。与此同时，建立矿山生态终身追责机制、严厉打击私挖滥采，让_____者得不偿失，这样才能保障矿山资源的有序开发。

依次填入画横线部分最恰当的一项是(　　)。

A. 门槛　杀鸡取卵　　B. 标杆　寅吃卯粮

C. 壁垒　唯利是图　　D. 标准　暴殄天物

【解析】A。先看第一空，应该是把这种措施作为一种衡量的方法以甄选企业，据此排除B、C两项。“杀鸡取卵”比喻贪图眼前的好处而不顾长远利益；“暴殄天物”指任意糟蹋东西，不知爱惜。从前文的“生态终身追责体制”和后文的“保障矿山资源的有序开发”可知，应该是强调可持续发展，“杀鸡取卵”一词更为合适，故本题选A。

3.对于家长们来说，能够和孩子一起参与其中，亲身_____到孩子的进步，是一次难得的亲子活动经历。同时，他们也可以在训练营中受到_____，得到一些教育的灵感。

依次填入画横线部分最恰当的一项是(　　)。

A. 感触　启示　　B. 感悟　启蒙

C. 感受　启发　　D. 感觉　启迪

【解析】C。本题考点在于语境信息的考查。文段说的是家长和孩子一起参与训练营活动的收获。第一空，A项“感触”指跟外界事物接触而引起的思想情绪，不能跟“进步”搭配，排除。D项“感觉”一般不用“亲身”修饰，排除。第二空，B项“启蒙”是指使初学的人得到基本的、入门的知识；一般指向的对象为初学者或蒙童，用在家长身上不合适。“启发”是指阐明事例，引起对方联想而有所领悟。用在此处恰当，且可与后文的“得到灵感”相呼应。故本题选C。

4.发展经济并没有错，有效利用文化资源带动当地社会发展也是很好的尝试。但倘若不论真伪，抑或不顾文化自身的形态，_____、强行落地，旅游未必能够发展起来，反而可能_____。它所反映出来的，恰恰是对文化缺乏认识、对建设缺乏创新的“啃古”心态。

依次填入画横线部分最恰当的一项是(　　)。

A. 牵强附会　劳民伤财　　B. 曲意逢迎　适得其反

华图教育 HUATU.COM SINCE 2001

C. 偷梁换柱　进退维谷　　D. 附庸风雅　无所适从

【解析】A。由第一空后的顿号可知，第一空所填词语与“强行落地”为并列关系，意义相近，而由前文的“不顾文化自身的形态”可知，该词语应有“强行”“勉强”之意。A 项“牵强附会”表示把关系不大的事物勉强地扯在一起，符合文意；第二空表示如果强行发展经济不仅旅游发展不起来，反而还有可能出现不好的结果，“劳民伤财”用于此处符合文意，答案选 A。

成语释义：

牵强附会：把关系不大的事物勉强地扯在一起。

曲意逢迎：违背自己的意愿去曲从别人。

偷梁换柱：比喻暗中玩弄手法，以假代真，以劣代优。

附庸风雅：指为了装点门面而结交名士，从事有关文化的活动。

5.托马斯·弗里德曼认为获取信息的_____性改变了人类的思考方式，就好像计算器发明以后计算好的人不再占明显优势，记忆力好也不再作为评判人聪明的_____标准。

依次填入画横线部分最恰当的一项是(　　)。

A. 便捷　必然　　B. 公平　客观

C. 对称　绝对　　D. 广泛　首要

【解析】B。此题具有一定的迷惑性，很多考生选择 A，因为“就好像计算器发明以后计算好的人不再占明显优势”很容易推出“便捷性”这一答案，其实不然，题干中“计算好的人不再占明显优势”“记忆力好也不再作为评价人聪明的标准”，很显然，强调的是一种机会的平等，即“公平”。所以选择 B 选项。由第二空也可以确定正确选项。“必然”、“绝对”、“首要”都将记忆力视为评判人聪明的重要标准，这点在语句中是无从体现的。B 项的“客观”只是说明记忆力是评判人聪明的标准之一，这和语句表达的意思相一致。

6.卡夫卡生活在世界形势激烈动荡的时期，他看到西方社会的内在危机，但无法找到解决这些危机的出路。他孤独、苦恼，_____，心情十分矛盾。他的小说大多描写人的孤独和犯罪心理，或人在重重压迫下掌握不了自己命运以致异化的现象，内容_____。

依次填入画横线部分最恰当的一项是(　　)。

A. 自怨自艾　怪诞离奇　　B. 垂头丧气　荒谬绝伦

C. 怨天尤人　光怪陆离　　D. 愤世嫉俗　荒诞不经

【解析】A。根据横线前的词语“孤独、苦恼”可知这些都是作者内心的感受，并未涉及外部环境，排除 C、D 项。而“垂头丧气”显然与语境不符，故应选择“自怨自艾”，表示不断反省自己的过失并加以改正。后一空是形容卡夫卡小说的特点，他的小说反映的是资本主义社会中普遍存在的、人掌握不了自己的命运以致“异化”的现象，是“怪诞”而非“荒诞”，用“怪诞离奇”比较恰当。故本题选 A。

7.事业的成败往往不只取决于人才的_____，还在于人才的有效使用。世上只有_____的人，而没有无用的人，问题的关键在于如何使用人才。

依次填入画横线部分最恰当的一项是(　　)。

A. 多寡　失意　　B. 得失　错位

C. 优劣　失败　　D. 高低　误用

【解析】B。根据“还在于人才的有效使用”一句可知，前一句应为“有效使用”的前提，即拥有人才，且人才没有“优劣”“高低”之分，排除 C、D 项。本题并非强调人才的数量，故选择“得失”一词。再看第二空，与“无用”相对应的应该是“错位”，而非“失意”，故本题选 B。

8.根据历史上的真人真事进行文艺创作时，为了使人物表现得更为_____，可以对人物进行符合本身和时代背景的“适当”创作，但是大的历史事实、人物命运、主要矛盾、重要事件都必须符合历史，不能对历史人物的“人生层面”进行_____和歪曲。

华图教育 HUATU.COM SINCE 2001

依次填入画横线部分最恰当的一项是(　　)。

A. 完整　杜撰　　B. 真实　虚构

C. 形象　改编　　D. 丰满　臆造

【解析】D。材料第一个空格后边提到对人物进行“适当”创作,语境照应意味着合理地加工,所以可以使人物更丰满更有血有肉的。“完整”是不片面,“真实”是不虚假,都不合意思。第二个空格的词语和“歪曲”构成并列关系,从色彩上看应是个贬义词,“臆造”是无根据的创造,属于贬义词,而“改编”是个中性词,所以应择D项。

9.唐朝中期以后,帝国再次陷入激烈的持续动荡,农民起义和藩镇割据成了唐帝国后叶的_____。最终,中国进入了50余年的五代十国大分裂时期。看起来,黄河文明似乎已经_____。但是,为什么中国的文明没像古埃及和古巴比伦那样彻底衰亡,而是_____,一直延续至今呢?

依次填入画横线部分最恰当的一项是(　　)。

A. 主题　危在旦夕　薪尽火传

B. 主线　岌岌可危　柳暗花明

C. 主调　危机四伏　重振旗鼓

D. 主流　危如累卵　涅槃重生

【解析】A。本题可以根据第三空进行排除。“薪尽火传”比喻一代一代传下去。“柳暗花明”比喻在困难中遇到转机。“重振旗鼓”比喻失败后整顿再起。“涅槃重生”比喻经历痛苦的考验之后获得重生,并在重生中达到升华。根据语境意思,唐代灭亡后,中国进入了五代十国的大分裂时期,黄河文明看上去似乎要断绝了,但实际上它并没有衰亡,“而是”引导相反关系,所以第三个空格意思是代代相传,一直延续至今,故应选择“薪尽火传”。本题选A。“危在旦夕”形容危险就在眼前。“危机四伏”比喻到处隐藏着危险的祸根。“岌岌可危”形容非常危险,快要倾覆或灭亡。“危如累卵”比喻形势非常危险,如同堆起来的蛋,随时都有塌下打碎的可能。“主题”广义上指题材概念,是社会生活或现象的某一方面,如战争主题,其符合题意。“主线”指的是主要脉络。“主调”是指主要的基调。“主流”是指事物发展的主要趋向。

10.以往关于网络提速与降价的讨论中,舆论多从运营商和消费者博弈的角度切入,聚焦低网速、高收费对于公众生活的影响,使用的是服务者义务和消费者权利的说理逻辑。此次却提供了一个新的观察视角,即低质量、高成本的宽带服务潜在地阻止了社会信息化的进程。在现代信息社会的运行中,宽带建设具有基础设施的意义,是知识型经济、网络化社会、数字化生活、服务型政府最起码的物理支撑。没有一个高速度、高水平的宽带环境,信息交流的效率会滞后、科技创新的成本会增加,信息化社会的发育和创新型社会的成长自然会受到束缚。

这段文字意在说明(　　)。

A. 宽带建设应该成为信息化社会的基石

B. 以往关于网络提速与降价的讨论存在误区

C. 网络运营商的服务质量应走在服务业的前列

D. 信息交流效率的提高有赖于宽带环境的改善

【解析】A。意图判断题。文段为“分—总—分”的行文脉络,第三句为主旨句,即“在现代信息社会的运行中,宽带建设具有基础设施的意义”,A项为其同义表达。文段中并未提及过去关于网络提速与降价的讨论是否存在问题,B项表述与文意不符,排除;C项“走在服务业的前列”在文段中并未提及,排除;D项“信息交流效率的提高”只是宽带环境的改善的成效之一,并非文段核心内容,排除。故本题选A。

11.文学走进互联网,获得了一个崭新的平民化开放视野;网络上自由、兼容和共享的虚拟空间,打破了精英写作对文学话语权的垄断,为愿意上网创作的网民提供了“人人都能当作家”的机会。这种“新民间文学”,标志着文学话语权向民间回归。尽管如此,网络写作仍然不能与“人民写作”相提并论,因为文学的“人民写作”并不取决于传媒的公共性和参与的广泛性,而取决于这种文学的人民性价值取向和为广

大民众喜闻乐见的审美品格。

这段文字主要说的是(　　)。

A. 大众化是未来文学发展的趋势

B. 文学创作应坚持人民性的价值取向

C. 网络写作为普通人提供了平等的话语权

D. 平民化的网络文学不能等同于“人民写作”

【解析】D。文段为“分—总”结构,首先肯定了互联网写作的优势,接着用转折连词“尽管”引出文段主旨,即网络写作仍然不能与“人民写作”相提并论,最后一句说的是二者不能相提并论的原因,所以整个文段主要说明的是网络文学不能等同于“人民写作”,D项正确。A项,文段没有提到未来文学的发展趋势,排除;B项,文段最后一句提到了人民性价值取向,但这句话只是为了说明“人民写作”与网络写作的不同,是为主旨服务的,并不是主旨所在;C项,只提到了网络写作,比较片面。故本题正确答案为D。

12.“微创新”,这个概念正在成为中国企业尝试的新方向。今天的技术革新在很多时候已经不再是颠覆性的更新换代,任何针对用户体验的微小改变,都可能引爆整个市场。微博就可以看作是在博客基础上的微创新,用140个字拉低了用户门槛,迅速引发了全民微博潮。对于习惯了模仿的企业来说,如何不让微创新成为“山寨”的代名词,是问题的关键,特别是在互联网领域,像团购这样的一窝蜂现象屡见不鲜,然而其中很难看到“微创新”在发挥作用。

这段文字用“团购”来说明(　　)。

A. 盲目从众的现象　　B. 更新换代的趋势

C. 复制与模仿的作法　　D. 集体相约采购的行为

【解析】C。文段开头引出“微创新”的话题,并举出微博的例子来说明微创新的巨大作用,接着又提到对于模仿来说如何避免“山寨”才是关键,并举了“团购”一窝蜂现象屡见不鲜的例子来说明这样的模仿并没有体现“微创新”的作用,C项即为用“团购”来说明的内容。因此,本题答案为C。

13.20世纪初普朗克、波尔等物理学家共同创造了量子力学,它与相对论一起被认为是现代物理学的两大基本支柱。量子力学的发展,革命性地改变了人们对物质的结构及其相互作用的认识。借助量子力学,许多现象才得以真正地被解释,新的、无法凭直觉想象出来的现象被预言,接着又被验证。量子力学等理论的诞生,对于推动世界文明进步具有十分深远的意义。这些耗时多年的基础研究成果,其科学价值是无可估量的,绝不是用“有没有用”这样的简单标准就能衡量的。

这段文字意在强调(　　)。

A. 科学研究需要长期积累

B. 量子力学对现代物理学意义重大

C. 基础研究不应急功近利

D. 科学价值无法用量化指标来衡量

【解析】C。文段前四句共同表达了量子力学的重要作用。最后一句,用宏观指代词“这些”对前文进行了概括,阐释了最终结论,即“这些耗时多年的基础研究成果,其科学价值是无可估量的,绝不是用‘有没有用’这样的简单标准就能衡量的”。由此可知,结论的主体为“基础研究成果”,文段意在强调基础研究成果不能只看暂时“有没有用”,要看长远影响。同义替换为:基础研究不应急功急利。C项正确。B、D两项存在一定的干扰性。B项的主体是“量子力学”,但是在文段中,“量子力学”只是一个具体的例子,并不是文段意在强调的重点,B项排除。D项中的“量化指标”在原文当中并未提及,属无中生有,排除。因此,本题答案为C。

14.“黑马”一词其实是从英语舶来的,原指体育界一鸣惊人的后起之秀,后指实力难测的竞争者或在某一领域独树一帜的人,无贬义或政治含义。首先在英文中使用“黑马”的人,是英国前首相狄斯累利,他在一本小说中这样描写赛马的场面:“两匹公认拔尖的赛马竟然落后了,一匹‘黑马’,以压倒性优势飞奔。

看台上的观众惊呼：‘黑马！黑马！’”从此，“黑马”便成了一个有特殊意义的名词。

这段文字的主要意思是（　　）。

A. 论证“黑马”词义的起源　　B. 阐释“黑马”一词的内涵

C. 分析“黑马”词义的演变　　D. 介绍“黑马”的感情色彩

【解析】A。文段第一句指出“黑马”一词的起源和内涵。接下来的内容是对“黑马”词源的具体描述和论证，可见整个文段都是在讲“黑马”词义的起源。阐释“黑马”一词的内涵是为了论证其起源，C 项，文段没有涉及“黑马”词义的演变。D 项是文段的部分内容。故本题选 A。

15.随着全球肉类产量的进一步增加，畜牧业对全球温室效应的影响也会增长。目前，畜牧业用地已经占到地球土地面积的 30%。作为农业增长最为迅速的一个门类，畜牧业还会占用更多的土地用来生产饲料和放牧。在拉丁美洲，为给牧场腾出空间，已经有 70%的森林遭到砍伐。目前畜牧业对全球 825 个陆地生态区中的 306 个造成了威胁，并且威胁到 1699 个濒危物种。

这段文字意在说明（　　）。

A. 应严格控制畜牧业发展　　B. 畜牧业造成的污染严重

C. 畜牧业发展面临的瓶颈　　D. 发展畜牧业的环境代价

【解析】D。这是一道并列结构的主旨题，五句话分别描述了畜牧业对温室效应、土地、森林、陆地生态区的消极影响，概括其共同点，只有“环境代价”适合，A 项过度推理，B 项是局部信息，C 项无中生有。

16.网络时代是一个“信息过剩而注意力稀缺”的时代。以网络为基础的当代经济的本质是“注意力经济”，在这种经济形态中，最重要的资源是注意力，因此在互联网上如何吸引注意力成为一个非常重要的问题。网络时代对注意力的经济价值的强调无疑是必需的，但如果忽视了对吸引注意力的道德评价和精神意义，就会导致对注意力缺乏应有的人文关怀和起码的尊重，以致于会有人利用网络手段的便捷性和隐匿性，通过不实和不良信息去浪费、污染、践踏他人的注意力，这无疑也是一种严重的精神伤害。根据这段文字，可以看出作者的意图是（　　）。

A. 呼吁网络时代要善用注意力，珍视其精神和文化价值

B. 强调网络时代如何吸引注意力是创造经济价值的关键

C. 强调网络时代忽略了对吸引注意力的道德评价

D. 呼吁应加强对网络注意力污染和扭曲的管理

【解析】A。本文前面主要强调的是“因此在互联网上如何吸引注意力成为一个非常重要的问题”。后面通过假设句指出“忽视了对吸引力的道德评价和精神意义”会造成的后果——对注意力缺乏应有的人文关怀和尊重，进而会形成“一种严重的精神伤害”，可见文段是在强调注意力精神方面的价值，所以 B 项是错误的。文段“道德评价和精神意义”是并列的语义，C 项强调一面显然不对。D 中“对网络注意力污染和扭曲的管理”过度引申，因此，本题选 A。

数量关系易错易混真题集萃

1.李主任在早上 8 点 30 分上班之后参加了一个会议，会议开始时发现其手表的时针和分针呈 120 度角，而上午会议结束时发现手表的时针和分针呈 180 度角。问在该会议举行的过程中，李主任的手表时针与分针呈 90 度角的情况最多可能出现几次？（　　）

A. 4　　B. 5

C. 6　　D. 7

【解析】A。8:30 后时针和分针第一次呈 120 度角约在 9:05 左右，而 12:00 之前最后一次呈 180 度角约在 11:25 左右，9:05 至 10:00 时针和分针呈 90 度角只有 1 次，10:00 至11:00时针和分针呈 90 度角

有2次，11:00至11:25时针和分针呈90度角只有1次，因此会议举行过程中时针和分针呈90度角最多出现4次。本题选择A项。

2.A地到B地的道路是下坡路。小周早上6:00从A地出发匀速骑车前往B地，7:00时到达两地正中间的C地。到达B地后，小周立即匀速骑车返回，在10:00时又途经C地。此后小周的速度在此前速度的基础上增加1米/秒，最后在11:30回到A地。问A、B两地间的距离在以下哪个范围内？（　　）

A. 40～50公里　　B. 大于50公里

C. 小于30公里　　D. 30～40公里

【解析】A。由题干可得，小周由A地到B地是匀速前往，因此到B地时应该是8:00，由此可知，小周由B地返回的时间是8:00，10:00到达中点C地，故按原速度，小周应该在12:00到达A地。然而，在由C地到A地时，小周每秒多骑了1米，1小时就多骑了3600米，由C地到A地共花了1.5小时，因此共多骑了3600×1.5＝5400(米)，这5400米按原速度应该花0.5小时骑完，因此原速度为(5400÷0.5)米/小时，原计划是8:00返回，12:00到达，可知路程为5400÷0.5×4＝43200(米)＝43.2(公里)。本题选择A项。

3.某单位原有几十名职员，其中有14名女性。当两名女职员调出该单位后，女职员比重下降了3个百分点。现在该单位需要随机选派两名职员参加培训，问选派的两人都是女职员的概率在以下哪个范围内？（　　）

A. 小于1%　　B. 1%～4%

C. 4%～7%　　D. 7%～10%

【解析】C。设该单位原有x名职员，根据题意可列方程$\frac{14}{x}=\frac{12}{x-2}+3\%$，整理可得$3x^2-206x+2800=0$，将方程左边分解因式可得$(x-50)(3x-56)=0$，结合已知条件“某单位原有几十名职员”可知只有$x=50$满足题意。则所求概率为$\frac{C_{12}^2}{C_{48}^2}=\frac{12\times11}{48\times47}=\frac{11}{4\times47}<\frac{11}{4\times44}=\frac{1}{16}=6.25\%$，即所求概率在4%～7%这个范围内。本题选择C项。

4.将一个8厘米×8厘米×1厘米的白色长方体木块的外表面涂上黑色颜料，然后将其切成64个棱长1厘米的小正方体，再用这些小正方体堆成棱长4厘米的大正方体，且使黑色的面向外露的面积要尽量大，问大正方体的表面上有多少平方厘米是黑色的？（　　）

A. 88　　B. 84

C. 96　　D. 92

【解析】A。白色长方体可以看做64个小正方体平铺，由4个角，24个棱和36个中间小正方体构成，角上的4个小正方体有4个面被刷成了黑色，棱上的24个小正方体连续的3个面被刷成了黑色，中间的36个小正方体相对的2个面被刷成了黑色；拼成的大正方体有8个角，24个棱和24个单面，拼接时有4个角需用之前棱上的小正方体替换，每替换一次缺一个黑色面，角上共缺了4个；由于4个棱上的正方体替换到了角上，此时棱上又少了4个小正方体，需用对面为黑色的小正方体替换，每替换一次缺一个黑色面，棱上共缺了4个。大正方体的表面积为4×4×6＝96平方厘米，大正方体的表面上共有96－4－4＝88平方厘米是黑色的。因此，本题选A。

5.甲、乙、丙、丁四个人分别住在宾馆1211、1213、1215、1217和1219这五间相邻的客房中的四间里，而另外一间客房空着。已知甲和乙两人的客房中间隔了其他两间客房，乙和丙的客房号之和是四个人里任意二人的房号和中最大的，丁的客房与甲相邻且不与乙、丙相邻。则以下哪间客房可能是空着的？（　　）

A. 1213　　B. 1211

C. 1219　　D. 1217

华图教育 HUATU.COM SINCE 2001

【解析】D。代入排除验证即可。代入D项，若1217为空房，由甲、乙中间隔了2个房间可知，甲、乙房间号有两种情况：①甲1213，乙1219；②甲1219，乙1213。但是通过条件“乙和丙的客房号是四个人中任意二人房号中最大的”可排除第②种情况，且继而能推出丙1215，则丁的房间号是1211，满足已知的剩余条件“丁的客房与甲相邻且不与乙、丙相邻”。其余选项代入后均不满足要求。正确答案如下图所示：

1211	1213	1215	1217	1219
丁	甲	丙		乙

注意：1215客房空着也可以满足题目要求，但不在选项中，所以不考虑。

6.现要在一块长25公里、宽8公里的长方形区域内设置哨塔，每个哨塔的监视半径为5公里，如果要求整个区域内的每个角落都能被监视到，则至少需要设置多少个哨塔？（　　）

A. 7　　B. 6

C. 5　　D. 4

【解析】C。几何构造类。如下图所示，每个半径为5的圆形（F为圆心）可覆盖一个长为8公里、宽为6公里的小长方形。4个圆形不能完全覆盖整个长方形区域，故至少设立需要5个哨塔。

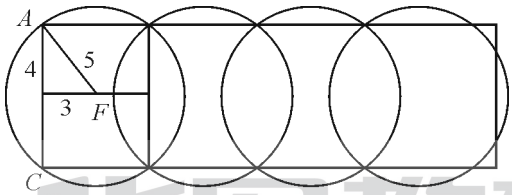

7.甲、乙两名运动员在400米的环形跑道上练习跑步，甲出发1分钟后乙同向出发，乙出发2分钟后第一次追上甲，又过了8分钟，乙第二次追上甲，此时乙比甲多跑了250米，问两人出发地相隔多少米？（　　）

A. 200　　B. 150

C. 100　　D. 50

【解析】B。方法一：设甲与乙的速度分别为$v_{甲}$和$v_{乙}$，由题意，从乙第一次追上甲到第二次追上甲，二者的路程差为400米，可得$400=(v_{乙}-v_{甲})\times 8$，解得两人速度差为50米/分。由于甲一共跑了11分钟，乙一共跑了10分钟，在后10分钟内，乙比甲多跑了$50\times 10=500$（米）；由于乙全程比甲多跑250米，故甲最开始的1分钟跑了250米；又根据乙2分钟时第一次追上甲，可得在这3分钟内乙比甲多跑了为$50\times 2=100$（米）。故两人最初相距$250-100=150$（米）。

方法二：直接分析，在两人第一次相遇到第二次相遇的过程中，乙比甲多跑了400米，故在最开始的2分钟内甲比乙多跑$400-250=150$（米），即两人出发时相距150米。

8.某学校组织学生春游，往返目的地时租用可乘坐10名乘客的面包车，每辆面包车往返的租金为250元。此外，每名学生的景点门票和午餐费用为40元，如要求尽可能少租车，则以下哪个图形最能反映平均每名学生的春游费用支出与参加人数之间的关系？（　　）

A.
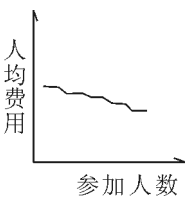

B.
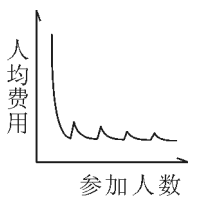

华图教育 HUATU.COM SINCE 2001

C. 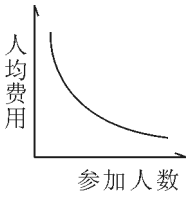

D. 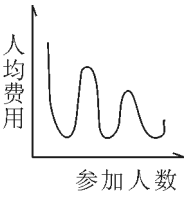

【解析】B。分段表示平均费用和总人数之间的关系，设人数为 x，平均费用为 y。当人数 x 在(0，10]之间时，则 $y=(250+40x)\div x=\frac{250}{x}+40$，这是一个双曲线方程，其右端点 $x=10$ 时，$y=65$。当 x 在(10，20]之间时，平均费用为 $y=(500+40x)\div x=\frac{500}{x}+40$，其左端点 $x=11$ 时，$y=85.5$，明显大于上一个区间的曲线的右端点，且为激增。之后的(20，30]、(30，40]等区间与此类似，故答案选择 B 选项。

9. $\frac{1}{3^2-1}+\frac{1}{5^2-1}+\frac{1}{7^2-1}+\cdots+\frac{1}{(2n+1)^2-1}+\cdots=$（　　）。

A. $\frac{1}{4}$　　B. 1

C. $\frac{1}{2}$　　D. 无法计算

【解析】A。代入公式：原式 $=\frac{1}{(3-1)\times(3+1)}+\frac{1}{(5-1)\times(5+1)}+\cdots+\frac{1}{(2n+1-1)\times(2n+1+1)}+\cdots=\frac{1}{2\times4}+\frac{1}{4\times6}+\frac{1}{6\times8}+\cdots+\frac{1}{2n\times(2n+2)}+\cdots=\lim\limits_{n\to\infty}(\frac{1}{2}-\frac{1}{2n+2})\times\frac{1}{2}=\frac{1}{4}$

华图教育 HUATU.COM SINCE 2001

10.训练时，若干新兵站成一排，从一开始报数，除了甲以外其他人报的数之和减去甲报的数恰好等于 50。请问共有多少名新兵？（　　）

A. 10　　B. 11

C. 12　　D. 13

【解析】B。假设一共有 n 名新兵，甲为第 m 位新兵，根据题意：

$50=[1+2+\cdots+(m-1)+(m+1)+\cdots+(n-1)+n]-m=[1+2+\cdots+(n-1)+n]-2m=\frac{n(1+n)}{2}-2m$

然后我们将选项一一代入，如果 $n=10$，代入上式，$m=2.5$（排除）。

如果 $n=11$，代入上式，$m=8$（满足条件，即一共有 11 人，甲为第 8 人），选择 B。

【点睛】我们将后两个选项代入：如果 $n=12$，则 $m=14$；如果 $n=13$，则 $m=20.5$，显然都不满足条件。但实际考试的时候我们只需要得到一个正确答案就能排除其他选项。

11.在一个正六边形 $ABCDEF$ 上(如图)，小明从 A 点开始跳动，他每次可以随意跳到相邻两个顶点中的一个上，一旦跳到 D 点就停止跳动。那么他在 6 次之内(含 6 次)跳到 D 点，有多少种不同的跳法？（　　）

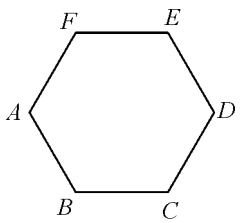

A. 5　　B. 6

C. 7　　D. 8

【解析】D。从 A 点到 D 点最少需要 3 次，而且大于 3 次小于 6 次的话，只可能是 5 次：

(1)若 3 次到达 D 点，则有两种线路，即 $AFED$ 和 $ABCD$，共有 2 种；

(2)若 5 次达到 D 点，则在一个环节上重复了 1 次。在 $AFED$ 线路上，可以在 AF 和 FE 重复，共 2 种；在 $ABCD$ 线路上，可以在 AB 和 BC 重复，共 2 种；还可以重复 AF，然后继续 $ABCD$，或者重复 AB，然后继续 $AFED$，共 2 种。

因此共有 2+2+2+2=8(种)跳法，所以选择 D 选项。

12.有 5 对夫妇参加一场婚宴，他们被安排在一张 10 个座位的圆桌就餐，但是婚礼操办者并不知道他们彼此之间的关系，只是随机安排座位。问 5 对夫妇恰好都被安排在一起相邻而坐的概率是多少？(　　)

A. 在 1‰到 5‰之间　　B. 在 5‰到 1%之间

C. 超过 1%　　D. 不超过 1‰

【解析】A。5 对夫妇随机就座一共有 A_{10}^{10} 种情况，这个是概率的分母。下面我们考虑 5 对夫妇恰好被安排相邻的情况，我们将座位按顺序编号为 1—10，逐步考虑这个问题：

(1)座位成对的情况有两种，即 1+2、3+4、5+6、7+8、9+10 和 2+3、4+5、6+7、8+9、10+1 这两种；

(2)5 对夫妇随机选择这 5 对座位，有 A_5^5 种情况；

(3)每对夫妇两个人可以互换座位，有 2×2×2×2×2=32(种)情况。

所以这个概率应该为：$\frac{2\times A_5^5\times 32}{A_{10}^{10}}=\frac{2}{945}\approx 2‰$，选择 A。

【点睛】有考生看到本题时，会想到前面的“重复剔除型”模型，但前面围成一圈是没有座位的，而这里是有座位的，这时并没有重复的情形。当然我们可以把这个题目转化成没有座位的情形，那么“满足条件的情况数”和“总情况数”同时有重复，都需要除以重复的情况数，两者相抵，答案与此一样。

13.调研人员在一次市场调查活动中收回了 435 份调查问卷，其中 80%的调查问卷上填写了被调查者的手机号码。那么调研人员至少需要从这些调查表中随机抽出多少份，才能保证一定能找到两个手机号码后两位相同的被调查者？(　　)

A. 101　　B. 175

C. 188　　D. 200

【解析】C。题目要求保证：两个手机号码后两位相同。手机号码后两位共有 10×10=100(种)不同组合，因此最不利情形：抽中了 435×20%=87(份)没有填写手机号码的问卷，再抽中了 100 份手机号后两位各不相同的问卷，总共 87+100=187(份)。答案 187+1=188。

14.有一只怪钟，每昼夜设计成 10 小时，每小时 100 分钟。当这只怪钟显示 5 点时，实际上是中午 12 点，当这只怪钟显示 8 点 50 分钟，实际上是什么时间？(　　)

A. 17 点 50 分　　B. 18 点 10 分

C. 20 点 04 分　　D. 20 点 24 分

【解析】D。当一昼夜过去时，正常的钟表走了(24×60)分钟，怪钟走了(10×100)分钟。那么怪钟显示 8 小时 50 分时应该走了(8×100+50)分钟，假设正常时间应该是 x 点 y 分，那么就应该走了$(60x+y)$分。根据比例关系：$(24\times 60):(10\times 100)=(60x+y):(8\times 100+50)\Rightarrow 60x+y=1224=20\times 60+24$，即现在应该是 20 点 24 分。

15.我国农历中以天干、地支的搭配来纪年，其中十天干为甲、乙、丙、丁、戊、己、庚、辛、壬、癸；十二地支为子、丑、寅、卯、辰、巳、午、未、申、酉、戌、亥。搭配的方式是：在天干中和地支中依次各取一字搭配来

纪年，例如 1920 年是庚申年，下一年的天干为辛，地支为酉，故 1921 年，也就是中国共产党成立的这年，是辛酉年。那么，中国共产党成立后的下一个辛酉年是公元(　　)年。

A. 1981　　B. 1991

C. 2000　　D. 2001

【解析】A。天干的周期为 10，地支的周期 12，最小公倍数 60 即为总周期，所以下一个辛酉年为 1921＋60＝1981(年)。

16.有一路公交车从甲站开往乙站，每五分钟发一趟，全程共 15 分钟。有一人从乙站骑自行车沿公交路线去甲站。出发时，恰好有一辆公交车到达乙站，在路上他又遇到 10 辆迎面开来的公交车，到站时恰好有一辆公交车从甲站开出。那么他从乙站到甲站共用多少分钟？(　　)

A. 40　　B. 45

C. 48　　D. 50

【解析】A。假设这个人是 8:00 出发的，这时他看到的第 1 辆车刚到乙站，这辆车是 15 分钟之前出发的，即 7:45 出发的。以这辆车为第 1 辆，路上还看到 10 辆，然后到达时又看到 1 辆，说明最后 1 辆应该是第 12 辆，第 1 辆和第 12 辆的出发时间应该相差 11 个间隔，即 55 分钟，7:45 之后 55 分钟应该是 8:40，说明这个人 8:40 到达终点，一共用了 40 分钟。

判断推理易错易混真题集萃

1.把下面的六个图形分为两类，使每一类图形都有各自的共同特征或规律，分类正确的一项是：

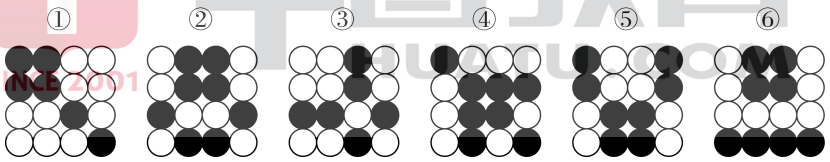

A. ①③④，②⑤⑥　　B. ①④⑥，②③⑤

C. ①②④，③⑤⑥　　D. ①③⑥，②④⑤

【解析】A。观察题目图形，黑色圆与白色圆的数量无规律，则考虑图形整体形状的规律。进一步观察可知，①③④图形的对称轴方向均为从左上到右下，②⑤⑥图形的对称轴方向均为竖直。故本题选 A。

2.从所给四个选项中，选择最合适的一个填入问号处，使之呈现一定规律性：

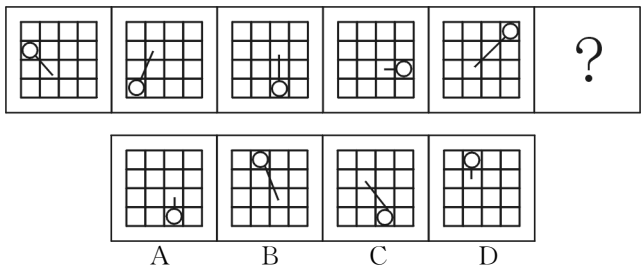

【解析】D。小圆圈沿着外圈方格逆时针移动，每次两格；另一头的线条端点沿着方格内圈顺时针移动，每次一格。因此答案是 D。

3.请从所给的四个选项中，选出最符合左边五个图形一致性规律的选项：

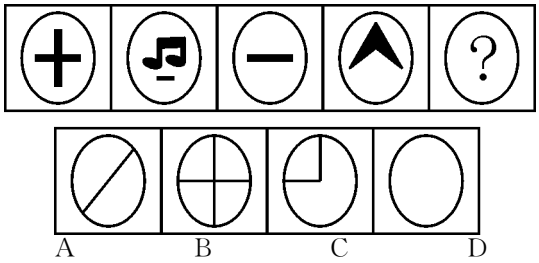

A　　B　　C　　D

【解析】D。本题属于样式类，每个图均只含有1个封闭空间。所以选择D选项。

4.从所给的四个选项中，选择最合适的一个填入问号处，使之呈现一定的规律性：

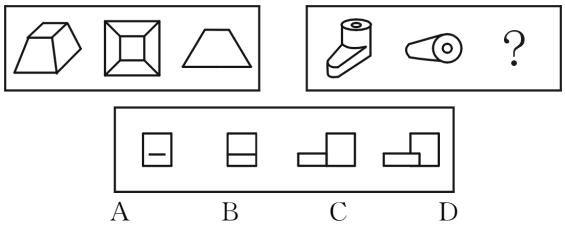

A　　B　　C　　D

【解析】A。本题属于空间类，规律是从不同角度观察图形所能得到的各种形状。第一组图形的第二、三个图形分别是第一个图形的俯视图和平视图。第二组图形的问号处应是第一个图形的平视图，所以选择A选项。

【点睛】误选B，内部的线条不能完全与左右相连；误选C或D项，第二套第一个图是两面相切关系，平面是光滑过渡到圆柱面，视图上下应画出切线，正确画法如图：

5.图灵测试是指测试者在与被测试者（一个人和一台机器）隔开的情况下，通过一些装置（如键盘）向被测试者随意提问。问过一些问题后，如果被测试者有超过30%的答复不能使测试者确认出哪个是人、哪个是机器，那么这台机器就通过了测试，并被认为具有人类智能。

根据上述定义，以下哪项中的测试一定通过了图灵测试？（　　）

A. 对机器甲40%的答复所有人都确认其为机器

B. 对机器乙60%的答复测试者能确认其为机器或人

C. 对机器丙30%的答复有90%的某小区居民确认其为机器

D. 对机器丁30%的答复只有10%的某校大学生不能确认其为机器

【解析】B。图灵测试通过的要求为：超过30%的答复不能使测试者确认出哪个是人、哪个是机器。A项，对于机器甲40%的答复可以使人确认其为机器人，即有60%的答复为人或不能确认，但不能确认的比例是多少无从得知，因此机器甲不一定通过图灵测试；B项机器乙60%的答案确认其为人或机器，则40%的答复是无法确认为人或机器，则机器乙通过图灵测试；C、D两项均无法得出超过30%的答复不能使测试者确认为机器，不能确定是否通过图灵测试。故本题选B。

6.隐域性是指自然地理现象在受到局部的地形、水文、土壤、气流、洋流、季风等因素的影响下，在地球表面不按或偏离纬向地带性规律分布的特性，它使地带性分布规律变得不鲜明，使自然环境变得更具复杂性与多样性。

以下属于隐域性分布的是（　　）。

A. 关汉卿《窦娥冤》中描写的“六月飞雪”

B. 余秋雨所描写的丝绸之路上的“月牙泉”

C. 岑参在诗中所描述的“北风卷地白草折”

D. 电影《木乃伊归来》中所出现的大沙漠

【解析】B。定义的主体是“自然地理现象”，关键信息是“使地带性分布规律变得不鲜明，使自然环境变得更具复杂性与多样性”。A 选项，《窦娥冤》中描写的“六月飞雪”不属于自然地理现象，排除。B 选项，丝绸之路上的“月牙泉”，是在沙漠中出现的绿洲，符合定义。C 选项，“北风卷地白草折”是正常的气候现象，未体现“使地带性分布规律变得不鲜明”，排除。D 选项，未体现出“使自然环境变得更具复杂性与多样性”，不符合定义，排除。因此本题答案为 B。

7.前瞻：预见：回溯

A. 深谋远虑：未雨绸缪：鼠目寸光

B. 标新立异：特立独行：循规蹈矩

C. 犬牙交错：参差不齐：顺理成章

D. 墨守成规：井然有序：纷乱如麻

【解析】B。前瞻与预见为近义词，而回溯与前两者为反义词。B 项，标新立异指提出新奇的主张，表示与一般不同，特立独行形容有操守、有见识，不随波逐流，二者为近义词；循规蹈矩指拘泥于旧的准则，不敢稍作变通与前两者为反义词。A 项，未雨绸缪比喻事先做好准备工作，鼠目寸光形容眼光短、见识浅，两者不是反义词；C 项，顺理成章强调顺着条理做事或产生某种结果，犬牙交错和参差不齐强调不整齐，前者与后两者并非反义词，排除；D 项，墨守成规强调保守，井然有序强调整齐，二者并非近义词，排除。故本题选 B。

8.自然科学：化学：化学元素

A. 人文科学：历史学：历史人物

B. 物理学：生物物理学：光合作用

C. 语言学：汉语言：文学

D. 社会学：社会科学：社区

华图教育 SINCE 2001 HUATU.COM

【解析】A。化学是自然科学中的一门学科，二者是种属关系，化学的研究范围包括化学元素。A 项，历史学是人文科学的一门学科，历史学的研究范围包括历史人物，与题干的逻辑结构一致。B 项，物理学与生物物理学并不是种属关系，排除。C 项，文学包括语言学，语言学包括汉语言，三者位置关系错误，排除。D 项，社会科学包括社会学，二者位置关系错误，排除。因此，本题正确答案为 A。

9.小麦：馒头

A. 麋鹿：麝香　　B. 叶绿体：细胞

C. 乌贼：墨汁　　D. 棉花：布鞋

【解析】D。题干中，小麦是制作馒头的原材料，从小麦到馒头需要经过加工。A 项麝香产自雄麝鹿体内，而非麋鹿体内；C 项墨汁是乌贼体内的；B 项叶绿体位于植物细胞内，均排除。只有 D 项棉花是制作布鞋的原材料。因此，本题答案为 D。

10.音符：乐谱：五线谱

A. 笔画：汉字：金文　　B. 树木：森林：自然

C. 稻穗：稻谷：香米　　D. 卫星：星云：宇宙

【解析】A。乐谱由音符构成，五线谱是乐谱的一种表现形式；汉字由笔画构成，金文是汉字的一种表现形式。因此，本题答案为 A。

11.太空：卫星

A. 铁轨：火车　　B.公路：自行车

C. 机场：直升飞机　　D.城市：公共汽车

【解析】D。本题属于对应关系。卫星在太空中按照一定的轨道运行，公共汽车在城市里按照一定的线路运行。“太空”和“城市”都是空间概念，所以选择 D 选项。

12.石头：钻石

A. 汽车：劳斯莱斯轿车　　B. 舞蹈：国标

C. 水：眼泪　　D. 音乐：钢琴曲

【解析】A。石头含义较广，意为由矿物集合而成的坚硬物质，钻石是经过打磨的坚硬矿物，石头和钻石是包含关系，且以价值标准衡量，“钻石”和“劳斯莱斯轿车”均较昂贵。B、D项也是包含关系，但并不能以价值标准衡量，排除；C项比较具有迷惑性，有人认为两者一种是固体一种是液体，这种比较只有笼统的一层关系，类比推理要选最优答案，A项有二阶推理，关系更进一层，故选A。

13.近来，国外一些学者和媒体对西方民主体制较为集中地进行了反思和批评，指出西方民主正在衰败。对此，有学者认为，西方民主衰败的原因之一是其存在基因缺陷。西方民主是建立在一个假设前提的基础上的，即权利是绝对的。也就是说，权利与义务本应是相对的，但在西方民主模式中，权利绝对化已成为主流，各种权利绝对化，个人主义至上，社会责任缺乏。

以下哪项如果为真，最能支持学者的观点？（　　）

A. 西方民主制对权利绝对化的偏好，导致对他人权利与生存环境的忽视

B. 权利是有限度的，超越了权利的限度，就可能走向权利滥用

C. 美国两党常常把自己的权利放在国家利益之上，互相否决，危害国家和公民的利益

D. “程序万能”理论导致了西方民主制度的游戏化，民主被简化为竞选程序

【解析】C。题干中学者的观点是“西方民主衰败的原因之一是权利绝对化”。A项指出权利绝对化导致对他人权利和生存环境的忽视，但并未说明这种忽视导致了什么后果，对西方民主有什么危害。B项同样未说明权利滥用对西方民主的危害。C项指出美国两党的权利绝对化危害了国家和公民的利益，通过实例说明了权利绝对化的危害，支持力度明显高于A、B两项。D项并未提及权利绝对化，为无关选项，排除。本题选C。

14.某大型晚会的导演组在对节目进行终审时，有六个节目尚未确定是否通过，这六个节目分别是歌曲A、歌曲B、相声C、相声D、舞蹈E和魔术F。综合考虑各种因素，导演组确定了如下方案：

(1)歌曲A和歌曲B至少要上一个；

(2)如果相声C不能通过或相声D不能通过，则歌曲A也不能通过；

(3)如果相声C不能通过，那么魔术F也不能通过；

(4)只有舞蹈E通过，歌曲B才能通过。

导演组最终确定舞蹈E不能通过。

由此可以推出（　　）。

A. 无法确定魔术F是否能通过

B. 歌曲A不能通过

C. 无法确定两个相声节目是否能通过

D. 歌曲B能通过

【解析】A。题干可以翻译为：(1)A或B；(2)－C或－D→－A；(3)－C→－F；(4)B→E。由题干可知，E未通过，是对(4)后件的否定，否后必否前，故B也未通过。D项错误。由(1)知，A或B至少通过一个，现已知B未通过，故A必然通过。B项错误。A通过是对(2)后件的否定，否后必否前，－(－C或－D)＝C且D，即C和D都能通过。C项错误。C通过是对(3)前件的否定，否前不能推出确定性结论，故不能确定F是否通过。A项正确。本题选A。

15.某国际小组对从已灭绝的一种恐鸟骨骼化石中提取的DNA进行遗传物质衰变速率分析发现，虽然短DNA片段可能存在100万年，但30个或者更多碱基对序列在确定条件下的半衰期只有大约15.8万年。某位科学家据此认为，利用古代DNA再造恐龙等类似于电影《侏罗纪公园》中的故事不可能发生。

华图教育 HUATU.COM

以下哪项如果为真，最能反驳该科学家的观点？（　　）

A.《侏罗纪公园》虽然是一部科幻电影，但也要有事实依据

B. 上述研究的化石样本可能受到人类 DNA 的“污染”

C. 环境因素会影响 DNA 等遗传物质的衰变速率

D. 恐鸟与恐龙的碱基对序列排列顺序不同

【解析】C。科学家通过恐鸟的骨骼化石中的 DNA 碱基对序列半衰期时间短，得出无法利用古代 DNA 再造恐龙的结论。C 项，环境因素会影响 DNA 等遗传物质的衰变速率，意味着恐鸟化石中碱基对序列的半衰期虽然在一定条件下只有 15.8 万年，但是环境因素可能使得半衰期更长，因此利用从化石中提取更长片段的 DNA 再造恐龙是有可能的，从而反驳了科学家的观点。A 项转移论题，与题干论证无关；B 项可以质疑，但力度较弱；D 项说的是恐龙和恐鸟碱基对序列的排列顺序不同，与题干结论无关。故选 C。

16.甲、乙、丙、丁四人涉嫌某案被传讯。

甲说：作案者是乙。

乙说：作案者是甲。

丙说：作案者不是我。

丁说：作案者在我们四人中。

如果四人中有且只有一个说真话，则以下哪项断定成立？（　　）

A. 作案者是甲

B. 作案者是乙

C. 作案者是丙

D. 题干中的条件不足以断定谁是作案者

【解析】D。四人中有且只有一个说真话，如果甲或乙说真话，丁均为真；如果丙为真，作案者不在四人中；如果丁为真，作案者为丙。后两种情况均符合四人中有且只有一个说真话，但是作案者并不一定在这四人之中，否则丁说的话就没有任何判断的意义，题干中的条件还不足以断定谁是作案者，正确答案为 D。

17.当受到害虫侵袭时，大豆和其他植物会产生一种叫做茉莉酸盐的荷尔蒙，从而启动一系列化学反应，合成更多蛋白酶抑制剂，增强自身的抵抗力。害虫吃下这种化合物以后，其消化功能会受到抑制。植物生物学家德鲁西亚发现高浓度二氧化碳会导致植物丧失分泌茉莉酸盐的能力，整个“防御通道”由此将被关闭，于是大豆类作物的抗虫害能力便随着二氧化碳含量的增多而逐渐减弱。

由此可以推出（　　）。

A. 大豆产量会受到空气状况的影响

B. 茉莉酸盐的主要作用是抵抗虫害

C. 不能产生茉莉酸盐的植物将很难抵御虫害

D. 减少空气中的二氧化碳会增加大豆的抗虫害能力

【解析】A。题干中包含着一个三段论推理：大豆等植物产生的茉莉酸盐能够使大豆等植物抑制虫害。高浓度二氧化碳会导致大豆植物丧失分泌茉莉酸盐的能力。所以，高浓度二氧化碳会导致大豆植物不能抑制虫害。高浓度二氧化碳（隐含：空气质量状况不佳）会导致大豆植物不能抑制虫害（隐含：大豆因为虫害而减产）。由此可以推出 A 项“大豆产量会受到空气状况的影响”。B 项“茉莉酸盐的主要作用是抵抗害虫”在题干中没有证据支持；文段意为“产生茉莉酸盐→增强抵抗力”，C 项是该命题的否前错误；文段意为“二氧化碳增多→抗虫能力减弱”，D 项亦是该命题的否前错误。

18.分手不仅令人心理痛苦，还可能造成身体疼痛。美国研究人员征募 40 名志愿者，他们在过去半年中被迫与配偶分手，至今依然相当介意遭人拒绝。研究人员借助功能性磁共振成像技术观察志愿者的

大脑活动，结果发现他们对分手等社会拒绝产生反应的大脑部位与对躯体疼痛反应的部位重合，因此分手这类社会拒绝行为会引起他们躯体疼痛。

得到上述结论，隐含的假设是什么？（　　）

A. 个体对于疼痛的感受与社会应激事件有密切关系

B. 功能性磁共振技术是目前进行大脑定位的常用方法

C. 个体情绪等心理过程的改变能影响其生理反应

D. 生理与心理反应可以通过大脑产生关联

【解析】D。题干结论是分手这类社会拒绝行为会引起他们躯体疼痛，依据是对分手等社会拒绝产生反应的大脑部位与对躯体疼痛反应的部位重合，要想在论据和结论间建立联系，还需要说明大脑反应的部位重合会导致身体产生同样的反应，故D选项正确。

19.碳纳米管材料具有重量轻、强度高等优点，被广泛应用于自行车和球拍等产品生产中。但是近日研究发现，长期从事生产碳纳米管工作或利用该材料制造其他产品的工人，有可能因吸入碳纳米管而致癌。

以下哪项如果为真，最能支持上述研究发现？（　　）

A. 研究表明，容易引发癌症的是一些较长的碳纳米管，这可能是因为它们更容易卡在肺部或腹部细胞间的空腔中

B. 在使用体外培养的人体皮肤细胞进行实验时显示，碳纳米管可以进入细胞内部，降低细胞自身的免疫能力

C. 动物实验显示，如果碳纳米管大量进入实验鼠的腹部，约有10%的实验鼠会在一年内出现腹腔炎症

D. 石棉是国际癌症组织确认的致癌物质，而碳纳米管在化学分子结构上和石棉存在一些相似之处

【解析】D。研究发现是工人可能因吸入碳纳米管而致癌，要支持此发现，需要加强碳纳米管和癌症之间的联系。D项从化学分子结构角度说明碳纳米管存在致癌的可能性，支持了题干的研究发现。A项解释的是较长碳纳米管更易引发癌症的原因，其实际上是建立在已经承认碳纳米管可能致癌的结论的基础上的，故无法支持题干。B、C项为无关选项，排除。本题正确答案为D。

20.某国最大的方便面生产企业计划于4月份把方便面价格提高一至两成，这将是该国方便面价格自2006年度以来又一次大幅上涨，逼近历史最高价。该企业表示，之所以要提高方便面价格，主要是为了应对粮食等原材料价格的上涨。

最能支持上述论断的一项是（　　）。

A. 面对国际市场粮食等原材料价格上涨的趋势，甲国政府出台政策，禁止国内粮食加工企业提高粮食产品价格，以防止甲国人民生活成本增加，负担加重

B. 乙国国内粮食等原材料供应充足，但由于劳动力价格上涨，导致粮食加工企业生产成本增加，因而造成方便面等粮食产品价格上涨

C. 丙国国内粮食等原材料供应一直非常充足，近来又大规模提高农业生产技术，提高粮食产量，该国的方便面等粮食产品价格平稳

D. 丁国粮食加工企业工人举行大罢工，导致该国粮食加工企业瘫痪，国内方便面等粮食产品供应严重不足，丁国人不得不依赖进口粮食产品

【解析】C。本题为支持推理型。题干讲的是粮食等原材料价格的上涨导致了方便面价格的上涨，意在说明二者之间存在正比例关系。A项没有反映这二者之间的关系，不是对题干的支持；B项讲的是劳动力价格与粮食价格之间的关系，也应排除；D项为无关项，排除；C项中丙国粮食供应充足，则粮食价格稳定，从而使方便面等产品价格平稳，很好地支持了题干中论述的逻辑关系，所以答案为C。

21.研究人员报告说，动物脑部具有不同功能的区域占总脑量的比例是物种的一个重要特征。他们

发现，在同物种中，不同个体之间的脑容量可能有明显差别，但脑部结构特征基本一致；而不同物种之间，结构特征就有较大差异。研究人员据此认为，脑部结构特征将有助于分辨不同物种间的亲缘关系。他们还指出，脑部结构的变化，通常标志着由进化产生了新的种群。例如，从较为原始的狐猴进化到现代的猴子；从猿进化到人，脑部的重要变化是新大脑皮层所占比例增加。

由此可以推出（　　）。

A. 聪明人大脑皮层比常人发达

B. 人的大脑皮层比猴子发达

C. 人脑与猿脑的结构相似度大于猴脑和狐猴脑的结构相似度

D. 黑猩猩和大猩猩脑结构的相似度大于黑猩猩和猴子的脑结构相似度

【解析】D。本题属于隐性结论型。D项可以从题干“脑部结构特征将有助于分辨不同物种间的亲缘关系”推出。A项为无关概念；B项属于偷换概念，人的大脑皮层结构和猴子不一样，但题设没比较谁更发达；C项的比较结果无法从题干推出。所以选择D选项。

22.疾病预防控制中心的研究报告认为，烟草使用是首要的可预防死因，每年全世界有500万人死于烟草相关疾病，其中每年死于二手烟的人数也高达60万，四分之一以上为儿童。

以下各项如果为真，哪项最不能质疑上述观点？（　　）

A. 每年全世界有500多万人死于因运动不足而引发的疾病

B. 每年全世界有500多万人死于因生活不规律而引发的疾病

C. 每年全世界不低于1405万人的可预防死因并非烟草相关疾病

D. 每年全世界因心理调适不当引发的疾病成为人类首要的可预防死因

【解析】C。A、B、D项都指出题干中观点中“首要”的错误，而C项指出死于非烟草相关疾病的人数多于烟草相关疾病的人数，并不否认烟草使用是首要的可预防死因，故C项最不能质疑。

华图教育 SINCE 2001 HUATU.COM

资料分析易错易混真题集萃

1.截至2014年12月底，全国实有各类市场主体6932.22万户，比上年末增长14.35%，增速较上年同期增加4.02个百分点；注册资本（金）129.23万亿元，比上年末增长27.70%。其中，企业1819.28万户，个体工商户4984.06万户，农民专业合作社128.88万户。

截至2012年12月底，全国实有各类市场主体户数最接近以下哪个数字？（　　）

A. 6100万　　B. 5500万

C. 5100万　　D. 4500万

【解析】B。由材料“截至2014年12月底，全国实有各类市场主体6932.22万户，比上年末增长14.35%，增速较上年同期增加4.02个百分点”可知，2013年增速为14.35%－4.02%＝10.33%，则所求为$\frac{6932.22}{\frac{1+14.35\%}{1+10.33\%}}\approx\frac{7000}{(1+\frac{1}{7})(1+\frac{1}{9})}=\frac{7000\times7\times9}{8\times10}\approx5500$（万户），与B选项最接近，故本题选择B。

2.2014年1—5月，我国软件和信息技术服务业实现软件业务收入约13254亿元，同比增长20.9%，比去年同期回落3.3个百分点。其中，软件产品完成收入4141亿元，信息系统集成服务完成收入2649.3亿元，信息技术咨询服务完成收入1399.2亿元，数据处理和运营服务完成收入2429.5亿元，嵌入式系统软件完成收入2230.3亿元，IC设计完成收入405.1亿元。

2014年前5个月完成收入排名前三的软件业务，同期完成收入占我国软件业务总收入的比重约

为(　　)。

A. 61.8%　　B. 69.6%

C. 81.2%　　D. 86.5%

【解析】B。由材料可知，2014 年前 5 个月完成收入排名前三的软件业务分别是软件产品 4141 亿元，信息系统集成服务 2649.3 亿元，数据处理和运营服务 2429.5 亿元，共完成收入 4141＋2649.3＋2429.5＝9219.8(亿元)，占软件业务总收入(13254 亿元)的比重为$\frac{9219.8}{13254}\times100\%=70^{-}\%$(直除首位接近 7)。故本题答案为 B。

3.2014 年末全国公共图书馆实际使用房屋建筑面积 1231.60 万平方米，比上年末增长6.3%；图书总藏量 79092 万册，比上年末增长 5.6%；电子图书 50674 万册，比上年末增长34.2%；阅览室座席数 85.55 万个，比上年末增长 5.7%。

2014 年，公共图书馆电子图书藏量增长册数约是图书总藏量增长册数的多少倍？(　　)

A. 3　　B. 2

C. 8　　D. 5

【解析】A。倍数计算。由“图书总藏量 79092 万册，比上年末增长 5.6%；电子图书 50674 万册，比上年末增长 34.2%”可知，2014 年，公共图书馆电子图书藏量增长册数约是图书总藏量增长册数的$\frac{50674\times34.2\%}{1+34.2\%}\div\frac{79092\times5.6\%}{1+5.6\%}\approx\frac{50700\times34\%\times1.06}{79100\times6\%\times1.34}\approx2.9$倍。故本题选 A。

4.2014 年末全国共有公共图书馆 3117 个，比上年末增加 5 个。年末全国公共图书馆从业人员 56071 人。

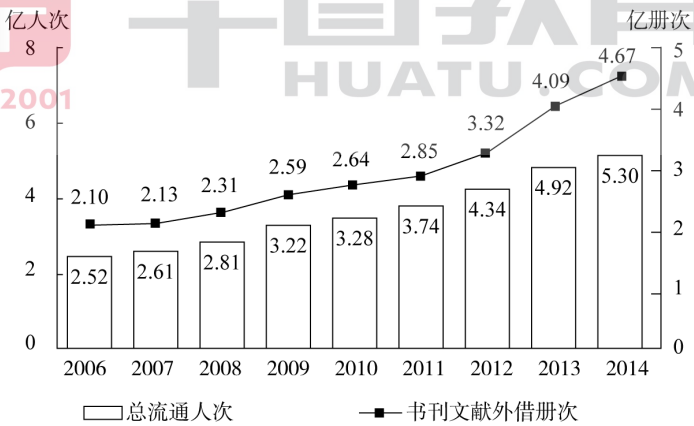

2006—2014 年全国公共图书馆总流通情况

2014 年，全国平均每个公共图书馆月均流通人次约为(　　)。

A. 1 万多　　B. 不到 1 万

C. 2 万多　　D. 3 万多

【解析】A。由材料可知“2014 年末全国共有公共图书馆 3117 个，总流通人次 5.30 亿人次”，所以 2014 年全国平均每个公共图书馆月均流通人次为$\frac{\frac{5.3\times10000}{3117}}{12}=\frac{53000}{3117\times12}\approx\frac{53000}{31000}=1^{+}$(万)。故本题选 A。

5.2011 年 8 月份，社会消费品零售总额 14705 亿元，同比增长 17.0%，城镇消费品零售额 12783 亿元，同比增长 17.1%；乡村消费品零售额 1922 亿元，增长 16.4%，则 2010 年 8 月城镇消费品零售额占社

会消费品零售总额的比重为(　　)。

A. 76%　　B. 87%

C. 92%　　D. 82%

【解析】B。本题考查基期比重的计算,计算式为$\frac{12783}{14705}\times\frac{1+17.0\%}{1+17.1\%}\approx\frac{13}{15}\approx87\%$。因此,答案选择B选项。

6.已知今年江苏商品房销售面积9922.73万平方米,增速62.9%,东部地区商品房销售面积48248.21万平方米,增速47.6%。则江苏商品房销售面积占东部地区销售面积的比重与去年相比(　　)。

A. 下降了1.2个百分点　　B. 下降了0.6个百分点

C. 上升了3.8个百分点　　D. 上升了1.9个百分点

【解析】D。本题考查基期、现期比重差值计算。今年的比重为$\frac{9922.73}{48248.21}$,去年的比重为$\frac{9922.73}{48248.21}\times\frac{1+47.6\%}{1+62.9\%}$,所以得到今年的比重与去年比重的差值为:$\frac{9922.73}{48248.21}-\frac{9922.73}{48248.21}\times\frac{1+47.6\%}{1+62.9\%}=\frac{9922.73}{48248.21}\times\frac{62.9\%-47.6\%}{1+62.9\%}\approx\frac{10}{49}\times\frac{15}{160}>\frac{3}{160}\approx1.9\%$。因此,答案选择D选项。

7."十一五"期间,我国农村居民人均纯收入由2005年的3255元提高到2010年的5915元,增加2664元,年均增长12.7%。2010年农村居民的工资性收入人均2431元,比2005年增加1257元,增长1.1倍。则"十一五"期间,我国农村居民人均工资性收入的增加值对农村居民人均纯收入增加的贡献率约为(　　)。

A. 37.1%　　B. 43.6%

C. 47.2%　　D. 50.4%

【解析】C。根据增长贡献率基本公式可知,农村居民人均工资性收入的增加值对农村居民人均纯收入增加的贡献率约为$\frac{1257}{2664}\times100\%\approx\frac{1250}{2650}\times100\%=\frac{25}{53}\times100\%\approx47\%$。因此,本题答案选择C选项。

8.限额以上批发零售企业2010年1—6月实现汽车类零售额294.7亿元,同比增长67.83亿元。同时汽车消费的快速增长带动了石油等消费品的快速增长,2010年1—6月石油及制品类零售额222.3亿元,同比增长67.28亿元。汽车及石油及制品类零售额的增长拉动限额以上批发和零售业零售额增长19.8个百分点。则2009年1—6月限额以上批发和零售业零售额约为(　　)。

A. 682.4亿元　　B. 381.9亿元

C. 135.1亿元　　D. 1145.8亿元

【解析】A。本题考查拉动增长率的概念。由题干中的数据可知,汽车及石油及制品类零售额的增长量为67.83+67.28=135.11(亿元),拉动限额以上批发和零售业零售额增长19.8个百分点,则2009年1—6月限额以上批发和零售业零售额约为$\frac{135.11}{19.8\%}\approx\frac{136}{0.2}=680$(亿元),与A项最接近。因此,本题答案选择A选项。

9.下图是SCI收录中国科技论文情况。则2003—2007年间,SCI收录中国科技论文数的年均增长率约为(　　)。

A. 6%　　B. 10%

C. 16%　　D. 25%

华图教育 HUATU.COM SINCE 2001

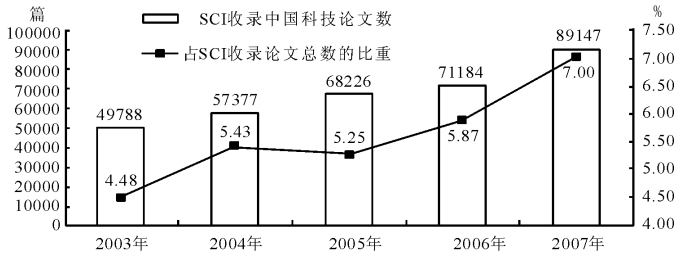

2003—2007 年 SCI(科学引文索引)收录中国科技论文情况

【解析】C。

解法一：由选项可知，平均增长率大于 5%，因此不能运用第一个近似公式求解。2007 年收录的论文数量是 2003 年的$\frac{89147}{49788}\approx\frac{89}{50}=1.78$ 倍，设年均增长率为 x，可得$(1+x)^4=1.78$，代入选项验证可得出 C 项最接近，为正确答案。因此，本题答案选择 C 选项。

解法二：本题可以用第二种近似计算公式，2004 年的增长率约为$\frac{57-50}{50}\times100\%=14\%$，2005 年的增长率约为$\frac{68-57}{57}\times100\%\approx19.3\%$，2006 年的平均增长率为$\frac{71-68}{68}\times100\%\approx4.4\%$，2007 年的年均增长率为$\frac{89-71}{71}\times100\%\approx25.4\%$，年均增长率约为$\frac{14\%+19.3\%+4.4\%+25.4\%}{4}\approx15.8\%$，与 C 项最接近。因此，本题答案选择 C 选项。

华图教育 HUATU.COM SINCE 2001

申　论

归纳概括题易错易混真题集萃

一、给定资料

2.在2011年央视“3·15”晚会上，曝出了一则消息：H省不少养殖户在养猪时添加国家明令禁止的“瘦肉精”，让人难以置信的是，这些吃了“瘦肉精”饲料的“健美猪”，竟然过五关斩六将，突破多个监管关口，一路杀向一些大城市，甚至杀进了肉制品生产企业，最终走上百姓的餐桌。有人戏谑：我们应当“感谢”食品行业，它让我们从大米中认识了石蜡、从火腿中认识了瘦肉精、从辣椒酱里认识了苏丹红、从火锅里认识了福尔马林、从蜜枣中认识了硫黄、从木耳中认识了硫酸铜、从奶粉中认识了三聚氰胺……还有人说到地沟油问题，这起继三聚氰胺后的重大食品安全事件，再度引起社会公愤。一个涉及14个省市的地沟油制售网络，已经使地沟油流入市场，其所产生的危害，怎能不令人深以为忧？

在2010年6月召开的第二届中国食品安全高层论坛上，某市食品添加剂行业协会的名誉会长P先生认为：食品行业是一个特殊的行业，如果不讲良心，任何环节都可能出问题。该市食品研究所技术总监M先生认为：食品企业应当将自律提到很高的位置，但在中国的现实环境中，不能把食品安全的“宝”，全部押在从业者的良心上，还应该强调“他律”，以真正实现食品安全。

改革开放初期，不讲诚信、假冒伪劣、以次充好者有之；坑蒙拐骗、赖账不还者有之；欺行霸市、以不正当竞争手段毁坏他人声誉者有之；大做虚假广告、以不正当手段推销者有之。这些行为不仅破坏了经济秩序，也败坏了社会风气。回过头去看，那些企业有哪一家真正做大做强了？据统计，在市场经济条件下，无论是国内的同仁堂、稻香村等老字号企业，还是进入世界500强的中外企业，无一不是严守法规、诚实经营才有今天的辉煌，没有任何一家企业能够靠造假而发展壮大。

3.发达国家并非生来就是“世界上食品供应最安全的国家”。类似的“食毒时代”，它们也经历过。1906年2月，美国长篇小说《屠场》面世，揭露肉联厂工人非人道的劳动状况，“本想打动公众的心，不料却击中了他们的胃”。

“从腌肉车间里取出的猪肉常常发酸，就搓上苏打粉，去掉酸臭味，经过化学处理，需要什么颜色、什么香味、什么味道就能有什么颜色、什么香味、什么味道，然后卖到自助午餐柜台上去。”“凡是已经腐烂得再也不能派任何用场的臭肉，连同地面铲起的渣滓一道，用来制成罐头，或者剁碎制成香肠。已经生霉发白没人买又运回来的食品，用硼砂和甘油处理之后，又作为原料重新制成正品。”据说，当时的美国总统罗斯福在白宫边吃早点边读这本小说。看到这令人作呕的描述，总统大叫一声，跳起来，把口中尚未嚼完的食物吐出来，又把盘中剩下的一截香肠用力抛出窗外。《屠场》导致美国肉类食品消费和出口急剧下降，瞬间引发了人们对食品安全和卫生的强烈关注。在舆论压力下，美国国会当年6月通过了《纯净食品和药品法》《肉类制品监督法》，由此逐步进入了食品安全管理法制化的时代。

1927年，美国农业部成立了一个新的下属机构——食品、药品和杀虫剂组织。1930年，该机构名称改为“食品药品管理局”，也就是我们今天所熟知的FDA。和FDA一起在联邦层面上负责食品安全的，还有疾病控制和预防中心、农业部下属的食品安全和检验局、动植物卫生检验局等机构。20世纪以来，美国政府陆续通过了近20部重要的食品药品监管法律，赋予FDA更多的职权。对于被查出问题的食品，FDA毫不手软，生产商和销售商都会受到处罚，且要花巨额费用召回相关食品。

4.2011 年 9 月，某报刊登了一篇评论员文章。文章指出，在“陌生人社会”里，多数人会本能地希望把必须相处的陌生人变成熟人，托关系、人找人，因为“熟人信得过”“熟人好办事”。对偶然相遇的陌生人，则首先选择不信任。文章还认为，互不信任增加了社会运行的成本。一方面对陌生人处处提防，认为这是让自己利益免受伤害的必要方式，另一方面抱怨“人性冷漠”“道德滑坡”；一方面指责他人“麻木不仁”“见死不救”，另一方面又提醒亲人朋友遇事“别出手”“少出头”。伦理学家指出：在漫长的封建社会中，中国传统的伦理道德，既有反映统治阶级要求、为维护封建统治服务的观念和规范，又有反映中华民族优秀品质的观念和规范。比如，孔融让梨中的谦让、孟光梁鸿举案齐眉中的和睦、乐羊子妻断机劝夫中的深明大义……每个故事都反映出一个时代所提倡的社会道德风尚，也成为今天我们增进人际和谐、维护社会稳定的参考教材。但封建伦理道德中宣扬的“三纲五常”“男尊女卑”，则是糟粕，应该否定。正如毛泽东所说：“从孔夫子到孙中山，我们应当给以总结，继承这份珍贵的遗产。”

中国传统的道德观念以儒家的“性善论”为主流，在实践中，儒家以“礼”与“法”的结合作为人性修养在他律方面的补充。然而在一个道德松弛、舆论不张、管理乏力的社会里，“他律”的作用会大打折扣。某省委宣传部 E 部长认为：解决他律问题，道德教化也是一种比较有效的方法。当前主要应进行中华传统美德教育，通过教育，使人们的爱国主义情感、集体主义情感、人道主义情感、正义感、自尊感等都有正确的发展方向。当人们形成良好的道德观念，建立了具有良好公德共识的体系，一个社会的发展便将获得前所未有的巨大的推动力。

5.不久前，中央美院油画系研修班第一届部分同学在一家报纸发表声明，称 2010 年 6 月，某拍卖行以 7280 万元高价拍出的徐悲鸿油画《人体蒋碧薇女士》系他们 1983 年的临摹习作。商人谢某自行伪造“金缕玉衣”，出钱请出国内五位鉴定专家为其鉴定。在收取了不菲的评估费后，专家用了不到 1 个小时的时间就联合签署了一份估价 24 亿元人民币的鉴定报告。谢某由此向银行骗贷 5 个亿。近年来，随着民主政治的进步、互联网的普及，网民意愿可以更加畅通地表达，每个公民都有自由言说的空间。从“天价烟局长”周某的落马，到在敦煌撒泼的新疆生产建设兵团某团副团长夫妇的被免职等，一系列的案例，说明网民意愿、网友监督，在国家民主政治的进程中，作用越来越大。但著名文化学者、某大学 Z 教授认为：媒体和网络是一把双刃剑，本应站在客观公正的立场，去引导社会舆论，但有时部分媒体和网络却在没核实、没去甄别真伪、不明真相的情况下，充当了造谣者的“帮凶”。2011 年 3 月，一位母亲为获捐款，抱着患眼癌的女儿跪地前行，这是职业网络推手精心策划炒作的“母亲跪爬求助”事件。推手已向“跪爬母亲”致歉，“跪爬母亲”也向社会道歉，表示愿将得到的 20 余万捐款退回。对于此事，人们看法不一，有的人觉得利用谎言炒作募捐不道德，有的人认为救命远比道德更重要……央视某主持人说：网络推手出于善意目的制造“缺德炒作”，对社会诚信造成的损害是不可估量的。

某网站针对所谓“社会道德危机”，曾组织网民在网上进行讨论。

网民 A 认为：道德失范的根源应归咎于市场经济的快速发展。市场经济与生俱来的盲目性、自发性、趋利性、等价交换性等致命弱点，必然导致拜金主义和极端个人主义的滋长、蔓延和泛滥，引发社会秩序混乱，道德沦丧，诚信缺失。

网民 B 认为：市场经济大潮的冲击和物欲主义的侵蚀，使不少人越来越远离向内心的叩问，在不少人身上，理想、信仰的感召力在减弱。人们应当重拾信仰，让信仰不再缺席。

6.某媒体报道：当前医疗领域，个别医生不讲医德，“开单提成”收受医药产品销售回扣的现象屡禁不绝。更有甚者，将病人视作唐僧肉，不从病情出发，多开贵重药品，动辄做“CT”、上“核磁”，徒增患者负担，为小团体牟利。另有报道指出：在教育界，也有一些学校出现少数教师借补课、家访、排座位、安排班干部等事务，公然收取好处的现象。某市一中学给学生家长每人寄了一封信，在信上学校划定了 20 本名著，要学生到“指定书店”购买。很多家长认为，学校给指定的书店打广告，个中原委令人生疑。有个别领导干部忽视自身的道德建设，出了事故，主管领导极力隐瞒事实真相者有之；面对群众的质疑，搪塞推诿者有之。还有些干部利欲熏心，玩弄数字游戏虚报功绩，甚至大搞损害民生的“政绩工程”，希图换来个人

的升迁。

“给定资料2—6”反映了市场经济背景下社会生活中的种种问题，请对这些问题进行概括和归纳。

视频解析

要求：准确、全面、有条理。不超过250字。

【答案提示】“给定资料2—6”反映了市场经济背景下社会生活中的种种问题，这些问题主要有：

一是经济领域的欺诈、制假贩假现象严重。一些企业罔顾道德诚信，为牟取一己私利不择手段。假冒伪劣、坑蒙拐骗等非法现象频发。

二是个人交往中的互不信任损害了人际关系的和谐，致使人情淡薄。“陌生人社会”中互不信任现象凸显，增加了社会运行的成本。

三是一些媒体的失实言论和恶意炒作误导社会公众，对社会诚信造成了严重的伤害。

四是医德、师德、官德等职业道德严重缺失，以牺牲患者、学生、公众的正当权益来换取自身利益的现象频发。

二、给定资料

3.2010年，S市一公寓大楼失火，造成100多人死伤。这起特别重大的火灾事故，凸显了现代城市运行中的脆弱性。

“脆弱性”是吉尔伯特·怀特在20世纪70年代首次提出的概念，之后被广泛应用于灾害学、生态学、金融学、社会学和经济学等许多方面，大大拓展了“脆弱性”的内涵。

现代城市不仅是政治、经济和文化中心，而且是人口、财富和各项社会活动高度密集的地方，但同时也是各类风险和突发事件最密集的地区，一旦发生突发事件，后果往往是灾难性的，社会影响很恶劣。从这个角度来看，城市运行中的脆弱性，可以理解为城市生活运行中受到外部致灾因素影响的可能性和敏感性，它涉及外部致灾因素影响的程度，涉及相关防范系统对致灾因素的抵抗力以及对这种系统抗逆力的某种衡量。

调查报告显示，S市特别重大火灾较典型地反映了现代城市运行中的脆弱性问题。此次火灾，是大楼维修时由无证的电焊工违章作业所产生的火花，引燃了不能阻燃的“安全网”，然后蔓延到大楼上易燃的装修材料，从而酿成大祸。该大楼维修工程存在层层分包和转包等违法违规问题，加上日常管理缺乏有效的规范化监督，致使维修施工过程中存在管理松懈、秩序混乱及安全措施不到位等情况，结果超出了建筑工程系统脆弱性的承受度，由量变转变成质变。脆弱性演变成严重的危机，最终导致此次惨剧。

这次火灾，尽管S市启用了现代化的警用直升机用于紧急救援，但在如此严重的高楼火灾面前，无法有效发挥高空消防灭火和救援的功能。同时，部分常规的消防云梯及消防设施难以满足高层建筑灭火的需要，影响了救援的速度和效率。

“自救优于互救，互救优于公救”，早已是降低灾害损失的经验之谈。但部分市民依然习惯于等待以政府为主导的公共救援，而这类救援往往因为需要一定时间，不够及时，而影响救援效果。S市火灾的确不同程度地反映出市民自救、应急疏散能力的明显不足，部分居民耽误了宝贵的逃生时间。事后发现，连居住在二楼的有些居民都没有及时撤离而窒息在家中浴室里，令人痛惜。

S市火灾发生前，政府主管部门对建筑工程监督不到位，民众的力量又没有被动员，致使工程的建设监督事实上处于真空状态，为火灾发生埋下隐患。在火灾发生后，由于市民市场保险意识不强，火灾给市民带来的生命和财产损失，部分由政府买单，而社会主体、市场主体功能没有得到有效发挥，加重了政府的负担。

在现代城市工程建设规划设计中，由于片面追求建设速度或追求经济效益，对工程未来可能存在的意外事故考虑不足，或者相关投入不足，致使工程的安全设施从规划到设计都存在严重缺陷或不到位问

华图教育 HUATU.COM

题。就S市火灾而言，高楼部分消防设施配备缺乏，管理措施不到位；楼与楼间距较小，道路狭窄。这些，导致火灾发生后，因安全通道狭窄，物理空间有限，部分消防救援设备难以到达现场或难以发挥有效作用，严重影响了救援效果。

S市火灾充分说明，如果对于城市运行中可能存在的突发事件预测和准备不足，必将使现代化城市运行中的风险难以及时、快速、准确、有效地得到识别、防范和控制，结果便是重大灾难。

根据“给定资料3”，谈谈“现代城市运行中的脆弱性”在S市特别重大火灾中的具体表现。

视频解析

要求：准确、全面、简明。不超过150字。

【答案提示】具体表现如下：

(1)建筑工程维修施工中安全意识淡薄，管理中规范理念缺乏。

(2)救援设施不足、救援能力有限，难以满足现代城市灾难救援的需要。

(3)市民过度依赖公共救援，自救、互救与应急逃生能力明显不足。

(4)城市安全运行中各种社会资源动员能力有限。

(5)城市发展速度与城市公共安全承受度不相匹配。

(6)管理者对现代城市安全运行中的脆弱性认识不足。

三、给定资料

1.在城里公立小学开学的9月1日，张老师的打工子弟学校也开学了，在垃圾场边的平房里，18名学生走进了简陋的教室。同是小学教师出身的李某夫妇创办的“行知打工子弟学校”，则在一片荒芜的菜地里迎来了求学的孩子们。最早的一批打工子弟学校就这样在有志之士的努力下艰难地生存了下来。这样的学校数量有限，仍有众多的外来务工人员子女不知道哪里有学上。

在某民办大学做管理工作的孙某为了让从农村接出来的孩子有学上，在郊区找了五六家公立小学。但是，校方要收取1万元到10万元不等的借读费和赞助费，这些高昂的费用让孙某感到发懵。因为公办学校门槛高，在城乡结合部，条件简陋、收费较低的民办农民工子弟学校如雨后春笋般破土而出。然而，这样的学校绝大部分都戴着“非法”的帽子——没有办学许可证，很难逃脱被关停的命运。已有3年“办学经验”的秦老师说：“要拿办学许可证，必须有房屋产权证。可由于经费紧张，学校只能租用别人的场地及房屋。别说我们拿不出房屋产权证，就连房东也拿不出，因为房东也是租村里的地。”一度拥有1500多名学生规模的私立金星小学就是因为校舍所在地被拆迁，从此销声匿迹了。“没有政府的支持，我们也不敢在硬件设备上加大投资。”办学人代某说，“艰难办学，最希望的是能有合法的地位，学生可以放心读书，老师也可以安心工作。”实际上这类学校的教师队伍很不稳定，往往春节一过，教师走掉一半是常事。许多年轻教师都把私立学校当作跳板，一旦找到合适工作，立马就跳槽走人。

开学已经好几天了，因为交不起300多元的学费，12岁的陈某迟迟没有报到。和陈某一样，由于家庭生活困难，不少农民工子女不得不放弃求学。树人学校也是一所农民工子弟学校。开学已经一周，还有100来名学生没来报到。校长既失落又无奈，“反正每到开学，总得少那么百八十人。有的回老家了，有的转学了。至于有没有人辍学，那就没办法统计了。”

春节过后，8岁的乡村女孩张某在B市郊区的一所公办小学里迎来了新学期，但更多“漂泊”在市郊的农民工子女难有这样的待遇。“我也想去公办学校上学，至少那里有好的食堂，但学费实在太高。”一想起夏天早上带的饭菜到中午有点变味发馊，一位小学四年级学生心里就有点发酸。

“B市的公办学校，用的都是B市地方实验教材。将来考大学，因为没有户口，孩子还得回去考，怎么办？”从山西来B市打工的张某愁苦地问。考虑到这个因素，许多家长不得不把孩子送到使用全国统编教材的民办农民工子弟学校。

“我妈妈很少给我零花钱，我也没有什么新文具，总觉得在班里抬不起头。”这是一个“有幸”到公办学

校就读的农民工的孩子所遇到的尴尬。记者在采访中发现，有不少乡下来的孩子，在大部分是城市孩子的公办学校里，都有孤独、自卑的感觉。对此，中国社会科学院一研究员表示，要警惕农民工子女心理“边缘化”倾向。他说，农民工子女本身就在经济条件等方面处于弱势地位，好不容易能与城里孩子坐在同一个教室里接受质量较高的教育，却又要承受来自各方面的不理解。生活上的困难没有让他们退缩，可这种心灵的创伤却难以抚平。

2010 年 8 月颁布的《国家中长期教育改革和发展规划纲要(2010—2020 年)》中明确指出：“坚持以输入地政府管理为主、以全日制公办中小学为主，确保进城务工人员随迁子女平等接受义务教育，研究制定进城务工人员随迁子女接受义务教育后在当地参加升学考试的办法。”

“同在蓝天下，共同成长进步”，这是温家宝总理在考察北京玉泉路打工子弟小学时，在学校黑板上写下的题词。广大人民群众都希望并相信在实施《纲要》的过程中，这美好的愿景会变成现实。

2.新华社、《中国青年报》记者联合进行了一项问卷调查。这一调查历时 7 天，在北京、上海、广东、浙江、江苏、山东等地，向农民工发放调查问卷 131 份，其中有效问卷 125 份。73 名受访者表示，最大的愿望是自己的孩子能“和城里孩子享有同样的待遇”，43 名受访者最希望能“降低收费标准”，17 人希望能“有供农民工子女就读的专门学校”。调查同时显示，78 位受访农民工表示，通过“朋友介绍”为孩子在城里联系学校，16 人表示“从媒体报刊获悉”有关学校信息，5 人表示“向城市教育部门咨询”，2 人表示由“家乡教育部门推荐”，1 人表示“学校主动上门”。

调查表明，有 46 名农民工子女，曾经因为父母务工地点的变化而被迫转学。其中转学1 次的有 10 人，转学 2 次的有 12 人，转学 3 次或 3 次以上的有 24 人。在回答子女在城里求学遇到的最大困难时，54 位受访者表示是“费用太高”，占受访总数的43.2%；46 人表示是“没有城市户籍”，占受访者的 36.8%。选择“住处附近没有学校”“受城里人的歧视”“毕业后拿不到毕业证”的受访者比例依次为 16.8%、6.4%和 4.8%。“我本来准备把小孩送到公立学校，但因为不是本地户口，我找的一所学校每学期竟然要 8000 元的赞助费，另外还要交这费交那费，最终还是没有去。”在 N 市打工的罗某告诉记者。

调查同时显示，有 20 名农民工表示孩子在上学时曾“遭受到拒绝”，7 人表示“做了很多努力学校才接受”；有 19 位受访者表示孩子在学校“有过不公平待遇，但不严重”，3 人表示孩子在学校“有过不公平待遇，情况比较严重”。调查还显示，77.6%的受访农民工表示，孩子“学习成绩一般”或“成绩不好”。88 名受访者表示，“从来没有”或“不一定”有时间辅导孩子学习，占受访总数的 70.4%。“小孩只要听话，知道尊老爱幼就行了。我整天忙，没时间想太多，学校的质量也就不管了。”今年 33 岁的王某来自南方某县，以帮酒店洗台布为生，谈起孩子的教育，他无奈地说。

“给定资料 1”和“给定资料 2”集中反映了进城务工人员随迁子女受教育的诸多问题。请根据这两则资料，对这些问题的具体表现进行概括和归纳。

视频解析

要求：准确、全面、有条理。不超过 200 字。

【答案提示】政策制度：户籍制度制约，农民工子女被公立学校排斥，且不能在当地参加高考；政府对私立学校缺乏重视，致使学校不具备合法的办学资格，学校数量少，学生无处就读；信息渠道不畅通，学生不知到何处就读。

学校：私立学校教室简陋、教师队伍不稳定，硬件和软件双缺失，教育质量难以保障；公立学校学费高，孩子易受到歧视和其他不公平待遇。

家庭：贫困导致孩子失学；孩子受父母工作变动影响频繁转学；父母对孩子所受教育重视不够。

四、给定资料

1. 创客是指利用开源硬件和互联网将各种创意变为实际产品的人，他们将制造业搬到了自己桌面上，电子服装、健康手环、智能手表、导电墨水、食物烹饪器等等，用户能想象到的产品都有可能在创客手中实现。创客在带有加工车间和工作室功能的软硬件开放实验室(创客空间)将创意变成产品原型，实现

从 0 到 1。

对很多中国人而言,“创客”还是个较为陌生的概念,但凭借蓬勃生命力和强劲发展势头,创客正在悄然影响着传统制造业。许多创客空间在产品设计和原型创造基础上,还延伸了兼具产品孵化和企业孵化的功能,在这里不仅可以实现从 0 到 1 再到 100,即从创意到产品原型再到小批量产品,还能给创客提供创业场地、管理咨询、投融资、渠道销售等服务。在用户体验和互联网推动下,创客产品成为热门的个性化定制商品;也有小部分创客产品经过市场检验获得大众需求的认可,成为工业化生产的大众商品。无论哪种形式,都完成了从创意向创业的转化过程,这种转化也正是创客文化繁荣发展的本质。

创客运动在中国的兴起时间虽短却发展迅猛,国内强大的制造业生态体系、丰富的人力资源、雄厚的资本和艺术积淀是创客扎根成长的肥沃土地,它所迸发出的潜力是未来工业体系和经济发展的重要机遇。深圳是国内创客产业链最完整的城市,被誉为创客天堂。创客在这里可以找到齐全的电子元器件、各类加工厂和技术工程人员,快速完成从创意到产品原型再到小批量生产的全过程;与深圳的务实高效相比,上海的创客显得气定神闲、回归本质,具有国外兴趣使然的创新氛围;北京创客则更具跨界协同创新及创业精神,因为北京是顶尖技术人才、文艺人才和资本机构云集的城市。

创客群体没有职业范围和身份限制,任何有创意且有激情将创意变为现实的人都能成为创客。在创客空间,既看不到高精端的大型仪器设备,也看不到众多发明专利和成果,创客空间里有的是热爱创造的人,他们以兴趣为导向,以创意为起点,以体验为动力,通过自我满足的创业方式将大众群体中蕴藏的巨大创新力挖掘和释放出来。

传统制造业以满足大众基本需求为目标,规模化生产出利润丰厚的热门产品。但随着热门产品的同质化发展和激烈竞争,大众需求会逐渐向个性化需求分解,这是经济发展给消费者选择产品带来的必然趋势。创客在这种趋势利导下产生,引领制造业从中心化和大规模形态朝着个体式和去中心化的方向发展,根据个性化需求来生产小众商品,给个体式制造业带来机遇。

2013 年 11 月,英国《经济学家》刊发一篇题为《中国制造》的文章让“中国创客”成为焦点。该文指出,中国创客的力量不可小觑,其潜在优势就是他们与所谓的山寨制造体系密切联系。企业之所以山寨是因为没有设计和创意,依靠模仿他人产品来生产制造,而创客恰恰是设计和创意的源泉和载体。在互联网时代,软件开源和硬件开源给中国企业提供了难得的平等创新机会,若能将创客的设计和创意嫁接于低端仿造企业,让创客的巨大创造性和制造需求与山寨企业完备的供应链资源和制造能力优势互补,或许能迸发出惊人的能量,这未必不是山寨企业转型的一条出路。

2013 年 11 月 4 日,清华大学启动创客驻校计划,计划每年聘请国内外知名创客进驻学校创客空间,鼓励学生主动参与创新实践,提升跨学科的技术与创意交流。此外,多所大学甚至一部分中学和职业院校也积极推动创客教育,各具特色、充满活力的教育创客空间盘活了院校科技资源,加强了教学与实践、教育与产业之间联动,培养出具有创新创业精神的一流人才。国内每年毕业的几百万大学生是创客运动的最佳人选,他们能将学业中萌发的创意思想和积累的研究成果衍变为创客项目,用自主创业的方式实现就业。这些创客项目转化为创业公司后,会吸引更多不同层次的社会人才加入其中。麦肯锡 2013 年研究报告指出,由于机器人和网络技术的突飞猛进,过去 10 年大型制造企业的雇佣人数持续减少,因为规模制造对自动化生产系统的紧密依赖逐步取代了人工参与。而创客运动引领的个体式制造业根据用户个性化需求来定制生产商品,对技术、工程、艺术等各行各业人工劳动力的需求巨大,必然创造出大量新的就业岗位。

有人感叹:创客啊,耗费了多少绞尽脑汁,颠覆了多少司空见惯,收获了多少意外惊喜,蕴藏了多少令人期待?真让人“爱也难,不爱更难!”

SINCE 2001

请根据“材料 1”，概括在中国迅猛发展的“创客运动”所产生的积极效果。

要求：全面、准确、简明、有条理。不超过 150 字。

视频解析

【答案提示】1.推动传统制造业发展，引领制造业从中心化和大规模形态朝着去中心化和个体式的方向发展。

2.促进山寨企业转型，使创客的创造性与低端仿造企业优势互补。

3.挖掘大众创新潜力。

4.盘活学校科研资源，培养具有创新创业精神的一流人才，推动学生创业。

5.创造就业岗位，“创客运动”引领的个体式制造业创造出大量新的就业岗位。

五、给定资料

1.智慧城市的各种智慧应用使城市的各个关键系统和参与者能够进行和谐高效地协作，对城市各方面需求做出智能的响应，以创造美好的城市生活。

“蠡湖家园 50 号门外发现一处车辆违停，请即刻前往处理。”在 W 市蠡湖街道综合管理指挥中心的大厅里，语音播报的同时，超大屏幕上直接显示出了违停车辆的画面。不到 1 分钟，社区城管队员已出现在了违停车辆旁。“你的爱车正在位移，请尽快检查是否发生异常。”家住梅荆花苑的朱敏，收到了“车卫士”发送的警告短信，赶到停车点发现电动车丢失。派出所接到报警后，根据“车卫士”反馈的车辆移动线路，半小时后在小区门口将窃贼抓获。“车卫士智能终端，对车主常用动作进行记录、识别，一旦车辆锁定后发生位移，安装在电动车内的防盗传感终端就会立即将报警短信发送给车主手机。”某物联网研究院综合部章经理介绍说，目前 W 市安装“车卫士”智能终端的电动车已有 4.88 万台，通过“车卫士”已查破电动车盗窃案件 190 起，侦破同类案件 420 起。

“以前，每周都要上一趟医院去测血糖、量血压，现在，只要在家里就能一天测两次。血压仪测出的数据，只要点点鼠标，就能被上传到社区健康医疗数据中心。”家住 W 市新区新安街道的华阿姨告诉记者，“家里安装了健康保姆系统后，社区医院的医生对我的病情信息尽在掌握，我利用手机或电脑还可以直接在线跟社区医院的医生交流，让医生给出初步的诊断。”

不久前，H 市一位老人突然呼吸困难，安装了 120 院前急救信息化平台的救护车一赶到现场，马上将患者抬进车。上车之后，急救医生接通各种仪器后，在一个平板电脑输入患者身份证号，迅速调出了患者的电子健康档案，血型、既往病史、过敏药物等一目了然。与此同时，救护车监护仪上所有生命体征信息也通过蓝牙同步到电脑上，为进一步研判病情，急救医生又与目的地医院、120 指挥中心进行视频会诊，各方在清晰地看到患者并共享监护数据的情况下，诊断出患者为心梗，甚至准确定位了心梗的位置。患者一送到医院，立刻被推进了手术室，及时地抢救了过来。

“有了爱城市·智慧公交，可以实时查询公交车到站时间，再也不用伸长脖子等车了。”L 市市民小周对记者说，“使用这种全新的智能化掌上智慧公交应用系统，只需在‘线路’查询选项里输入准备乘坐的公交车线路，即可显示就近车辆离我有多远、还有多少时间到站；在‘站点’查询选项里，输入需要查询的站点名关键字，立刻显示相应的站点，选择某个站点便可查询出所有经过该站点的公交线路及其车辆到站信息；输入起点站名及终点站名，则可显示出相应的车辆换乘方式。现在，我乘车前能做到心中有数，大冷天不用在车站里‘傻等’了。”

蟹农们养螃蟹十分辛苦，守在塘边整宿不睡查看增氧器几乎是家常便饭。“现在，我在手机上就可以随时操控设在塘边的增氧器，不仅不用半夜往鱼塘跑了，每年光电费就能省 8000 多元。”蟹农老吕高兴地说，“现在只要动动鼠标或者手机按键，足不出户就能轻松管理我近百亩的蟹塘了。”这就是 J 省物联网水产养殖基地的功劳，通过采用先进的物联网技术、网络监控、传感设备，让蟹农们切身体验了一把“智能养蟹”。蟹农们只要通过互联网、手机终端登录“水产养殖监控管理系统”，就可随时随地了解养殖塘内的溶氧量、温度、水质等指标参数。一旦发现某区域溶氧指标预警，只需点击“开启增氢器”，就可实现远程

操控。

2.2011 年 6 月韩国推出了“智能首尔 2015”计划。该计划的一个关键支柱是提高对智能设备的接入以及教会新用户如何操作它们，从而确保能够听到每个市民发出的声音。2012 年，首尔开始鼓励市民在购买新的设备时捐赠旧设备，旧设备经过厂家的检查和修复后被免费分发给弱势群里。在首尔，如果一个持有智能方位侦测设备的孩子、残疾人、老人、阿尔茨海默症患者等离开指定区域或拨动呼救按钮时，报警信号将以文本形式发送给监护人、警察以及闭路电视监控中心，使之得到及时的帮助。首尔市政府的在线预订系统为市民提供实时的公共服务搜寻、预订及支付。预订系统列有 150 多项业务，分别隶属于教育、基础设施、文化旅游、商品以及医疗等项目。该在线预订系统最终将要纳入 3 万多项公共服务，分别由首尔市政府及其附属机构提供。首尔市政府公开其所有行政信息，并通过公共应用大奖赛来对私营部门或市民应用此类信息进行奖励，最佳应用还将免费向大众提供。高科技路灯降低了能耗，还能播放语音，为居民提供无线互联网接入。一份数字新闻报向居民和旅客提供新闻、公交车时间表以及其他实用信息。由一个传感器网络来监控水和空气质量，并直接将信息发送至各媒体和市民起居室里的接收设备。

在瑞典，驾车进出斯德哥尔摩市区，将会被按照时段征收“道路堵塞税”。不过车辆用不着在收费站前面大排长龙，也看不到收费员，甚至无需停车，一切都在车辆经过路口的时候通过智能系统自动完成了：当车辆经过控制站时，控制站的摄像头会被激活，拍下车牌照片，控制站和机动车上的传感器之间会交换信号，记录下时间、日期和缴纳税金额，然后直接从驾驶人的授权银行账户中扣除。当然，如果你的账户里没有钱，或者没有指定账户的话，也会收到账单，你可以自己去银行交钱。司机通过这个系统能够实时掌握哪里的交通路况最糟糕，也使交通拥堵降低了 25%，温室气体排放量减少了 40%。在斯德哥尔摩近郊的哈姆滨湖城，能看见一排电子垃圾桶，分别用于接受食物垃圾、可燃物垃圾以及废旧报纸等不同类别的垃圾。垃圾桶通过各自的阀门与同一条地下管道相连，阀门分别在每天自动打开两次，不同类别的垃圾进入地下管道，并以每小时 70 公里的速度被输送到远郊，在电脑的控制下自动分离并输送到不同的容器里，按需要循环利用，全过程无人值守，由电脑自动控制。

在美国迪比克，利用物联网技术，将城市的所有资源（包括水、电、油、气、交通、公共服务等）数字化并连接起来，监测、分析和整合各种数据，进而使政府和企业智能化地响应市民的需求并降低城市的能耗和成本。比如为所有住户和商铺安装数控水电计量器，其中包含低流量传感器技术，防止水电泄漏造成的浪费。同时搭建综合监测平台，及时对数据进行分析、整合和展示，使整个城市对资源的使用情况一目了然。更重要的是，迪比克市将这些信息向个人和企业公布，使他们对自己的耗能有更清晰的认识，对可持续发展有更多的责任感。

根据“给定资料 1、2”中介绍了智慧城市的应用情况，请对此予以归纳概括。

要求：全面准确，分条归纳。不超过 200 字。

视频解析

【答案提示】智慧城市应用有效整合系统与参与者间协作，改善了社会生态。

1.强化治安管理；保障民众生命财产安全。

2.完善医疗服务；实现便民服务，提高应急效率。

3.优化交通管理；提供路况信息，缓解交通拥堵、节能降耗。

4.巩固农业生产；节约生产成本，减轻农民负担，提高生产效率。

5.加强民生建设；促进社会公平，激发社会活力，节约社会资源。

6.整合社会资源；提高利用效率，降低成本，培养社会责任感。

综合分析题易错易混真题集萃

一、给定资料

5.不久前，中央美院油画系研修班第一届部分同学在一家报纸发表声明，称2010年6月，某拍卖行以7280万元高价拍出的徐悲鸿油画《人体蒋碧薇女士》系他们1983年的临摹习作。商人谢某自行伪造“金缕玉衣”，出钱请出国内五位鉴定专家为其鉴定。在收取了不菲的评估费后，专家用了不到1个小时的时间就联合签署了一份估价24亿元人民币的鉴定报告。谢某由此向银行骗贷5个亿。近年来，随着民主政治的进步、互联网的普及，网民意愿可以更加畅通地表达，每个公民都有自由言说的空间。从“天价烟局长”周某的落马，到在敦煌撒泼的新疆生产建设兵团某团副团长夫妇的被免职等，一系列的案例，说明网民意愿、网友监督，在国家民主政治的进程中，作用越来越大。但著名文化学者、某大学Z教授认为：媒体和网络是一把双刃剑，本应站在客观公正的立场，去引导社会舆论，但有时部分媒体和网络却在没核实、没去甄别真伪、不明真相的情况下，充当了造谣者的“帮凶”。2011年3月，一位母亲为获捐款，抱着患眼癌的女儿跪地前行，这是职业网络推手精心策划炒作的“母亲跪爬求助”事件。推手已向“跪爬母亲”致歉，“跪爬母亲”也向社会道歉，表示愿将得到的20余万捐款退回。对于此事，人们看法不一，有的人觉得利用谎言炒作募捐不道德，有的人认为救命远比道德更重要……央视某主持人说：网络推手出于善意目的制造“缺德炒作”，对社会诚信造成的损害是不可估量的。

某网站针对所谓“社会道德危机”，曾组织网民在网上进行讨论。

网民A认为：道德失范的根源应归咎于市场经济的快速发展。市场经济与生俱来的盲目性、自发性、趋利性、等价交换性等致命弱点，必然导致拜金主义和极端个人主义的滋长、蔓延和泛滥，引发社会秩序混乱，道德沦丧，诚信缺失。

网民B认为：市场经济大潮的冲击和物欲主义的侵蚀，使不少人越来越远离向内心的叩问，在不少人身上，理想、信仰的感召力在减弱。人们应当重拾信仰，让信仰不再缺席。

“给定资料5”中提到，某网站曾组织网民进行了一场讨论。请你根据“给定资料”，反驳“网民A”的观点。

视频解析

要求：(1)观点明确，分析透彻，论据充实；

(2)语言流畅，层次清楚，有说服力；

(3)不超过400字。

【答案提示】在市场经济快速发展的社会背景下，的确出现了许多道德失范、信仰缺失的现象，但同时我们也应看到社会上仍然不乏拥有诚信精神、志愿精神、感恩精神、奉献精神的道德楷模。事实上，现代市场经济就是信用经济，诚信是市场经济赖以生存的基础，如果说市场经济的快速发展是道德沦丧、诚信缺失的根源，未免有失公允。

当下我国之所以会出现道德滑坡的问题，主要是由以下几方面的原因造成的：一是道德松弛，传统伦理道德的精华未被很好地继承。一些承载着中华民族优秀品质的观念和规范在历史发展的过程中被逐渐遗弃，这也使得许多人逐渐失去了理想和信仰。二是舆论不张，一些媒体宣扬的价值观误导公众。许多媒体为吸人眼球往往追求出位而罔顾媒体公德，更有职业网络推手的“缺德炒作”等种种媒体乱象使得公众价值观被误导。三是管理乏力，监管乏力、惩罚过轻导致道德失范的成本过低，加上实际管理过程中“好事人人管”“坏事人人管不了”的现象时有发生，为一些不道德的、违法的行为提供了生存空间。

二、给定资料

2.如果地铁站台或者行驶中的地铁列车失火了，大量乘客如何有效疏散？如果12级台风登陆上海，那些高层建筑上的玻璃幕墙顶得住吗？……这一个个“如果”，都是上海某大学防灾救灾研究所的一个个科研课题。

上海某报记者报道：最近在全市开展的“我为城市安全献一计”活动，引起了研究所专家们的密切关注。一方面，他们为市民居安思危意识的增强和诸多防灾好点子欣喜；另一方面，专家们很想提醒：“防灾不能只考虑技术手段——给城市打造‘金刚罩’，更得在‘人防’上多下功夫，而恰恰在这方面，我们大有改进和提升的空间。”

“城市公共交通若都能配备全程监控，运行的安全系数就更高了”；“上海越江隧道已经有10多条，针对可能遭遇淹水事故的危险，不妨装上安全阀门，需要时可用来挡水”；“预防高楼玻璃幕墙掉落，应该对建筑做整体风洞试验”……这些意在为城市套上一个水火不侵的“金刚罩”的设想，很有道理，提出这些建议的专家中不乏院士。

“但我们不得不面对现实：一座城市不可能为了防范一些小概率的灾害事故，不计代价地增添防灾设施。”该研究所专门研究城市地下建筑安全与灾害应对的H博士，对地铁渗水和隧道渗水实地考察过多次。他对于一些学者提出为越江隧道增设“挡水阀门”的建议，并不完全认同。他说：“据我了解，国内有个别隧道安装过这样的阀门，但可以想象，常年用不上；后来有一次搞演习时决定用一下，却发现阀门由于年久失修，机械失灵，根本没法动。”

H博士想用这个案例说明两个道理：第一，为了小概率事故而砸重金设防，心理安慰作用远远大于实际作用，要不要这么做，应全面考量；第二，如果装备上了，则怎样保养维护，工作人员能不能熟练操作，都是必须重视的“人防”环节，否则，当有朝一日预想中的特大灾害真的发生，“金刚罩”极有可能派不上用场。

“防灾设施，从理论上说总是不足的，因为它们应对的往往是适当程度的、发生概率较高的灾害事故。”研究火灾防范的C研究员力挺H博士的观点。这位研究员对轨道交通实地考察过多次，他关注的焦点是地铁站和车厢里的消防设施。他注意到，站台和车厢里的屏幕会经常播放视频，告诉市民一旦发生火灾险情如何紧急疏散，强调必须做到的一些要领。

当被问到“地铁里有没有专门的消防逃生通道”的问题时，C研究员回答：上海地铁的逃生通道，其实就是我们平时上上下下的那些楼梯，并没有其他特殊通道。他说：一旦有险情发生，要减少人员伤亡，最关键的是工作人员能否在最短时间内有序地疏散人群，工作人员需要定期演练；我们现在似乎更看重灭火器数量够不够、是不是放在容易找到的地方，但险情出现时现场肯定乱，工作人员能不能及时顺利地拿到灭火器，会不会熟练使用，这些都是必须予以重视的问题。或许有乘客就在灭火器旁边，但又有几个人会用？

“老实说，怎么用灭火器，我还真不知道。”说这话的，是另一位年轻的研究员Y博士。防灾专家也不会用灭火器？她坦率承认，并随即以此为例指出了城市公众教育的许多薄弱环节。

“无论社区里的大爷大妈，还是写字楼里的白领，防灾知识都是从小册子、展板、讲座或者网络上看来的。且不说所知有限，即使认为不少人一无所知，也并不为过。而且就算有人并非一无所知，也未必有用，因为没有转化为能力。”Y博士说，汶川大地震、上海“11·15”特别重大火灾事故发生后，很多单位都搞过安全演练，可很大程度上是“演戏”。大楼里有消防箱，但如何打开？消防箱里有灭火器，但如何操作？应急避难场所在哪里？怎样利用？这些关键的内容演练过吗？再说，演练一次肯定不行，就算学到点东西，很快便会淡忘，必须定期训练。日本人应付地震有一套，那是在定期、再三的演练中练出来的。

在这些专家看来，“人防”的漏洞和缺陷，远比“技防”不足更可怕。

专门研究风灾防控的Y博士曾多次去浦东陆家嘴，这一地区有几十栋玻璃幕墙大楼，且不止一次发

华图教育 HUATU.COM SWSP2021

生过玻璃掉落事故。这些玻璃幕墙建筑能不能抵抗 12 级以上大风，这正是她的科研课题。她告诉记者，大风常被认为是玻璃幕墙掉落的“元凶”，但实际上，在建筑工人安装玻璃时可能就已经埋下了隐患。

“在安装时，把螺丝拧得过松固然不行，但过紧也会使玻璃幕墙受力失衡，从而出现细小的裂缝。”她说，如果把大楼玻璃幕墙的掉落视作对城市安全的一种威胁，那么减少威胁的关键同样在“人防”。如果在定期清洗幕墙表面的同时，增加一道“体检”关，绝大多数玻璃掉落事故就可以避免。

根据“给定资料 2”，对专家们所说的“技防”“人防”加以解释。

视频解析

要求：准确、简明。不超过 150 字。

【答案提示】技防：以技术手段为核心的安全防范手段。集中表现为增添高科技含量的防灾设施和装备，为城市打造“金刚罩”，如安装安全阀门、灭火器等。

人防：以人为核心的安全防范手段。表现为仰赖人力执行和落实的防灾知识学习并转化为实际操作能力，防灾设施和装备的安全安装、保养维护、定期检查及熟练操作使用等。

三、给定资料

4.越是上学难，有些农民却越把希望寄托在下一代上学受教育上。如 F 村各家相互攀比，“不惜血本供孩子读书”，以至出现了忍饥挨饿、倾家荡产供孩子读书的“英雄”。教育的成本越来越高，有社会学家计算过，一个大学生 4 年的学费大约相当于一个农村居民 20 年的纯收入。不用说西部贫困地区，连基本脱贫的东部地区的农民孩子的“大学梦也越来越远了”。实际上，新世纪以来，农村孩子在大学生源中的比例与上世纪 80 年代相比，几乎下降了一半，这就意味着“通过高考，农村孩子向上流动的渠道”正在“缩窄”。贫困家庭用于教育的支出占其收入的比例仍相当大，也就是说，农民倾其全力支持了教育的发展；而现在一旦出现了大学生就业危机，贫困农民家庭所受的损失将是巨大的。

在当下，中国农村出现了必须引起社会高度关注的现象：H 省的一项调查表明，个别地区的农村贫困生的失学率高达 30.4%，辍学的学生基本上都是 20 世纪 90 年代出生的那一代，他们的父母有的过去还能读到高中毕业，而他们之中有数量可观的人初中还没有读完，由此导致的劳动者文化素质的下降，对未来中国发展的影响，确实令人担忧。有社会学家指出，“在一些地方已经出现明显的因教致贫、因教返贫的现象”，“G 省的抽样调查显示，由于教育因素返贫的农户，占返贫总数的 50%”。农民寄希望于教育使他们的子女另寻出路的想法靠不住了，于是“辍学”之风抬头，用一著名作家的话来说，就是用辍学来“保护人心，保护土地，阻止下一代向充满着蔑视、冷漠以及焦灼不宁的惨淡日子滑落”。但也如这一作家所说，这样的选择既显得“荒唐”，又有些无奈。而且也还有许多农民几乎是孤注一掷地仍然将孩子的教育放在生活中的第一位，这样“知其不可为而为之”的努力确实给人以悲壮感。一位下乡支教的大学生说，这是“困境中的不绝希望”。如果不对农民寄以希望的教育（包括农村教育及城市教育）进行新的反思与改造，如果不从根本上解决教育资源的合理分配与农民子弟就业难的问题，恐怕很难实现他们可以看到并应享受的教育，即广大农民寄以希望的教育。

根据“给定资料 4”中的有关内容，谈谈对文中“困境中的不绝希望”这一表述的理解。

视频解析

要求：准确、简明。不超过 150 字。

【答案提示】“困境中的不绝希望”中的“困境”一是指农村家庭贫困，难以负担子女的学费，甚至出现因教致贫、因教返贫的现象；二是指教育资源分配不合理，农村教育水平难以保障；三是指大学生就业、农民子弟就业不乐观。“不绝希望”是指面对以上的困境，农民仍然寄希望于通过让子女接受教育，进而走出农村，摆脱贫困，寻求更好的发展。

四、给定资料

8. 以下是根据一位资深广告人在某会议上的发言录音整理的部分内容：

现在是一个大数据时代，我们被逼跟着数据在走。我们在继续往前走的时候，要倒退到原点回顾一下你当初为什么要做这件事情，这是世界各地尤其是国内比较欠缺的东西。很多中国的企业都在扮演“我跟随”的角色，别的行业有这个东西，我也就要做。

我们都在寻找我们能做什么，其实我们都忽略了很重要的一点，我们更要知道你不能做什么，你不要做什么。我们常常看到很多广告和传播说你要做你自己，这是废话，你除了做你自己还做谁呀，你不能做周杰伦，周杰伦给周杰伦做了，刘德华也不行，你只有做你自己，但你要做得比周杰伦和刘德华还好。

这几年我称自己是一个下岗的广告民工，我反而看到很多当时我身在广告业中看不到的东西，因为越来越平民化，越来越农民化，我看到的东西都是很小的东西，但这些东西都很可能举足轻重，能够改变很多东西。数据引导我们，我们会本着数据做很多东西，但千万不要把数据变成一个依据，你要在数据中找到有什么东西可以挑战，而不是变成一个护身符，数据说这样，我们就这样，在这个时代，创意的思维方式可能超过以往任何时候。

做任何事情，大到做人、做行业，小到你要做的事情、要找的东西，都应该考虑，到底有没有挑战？不能因为别的企业做了这样的东西，你就也要去做。你要想一想，你做的东西有没有挑战你的企业，会不会挑战你的员工，最主要有没有挑战你本身？尤其现今社会，人类基本上没有自信心。因为我们没有狼牙虎爪，我们连乌龟壳也没有，所以，我们需要包装，我们需要洋房、汽车、美容，再不行把面孔也改了，手机的美化软件就是应此而生。现在的手机我真的试过 45 度拍，脸真的尖了，现在的手机还可以让你美白，眼睛变大，大家可能也看过那种手机美女和真人对比，把你吓死。

国外一个电视台访问过很多最近新兴的小企业家，你会发现他们有一个共同点，他们都在新的尝试中找到挑战，基本上他做的不是他原来做的东西。所以，一定希望在你做的东西中找出你的挑战……不然的话，你如果只是想，尤其在中国大陆只是想明天过得比今天好一点，那太没有意思了。我估计在场每个人的学历和资历都会比我高，但我能有今天就是因为我读书少，在下只有中学的学历，现在再把我送去高考，我还是会考不上，但我有自知之明，我读书少，我不会的东西多，从第一天开始，我到现在仍然有这个习惯，从零开始。在座各位可能觉得这个理论大家常听说，这个东西可能是任何行业最难做的东西——从零开始，人性的习惯会使你习惯于从你前一个案例，尤其是成功的案例去借鉴，你希望做得更好，但是，以我冷眼旁观，这里面有很多问题。最近我被邀请回新加坡，我现在被收录到新加坡档案局里，是以一个非典型而被记录，因为以我的背景我不可能有这一天，但是因为这个“零”有很多的意义，因为我什么都不懂，什么都不会，结果这变成我最擅长的一个行业。

所以，各位如果有机会的话，能否像我一样，我每天都逼着让自己客户归零，归零后一般人想出来的东西都和立场不一样。

我常常鼓励学生，我也会鼓励任何人不要怕犯错误，错误是一个很大的动力，当你不怕错误的时候，你差不多什么都敢做。我的能量来自什么？我学历不够，我甚至没有修过广告学。不要怕失败，我们常说失败是成功之母。所以，敢于去犯错，我们有很多成语故事教过我们这样做，但我们是否真的从中学到过任何东西呢？

阅读“材料 8”，谈谈你对其中画线部分“我能有今天就是因为我读书少”的理解。
要求：全面、准确，解读充分，条理清楚。不超过 300 字。

视频解析

【答案提示】“我能有今天就是因为我读书少”这句话旨在告诉我们要有自知之明，从零开始。

1.敢于挑战自己，尝试新的挑战。

2.把自己放在更低的位置才能看清问题。

3.认清自己，做真正的自己。

4.避免盲目跟风，激发创新思维，敢于挑战并注意把握挑战的度。

5.不怕犯错误，敢于面对错误。

因此，我们要作出改变，有自知之明，习惯从零开始。

五、给定资料

3.大批赴美志愿者汉语教师在美国校园和社区内担当着文化使者的角色，来自四川的高中教师小琼就是其中之一。为期一年的赴美教学经历给她、她的美国学生乃至美国“街坊邻居”都留下珍贵记忆。

小琼在俄克拉荷马州一座小城执教，借住在一对老夫妇家中。小城只有一家沃尔玛超市。用男主人加里的话说，“全镇人几乎互相都认识”。这个四川姑娘每次出门都会被当地人认出来，很多人都会友善地同她打招呼。

文化交流归根结底是人的交流、感情的交融。小琼说，自己在2008年汶川大地震中不幸失去双亲，很长时间难以从悲伤中走出来，但这对美国老夫妇的悉心照顾、小镇居民的热情让她真切感受到人间真情。

和其他汉语教师一样，小琼也配备了介绍中国文化的“资源包”，内容从神话故事、历史名人到古典名著不一而足。不过，在和孩子们的接触中，她本身就是当地人了解中国的一个“资源包”。“你们也有手机么？”“家中有电视吗？”一个个问题背后是美国孩子对中国的不了解。当然，在打开“资源包”的同时也不可避免引发价值观碰撞。“美国老师不加班、中国老师爱加班”“中国人爱储蓄”，甚至小琼想起万里之外家人时充盈的泪水，都让孩子们乃至大人们真切地感知着“中国人”的家庭观念，碰撞后带来的是了解和欣赏。

“我们觉得她是最好的‘中国制造’。”加里对记者幽默道，“如果你们国家要派出中国文化大使，选我们的琼准没错。”

当记者在世界各地问起：“提起中国文化，您会想到什么？”在赤道边春城内罗毕，中非关系专业在读研究生瑟库拉这样告诉记者：“孔子，我会想到他。我上过不少有关中国外交、非中关系的课，每次遇到理解不了的思想时，我们就开玩笑说‘这是孔子的思想’，每次辩论课上找论据时，我们最后总会找到‘孔子曰……’。西方也有很多先贤，但中国先贤似乎我只了解孔子。”

在内罗毕CBD地区一家大排档餐厅，28岁的顾客贝利对记者说：“我通过在内罗毕工作的中国人了解中国文化。我觉得要想让肯尼亚人了解中国文化，最重要的是生活在本地的中国人的态度，希望中国人能同当地人多交流。中国政府也应在非洲多办一些展览，比如饮食展览、传统服饰展览，这样我们才能了解更多中国文化。”

记者在采访过程中最深刻的体悟是：在融合流动的地球村里，每个人都是一国最生动的“文化名片”，你传达什么，对方就感受什么。提高中国文化软实力，扩大中国文化的国际影响力，看似工程浩大，却始于足下。建设社会主义文化强国，政府需要做的还很多，而民间交流、业界合作也亟待进化升级。

根据“给定资料3”，谈谈你对“我们觉得她是最好的‘中国制造’。”这句话的理解。

要求：全面、准确、简明。字数50—150字。

视频解析

【答案提示】这句话的意思是指，在文化交流中，文化使者是一张文化名片，向世界真实展现中国人的价值观，形成友善的沟通氛围，实现文化认同，扩大国际影响力。

因此，我们应该：创新文化宣传形式、推介中国文化；加强文化交流，提升文化软实力；开展民间交流、业界合作，建设社会主义文化强国。

华图教育 SINCE 2001 HUATU.COM

提出对策题易错易混真题集萃

一、给定资料

1.某报记者在调查食品安全领域问题时，发现了一个地下黑加工点。记者暗访了该加工点利用双氧水、工业碱等有害添加剂，发制、漂白百叶、毛肚等食品的全过程。记者发现，雇佣工小张的工作就是用煮、晾、泡等工艺制作百叶、茄参、毛肚等水发食品。制作过程中加入起增重作用的工业碱，起漂白、防腐作用的双氧水和起中和碱作用的盐酸。平时厂房里就小张一个人负责加工，产品有专人运往市场。据小张讲，利用工业碱、双氧水等食品添加剂制作水发产品，在这个行业不是少数。另外，在其他行业也有类似运作。

这个地下黑加工点，有自己的运货车、批发点、销售点，有毒、有害的水发制品从生产到销售只需要两天时间。每天生产1000斤左右的水发制品，在凌晨三四点钟用专门的运货车将成品运到老板指定的海鲜市场出售。“我知道做这项工作是昧良心和不道德的，实际也是违法的，整日生活在恐惧中。但看着老板不断地加薪，我的心又开始活动了，我从心里也在说服我自己，不就是加点添加剂，吃的时候用高温水烫一下也就没事了。况且干了这么长时间，政府也没有一个单位有人来管。”小张向记者坦言。

这个地下黑加工点一个月就销售非法加工的茄参2.6万斤，销售额30余万元，毛利润能达到10万元。记者向有关单位反映地下黑加工点的情况时，发现处理此事牵涉工商、质监、农委、公安等多家单位。“三个和尚没水吃”，在实际管理过程中，出现了“好事人人都管”“坏事人人管不了”的现象。

“给定资料1”中反映的问题需要妥善处理，假定你是某市政府职能部门的一名工作人员，领导安排你处理此事，请你提出解决问题的具体措施。

视频解析

要求：条理清楚，所提措施具体、有针对性。不超过400字。

【答案提示】第一，会同工商、质监、农委、公安等多家单位进行商讨，确定各部门处理这一事件的职责，并安排专人负责具体事项。

第二，依法查封、关闭这一地下黑加工点，派专人调查该地下黑加工点生产产品的流出方向，将还没有流向群众餐桌的产品予以销毁，并对生产商和销售商进行严厉处罚。

第三，以此为契机，在全市范围内开展违法食品专项整治活动，大力查处不符合规定的食品生产厂家、地下黑加工点。

第四，利用各种宣传方式对这一事件进行曝光，引起群众的足够重视和警觉。加大对食品安全问题的宣传力度，普及食品安全相关知识，使群众能够辨识“有毒”食品，并对其他的不法商人起到警示作用，同时鼓励群众积极参与监督。

第五，加强对食品生产行业的监管力度，同时向有关部门建言献策，制定并完善关于食品安全监管方面的法律法规，将食品安全管理纳入到法制化轨道中。

第六，对相关从业人员开展食品添加剂知识培训和思想道德教育，使其认识到添加剂的危害性，从而强化其行业自律性。

二、给定资料

4.T市晚报刊发了一批“市民来信”，集中反映了城市市民出行中遇到的问题。

市民甲：8月下旬的一天早上，我送朋友去赵家口长途汽车站，发现这里是一个Y字形路段，行驶的车辆由两条机动车道汇聚到一条机动车道上。引人注目的是，两条分支机动车道中的一条上缓缓行驶着大量公交车，一辆接一辆，车队一直排到Y形车道汇流口。刘公铺桥西这一站点设置在两条机动车道之

间，我和朋友便是在这一站下的车。这里下车的乘客很多，从公交站牌看，至少有 15 条不同路线的公交车要在这一站停靠。这就使得上下车的乘客特别多，疏散时间增加，公交车停靠的时间也就相应增加，而之后需要进站的公交车排队进站的时间也被延长。我看到排队等候进站的公交车一直都保持在 5 辆以上，使得路面拥挤不堪。我从刘公铺桥西站下来后沿着公交站绕了一圈，发现并没有能够穿过马路的人行横道。乘客如果想要安全地走到 5 米开外对面的公交站，需要返身走几百米去绕行赵家口天桥。这对于在上班时间急着换乘车辆的人来说太费时间，所以我看到绝大部分下车的乘客都径直走到站点与绿化带之间的空隙处，在大量的机动车流之间惊险地穿过马路。这虽然存在着巨大的安全隐患，但与登上天桥再下来相比显得方便快捷许多。

市民乙：前几天上午，我去石化总公司附近的体检中心体检。事先我从公交网上查询得知，经过我家小区附近的 16 路公交车可以抵达石化总公司。乘 16 路车顺利抵达目的地并体检之后，我按惯例走到回程方向的石化总公司站点等车。等了约 20 分钟，来了一辆 16 路车，却呼啸而过，并没有靠站。我先是误以为司机甩站，后来无意中看了一下站牌，发现这个站点并不停靠 16 路公交车。这让我有上当受骗的感觉，心情也被败坏了。一个朋友说，他经常乘公交车出行，沿江路上的清河站的 58 路、117 路也是“有去无回”的。对这类现象，我百思不得其解：公交公司为啥不让乘客有去有回？

市民丙：随着我市城市建设速度的加快，轨道交通网络不断向外延伸，远离中心城区的住宅区越来越多。但是，轨道交通只解决大流量，不能完全解决住宅小区到达轨道交通车站之间的“最后一公里”问题。退回去 20 年，有没有“最后一公里”的问题？有。那当时是怎么解决的？一是走路，二是骑车。现在为什么没人走路了？过去走是因为经济困难，现在几块钱对绝大多数人来说都不是问题；有人想走，却发现道路坑坑洼洼或晚上黑灯瞎火，感到特别不安全。为什么现在骑自行车的少了？因为骑车的成本也不低。现在规范的小区里，自行车必须停在车库里，每月要交停车费；你想停在公交车站或者轨道交通站点，也必须交停车费，否则很容易失窃，交了钱也不一定保证不丢。此外还“受气”。现在是汽车社会，不少道路上都没有非机动车道，即使设有非机动车道，也常常被乱停的机动车占用。于是，原本可以自行解决的“最后一公里”被“黑车”填了空。在公交站点，有不少小轿车、摩托车、电动车等“黑车”聚集。由“黑车”引起的交通事故常常让人心有余悸。

“给定资料 4”反映了 T 市市民出行中存在的许多问题，假定你是市交管局聘请的观察员，请就这些问题提出解决建议，呈送市政府有关部门参考。

视频解析

要求：(1)对存在的问题概括准确、扼要；

(2)所提建议具体简明、有针对性、切实可行；

(3)不超过 400 字。

【答案提示】问题：

(1)站点设置和规划不合理，且未就近设置便捷人行横道，加剧拥堵，存在极大安全隐患。

(2)某些公交车停靠站点的设置不具有对称性，有去无回，致使市民出行不便。

(3)住宅小区到交通车站之间的“最后一公里”成为难题，自行解决渠道不畅，“黑车”填空。

措施：

(1)在站点设置和规划上综合考虑多条车道汇聚情况、车流量等因素，尽量避开多条车道汇聚处，适当限定站点停靠车辆数目或对停靠车辆较多的站点进行站台拉长和站牌分散错开处理，且在站点附近设置方便市民快捷换乘和过街的人行横道。

(2)尽量对公交车来回停靠站点进行对称性设置，若因客观条件限制不能对称设置，则应利用既有的语音预报系统，在来回停靠不对称的站点向乘客预报这一不对称情况，让乘客心中有数，早做准备。

(3)做好道路平整建设和公共照明灯安置工作，完善对道路非机动车道的建设和管理等工作，为市民自行解决“最后一公里”问题提供条件；以一个或相邻几个社区为单位制定便宜、安全且便捷的巴士出行方案；取缔“黑车”。

三、给定资料

8.德国鲁尔区位于德国西部的北莱茵-威斯特法伦州(简称北威州),由11座城市和4个区构成,总面积4400平方公里,人口530万,是欧洲最大的工业区。鲁尔区以生产煤和钢铁为主。20世纪60—70年代,由于石油和核能运用所带来的能源消费结构的变化,煤炭的需求量下降,与此同时,钢铁业也开始走向衰落。这里先后遭遇了“煤炭危机”和“钢铁危机”,鲁尔区的经济受到严重影响。采煤、钢铁、煤化工等主导产业衰落,失业率上升,大量人口外流,环境污染严重,鲁尔区的可持续发展受到严峻挑战。面对危机,德国政府审时度势,成立了鲁尔煤管区开发协会,制定总体规划,分阶段明确转型的目标和任务,并制定相应的政策,统筹安排整个工业区的转型发展。经过几十年实践探索,取得了很大的成就。

过去,人们对鲁尔区的普遍印象是:矿区与煤和钢有关,人的脸是黑的,男人们日出而作,日落而息,辛苦操劳;河流里流淌着污黑的河水,河道是工业污水的通道,环境污染严重,不适合于人类居住。鲁尔区转型以来,经过长期不懈的协同治理,通过大力宣传、重塑形象,从20世纪90年代以后,鲁尔区在人们心目中的传统印象开始逐步改变。环保型的工业园区不断扩展,代替了乌黑的矿山和沸腾的钢厂;昔日污黑的河道而今流淌着清澈的河水,一度被严重污染的环境恢复了优美洁净的原貌;通过“造地复田”、“复垦绿地”以及综合利用等方式,许多报废的矿井得到了重新修整,成为传统教育或培训实习的基地。曾几何时,一度废弃的矿井和炼钢厂变成了博物馆,煤渣尾矿改建成了室内滑雪场,淘汰的煤气罐、矿井甚至成为游客驻足的旅游产品。鲁尔尝试把各个城市的历史挖掘出来,把文化保留、传承下来。例如,埃森市的矿区已经申报世界文化遗产;市内“鲁尔文化基金会”收藏了大量反映鲁尔区工业发展历史的图片和影像资料,每年吸引近500万游客前来参观。在这里,工业发展的每一个历史名胜,都有可能成为一个有价值的“卖点”。把工厂变成一个艺术馆,人们在废弃的工厂里举办大型音乐会;把以前的车间变成大型餐厅,给周边居民带来更多的就业机会;把矿山变成一个公园,用机械化向游客展示工业时代的文明。鲁尔区正在努力以崭新的面貌向世人展现德国的工业文化之路。

华图教育 HUATU.COM SINCE 2001

“给定资料8”提到了德国鲁尔区经济转型的成功案例。请简要分析说明这个案例对于促进我国资源型城市经济社会发展提供了哪些有益的启示。

视频解析

要求:观点明确,言简意赅,具有针对性;不超过300字。

【答案提示】德国鲁尔区经济的成功转型启示我们应该统筹经济、社会、环境三者协调发展,构建资源节约型城市,促进经济社会可持续发展。

(1)发挥行业协会组织的作用,统筹规划经济与环境的协调发展,分阶段明确转型的目标和任务。

(2)重新修整、综合利用废弃的矿井等资源,挖掘废弃资源的利用价值,开发工业旅游新产品。

(3)不断吸引社会资源,建立专项资金,注重城市文化遗产的传承与保护,结合人文与历史价值,打造旅游胜地。

(4)整治污染,恢复优美洁净的环境原貌,替换钢铁等资源消耗过大的落后产业,打造适宜人类居住的环保新型工业园区。

(5)大力宣传,重塑形象,增加周边居民的就业机会,保障居民生活收入,实现安居乐业。

四、给定资料

5.劳动技术教育是把劳动教育与工农业生产、社会服务性劳动的技术教育结合起来,既有利于促进学生德智体美等方面的全面发展,也为他们将来的就业准备一定的条件。因而劳动技术教育可与职业技术教育紧密结合或在某些方面融为一体,通过职业教育来培养具有良好的实践技能和动手能力的劳动者。

我国的职业教育是国民教育体系和人力资源开发的重要组成部分,肩负着培养多样化人才、传承技术技能、促进就业创业的重要职责。2014年2月26日,国务院常务会议专门部署加快发展现代职业教

育。6月23日，国务院召开全国职业教育工作会议，明确到2020年形成适应发展需求产教深度融合、中职高职衔接、职业教育与普通教育相互沟通，体现终身教育理念，具有中国特色、世界水平的现代职业教育体系。国家对职业教育如此重视，令人备受鼓舞，不过网友们在欣喜之余，对职业教育的发展也表达了自己的看法：

网友A　我是一名高职的大专生。我们被普遍认为是低等生，职业教育总被认为是“二等教育”。在我们这里，一些用人单位在招聘时特别强调第一学历、第二学历，有的用人单位直接规定被聘人必须是本科“名校”出身或持有研究生以上学历的毕业生，这对我们职教毕业生的职业发展是不利的。虽然国家对职业教育也越来越重视，但是优秀的技工工作累环境相对不好，社会地位也不尽如人意，谈何就业的“发动机”呀？

网友B　我是农村职业教育的一员，深刻了解农村职业教育的苦痛！农村职业学校设施远远落后于时代！我们学校教师不够，硬件设备更是缺乏。学生每天在黑板上学开车、搞电焊、预防病虫等，这不是好笑吗？农村职业学校教育急需得到改善！

网友C　职业教育教不出扎扎实实的一技之长就是失败。去年我校好不容易引进了2位教师，都是博士，不过他们学历虽高，可在大学就没真正去干过活，哪有什么技能？上课只能是书本中来、口头上去，这能教出高技能的人才吗？

网友D　现在大学扩招，普通高中扩招，使职业教育出现了“生源荒”。不少中等职业技术学校为争抢生源，搞有偿招生，招一名学生就给学生所在中学几百块钱好处费。有的地方采取地保护主义政策，只允许学生在本县辖区的职业中专就读。有的地方用行政强制手段给下达指标，完不成任务的实行考评一票否决。更令人忧虑的问题是，许多中等职业学校还没办好，质量上不去，却十分热衷于升格到大专，急急忙忙由职高转办高职，这很值得注意！

网友E　现在要想找一份好工作至少要有本科学历，我用了17年时间从中专、委培、本科一直读到研究生。现在选择到职业学校当教师，也是对职教学生缺乏上升通道的困境感同身受。目前，职业教育基本上是一条“断头路”，在职教体系内最高只能上到高职，极个别可以升本科的专业，升本的比例也非常低。在崇尚高学历的大环境下，职业教育出现“就业火”与“招生冷”并存的状况。

假设你是A市教育局的一名工作人员，如果“材料5”中网友们提出的问题都出现在A市职业教育中，请你就如何加快发展A市职业教育撰写一份工作建议提纲。

视频解析

要求：建议合理可行，内容全面，条理清楚，语言简练，字数不超过350字。

【答案提示】

关于加快职业教育的建议(提纲)

一、问题：1.社会地位低：工作累、环境差、就业受歧视；2.学校设施差：设备少、师资不足；3.生源荒；4.缺乏上升通道，没有升学通道。

二、意义：培养具有实践技能和动手能力的多样化人才、促进就业创业、体现终身教育理念、符合国家发展要求。

三、建议：1.提高宣传力度、形成社会氛围。通过媒体宣传职业技术教育就业的大好形势，通过宣传劳模典范等方式提高社会认知度；2.营造职业院校发展的良好环境，出台政策文件，引导职业院校办学；3.加大财政投入、完善软硬件配备，提供财政补贴完善学校设施，扶持农村职业教育；4.建立职业院校招生工作的良性机制，规范招生行为，加强监管，扭转发展理念，扩大生源；5.完善职教体系，与高校联合，健全升学通道；6.完善保障制度，保证职工权益。

五、给定资料

3.专利制度通过给予发明者在一定时期内的市场垄断权，以获得经济利益来弥补创新所付出的成

本。通过专利授权来诱发专利的产生，从而形成从“研发端”到“应用端”的推动力，这也是专利制度设计的根本目的。

某市一家中小型科技企业约有 100 名科研人员。2012 年，企业申请专利 160 项，2013 年计划突破 200 项。老板鼓励科研人员申请专利，承诺只要撰写的专利通过申请受理，就兑现奖金。老板坦言，多申请专利就可以多向政府要钱。按照当地的专利政策，当企业的年专利申请量超过 100 件时，专利申请费就将由政府买单。该企业通过这些专利又能申请到各种名目的科研经费达几百万元。尝到了甜头后，企业成立了专利经营部门，专门申请专利，再向政府伸手要钱。专利经营部门是全公司投入产出比最好的部门。

北京某资深知识产权代理人何先生透露，不少企业申请专利不是为了“使用”或“独占”，而是另有打算。“我们有的客户在提出申请获得受理申请书后，就可以拿着受理书去参加招投标，一般招标方都是认可的。有的企业申请专利就是为了以后申请高新技术企业或获得税费减免政策，还有的纯粹就为了宣传博个噱头”，“高校也一样，专利也是评职称、争优秀的有力砝码”。

目前我国已有专利代理机构 870 多家，包括涉外代理机构。我国年均专利申请的 70％左右是经专利代理完成的。专利代理以其专业性保证发明人正确地办理获得和维持专利权的各种法定手续，并具有细致简单、省时高效的优势。

据北京某知识产权代理事务所的耿先生介绍：“申请实用新型和外观设计专利的代理费用是 1500 元，你如果再交 5000 元，我们给你包过。申请发明专利的代理费用是 5000 元，发明专利因为有实质审查，所以通过比较难，要根据你的专利技术情况，一般保过费要 4 万元左右。”对于费用过高的问题，他们表示可以通过其所在的代理事务所向企业所在区的知识产权局申请减免，申请费、公布费、审查费都可以减免 70％。“个人和企业也可以申请减免政策，但你们自己申请会很难，因为我们比较熟悉系统流程，而且我们也有自己的关系。”

4.2012 年，广东某公司发票识别笔爆出“乌龙”，误将儿童有声读物鉴定为发票。从原理来看，这一冠以“自主创新”头衔的“GLD 发票识读笔”之所以会将儿童有声读物误读为发票，是因为其信息编码与有声读物通用的松翰 OID 信息编码类似，实际上就是毫无技术秘密可言的“教育点读笔”。

世界各国的专利审查制度主要有“形式审查”和“实质审查”两种。“形式审查”主要对该专利申请的申请文件及相关手续、文件的格式、缴纳申请费等形式上的条件进行审核，审查合格后，即予登记、授予专利权。而“实质审查”则是除了对专利申请进行“形式审查”之外，还要对该发明创造的技术内容进行实质审查，即对该项专利是否具有新颖性、创造性和实用性进行审查。我们目前针对实用新型和外观设计专利申请采取的是形式审查制度。比如在此次发票识别乌龙事件中，该厂家提出所谓的“GLD 防伪认证专利技术”申请，只要手续齐全，程序无瑕疵，就能够获得国家的专利授权；对于这项技术是否具有防伪功能，则不在专利审查范围之内。这种制度设计的考虑是，这样可以使申请审批迅速、及时、费用少，由于公布早，使得科技情报得以及时传播。

5.61 岁的 D 先生搞发明在当地是出了名的，他现在已经成功申请到 22 项专利，像他这样的人被称为“草根专利发明人”。然而，他至今只卖出过 1 项专利，由于专利需要交年费，他已经“主动”放弃了其中 16 项专利的所有权。D 先生从搞发明到现在，累计投入资金达十几万元，如果他一直握有这二十多项专利权，那么每年要支付的年费就将近 2 万元，而他现在每月的退休工资只有 1000 多元，这是他无论如何也承受不了的。“我放弃了，别人谁想用谁用，也算为国家做了贡献。”D 先生这样安慰着自己，“老伴对我意见很大，觉得我乱花钱，投钱不少还挣不来钱，只是管不住罢了。”

D 先生唯一卖出的 1 项专利是被东营一家企业买走的，其实卖出这项专利，也实属偶然。“我所在的工作室原先是一个厂子，后来厂子倒闭了，东营这家企业不知道这个情况，来这个厂子订货。在闲谈中看到了我的发明，最终买下了它。”D 先生现在手里还有 5 项专利，其中有 3 项正在与一家建筑公司谈合作的事。D 先生说，他的这 3 项专利是关于空心砖保温的，但现在双方还没有达成正式的合作意向。因为

华图教育 HUATU.COM

他的专利涉及建筑材料，需要经过质监部门鉴定之后才能被应用到建筑上。此前他去找过质监部门，要求做一个鉴定，但质监部门只对企业做，对个人没有这项业务，所以他的想法也没能实施。

前两年，他看到建筑工地上有些短木料使用时需要拼接，但所有的工地都没有这样的设备，于是他费了一番工夫，研究出一台专门的拼接机，几个建筑队用了之后都觉得效果不错，都来订货。越来越多的人要求购买他的这一设备，再后来有人参照他的设备作出了仿制品，也很畅销，“当我觉得它市场价值大的时候，产品已经投放市场，已不再符合专利申请的条件”，D 先生说，虽然自己心里觉得可惜，但也只能放弃，好在通过这种设备，他赚到了几万元钱，用这些赚到的钱，他可以继续搞发明研究。

D 先生的最新专利是适宜城市十字路口的立交桥设计方案。“那时候我在女儿家帮着买菜，出去都要经过一个很大的十字路口、每次等红绿灯的时间都很长。”D 先生眼瞅着车和人都停下等红绿灯，自己就想为什么不研制一种新的立交桥，让人和车各行其道呢？有了一个想法，他便利用买菜间隙去搞自己的立交桥模型，“以往的专利授权都需要一年左右的时间，但我这次的专利授权特别快，仅用了 8 个月，现在我已经让女儿托朋友去相关的交通和建设部门推荐一下，看有没有单位愿意采用我的方案”。D 先生知道，他的这项专利与城市规划和建设有关，涉及众多部门，没有政府的政策扶持，专利是很难转化的。

“给定资料 3—5”反映了我国专利申请过程中存在的一些问题。假如你是政府相关部门的工作人员，请提出解决这些问题的建议。

视频解析

要求：内容全面，条理清晰，针对性强，不超过 500 字。

【答案提示】针对企业利用政府的专利管理漏洞赚取科研经费、专业代理机构垄断专利申请过程、专利技术含量低、专利申请流程复杂等问题，建议如下：

1.完善专利补贴和审查政策：提高审查质量，提高专利的资助门槛，加强对专利内容、质量和创新性的审查；实行专利资助的分级制度，对高科技专利多资助，低技术含量的专利少资助或不资助；提高审查效率，落实简政放权政策，减少行政审查环节；设立经费审查机构，确保审查费用专款专用、使用到位。

2.防止专利滥用：规范企业招标、高校职称评定和政府税收制度，严格审查专利的使用方向。

3.规范专利代理机构：加强对专利代理机构合法性、专业性的审查；向企业普及专利申请流程知识，鼓励企业自主申请，打破专利代理机构的垄断局面。

4.提高专利的技术含量：鼓励高校等学术机构与专利研发机构的合作，鼓励民众创新；鼓励高新技术产业创新，培养创新型人才，吸引和鼓励高校及归国高科技人才创办高科技产业。

5.完善专利支持制度：通过银行低息贷款或补贴等方式加大对中小企业和个人专利创新的财政资金支持，质监等部门增加对个人专利的审批专项；鼓励生产型、应用型的专利创新，引导创新者贴近实际应用创新。

华图教育 HUATU.COM SINCE 2001

公文类写作题易错易混真题集萃

一、给定资料

8.2010年2月9日，腊月廿六。在北京做建筑工程的孙先生回到天津，原定与暂住在天津的家人和弟弟聚一天再回武汉，但他查看天气预报了解到，此后几天，天津至武汉沿线的高速公路，部分地区可能因雨雪封路。他决定赶在封路前赶回武汉，给先期回武汉的民工发放工钱。春节前发放工钱，是他对民工的承诺。当晚，孙先生提取26万元现金，带着妻子和三个儿女出发了。次日凌晨，他驾车驶至南兰高速开封县陇海铁路桥段时，由于路面结冰，发生重大车祸，20多辆车连环追尾，孙先生一家五口全部遇难。第二天早上，弟弟打电话回家，发现哥哥仍未到家，手机也联系不上。预感不妙的弟弟开车沿途查找，结果在河南兰考县人民医院太平间发现了哥哥及家人的遗体。弟弟撬开撞得扭成一团的轿车后备箱，捆好的26万元现金还在。“我们家这个年是过不成了，但不能让跟着哥哥辛苦一年的工友们也过不好年。”沉浸在丧痛中的弟弟含泪决定，先替哥哥完成遗愿。腊月廿九，两天未合眼、没吃饭的弟弟赶回家中，通知民工上门领钱。因为哥哥离世后，账单多已不在，弟弟让民工们凭着良心领工钱，人家说多少钱，就给多少钱！钱不够，弟弟就贴上了自己的6.6万元和母亲的1万元。就这样，在新年来临之前，60多名民工都如愿领到工钱，弟弟如释重负。孙先生弟弟接受记者采访时说，“新年不欠旧年薪，今生不欠来生债”，“包工头也要讲诚信，不能赚昧心钱，这是自己的良心账”。

徐先生是N市某希望小学教师，在婚检时被查出患有严重的肾衰竭及尿毒症。得知病情，他毅然和未婚妻解除婚约，作出一个旁人想象不到的决定——回到讲台前，将自己的余生奉献给教育事业。多年来，他忍受常人无法想象的痛苦，坚持自己在宿舍完成透析，坚守在教师岗位。2008年初大雪封山，他不顾病情严重，一次又一次护送山里的孩子回家；汶川大地震发生后的第二天，他就主动捐出了当月工资寄往灾区；多年来，他一直默默地从微薄的薪金中抽出钱来资助那些需要帮助的孩子，即使在他病情危重时刻也从未间断过。徐先生在日记中写道：“我无法选择自己的命运，但我可以选择对待命运的态度；我无法延伸生命的长度，但我却可以拓展生命的宽度！”

31岁的年轻母亲吴女士有了一个她始终都有些不好意思接受的新名字——“最美妈妈”。2011年7月2日，某市一住宅小区，2岁女童妞妞从10楼的窗台坠落。在楼下人们惊呼的一刻，吴女士甩掉高跟鞋、伸开双臂向妞妞掉落的位置冲去，在即将落地的一刹那，她接住了妞妞。“事情发生在一瞬间，我根本来不及多想。我只知道她是一个孩子，我是一个母亲，孩子是母亲的心头肉，母亲救孩子是天经地义的事！”为了接孩子，吴女士左臂尺桡骨断成了3截，可她的脸上仍挂着明朗的微笑。在家人看来，吴女士能这样做“既意外也不意外”。她丈夫说：“她继承了父母的朴实和善良，她今天所做的事情是平时养成的善良之心，关键时刻只是这种善良的习惯性流露。”吴女士所在社区的居民们自发以系黄丝带和点燃蜡烛的方式为吴女士和妞妞祈福。该省省委书记也于第一时间前往病房探望。美联社等欧美媒体赞扬她“勇敢”“无私”，是真正的“守护天使”。

“给定资料8”介绍了最近社会上涌现出的先进人物事迹，某单位党委决定编印一期《内部学习资料》，宣传他们的事迹，号召本单位全体人员向先进人物学习。请你为这期《内部学习资料》撰写一则“编者按”。

视频解析

要求：概括全面、准确，揭示各位先进人物的精神实质。不超过200字。

【答案提示】编者按：

一个国家只有拥有强大的道德力量，才能成为一个真正强大的国家、一个受人尊敬的国家。我们的

国家从来不缺少这样的力量:无论是包工头孙先生为了及时给民工发放工钱惨遇车祸,其弟随之继续帮助他完成遗愿的信守承诺,还是身患重病的希望小学老师徐先生依然坚守工作岗位的无私奉献,抑或是“最美妈妈”吴女士不顾自身安危勇救坠楼儿童的大爱无疆,无一不使我们切实感受到道德的力量、人性的光辉。

二、给定资料

3.近年来,在发展边境少数民族地区教育的过程中,地处西南边境的L县坚持“调整一些不合理校点布局,逐步推进寄宿制办学”的工作思路,特别是结合国家在L县实施的“西部地区农村寄宿制学校建设工程”,对本县的学校布局进行调整。通过该工程的实施,L县各乡镇学校布局更加合理,办学条件进一步改善,办学效益得到了明显提高。L县在将教育资源的合理配置作为中心工作来抓的同时,注意发动社会各界共同关心和支持,努力把寄宿制学校办成群众满意、家长放心、学生“进得来、留得住、学得好”的学校。

撤并教学点,意味着自己的子女要去更远的地方读书,来回的交通又不方便,难免会让家长心存疑虑。L县充分利用报纸、广播、电视等宣传媒体,开辟“创建”专栏,还利用挂横额、张贴标语、出板报等形式大力宣传创建寄宿制学校的重要意义,营造良好的舆论氛围,动员社会各方面的力量都来关心、支持创建工作。县教育局、乡镇政府干部牵头,带领教师和村干部分头走访学生家长,认真听取群众意见,并做好摸底工作。通过宣传发动,提高广大群众的思想认识,形成全社会关心、支持、参与创建工作的良好氛围。

L县把创建寄宿制学校作为改变农村教育现状的重点工作来抓,有效利用各方面条件,努力提高办学效益和质量,积极为农村教育的发展创造条件。一是充分利用“义教工程”、边境建设大会战教育建设项目、中小学危房改造工程等项目的资金投入,完善了学校的各项设施。几年来,共投入资金4379万元,建设了教学用房56幢,学生宿舍楼89幢,学生食堂79幢,学生厕所73间。二是推进教育资源配置方式的改革,统筹规划学校布局。针对农村校点多、规模小、难以实现有限资源优化配置的情况,L县从各地的实际出发,按照人口自然分布、统筹规划学校布点的原则,把办学的规模效益作为工作的立足点和重要目标。

L县的学校布局调整工作坚持因地制宜、科学规划、先易后难、逐步实施、规模办学,提高了效益,盘活了教育资源。在着力于调整中小学布局、撤并教学点工作进程中,根据当前政府财力和群众承受能力,重点建设一些试点学校,形成了富有特色的实践模式。其一,联村办寄宿制学校。随着人口出生率越来越低,学校生源减少,村村办学校的现象将成为历史,联村办学势在必行。如响水镇棉江、四清、高峰、红阳等村由于靠近设施完善、教学质量好的鸣凤中心小学,L县便利用“义教工程”43万元资金,在鸣凤中心小学建起了学生宿舍楼、教学综合楼和学生饭堂,扩大学校规模,将其建成寄宿制学校。其二,创办民族寄宿制学校。L县武德、金龙、水口等3个乡镇同属边境乡镇,部分村屯由于地处边远山区,交通不便,许多适龄儿童不能按时入学读书。为了解决他们的入学难问题,L县在武德乡中心小学创建了寄宿制学校,招收武德、金龙、水口等3个乡镇部分村小学四、五年级的学生,国家给予一定的生活补助,学生统一到校寄宿就读,实行封闭式管理。目前,该校有在校生752人,寄宿生532人,近十年来共培养了1000多名少数民族学生。其三,创建边境形象学校。L县抓住边境大会战教育项目建设工程实施的机会,积极筹措经费,重点建设一批国门学校,进一步改善了办学条件。现在水口镇罗回中心小学、彬桥中心小学在校生均在500人以上,寄宿生达150多人;水口中学、彬桥中学的寄宿生均超过400人。

L县政府拟进一步宣传寄宿制学校的办学模式,以期更好地提高办学效益和质量。请根据“给定资料3”,以县教育局的名义草拟《给各村中小学生家长的一封信》。

视频解析

要求:(1)内容具体,符合实际;

(2)用语得体,通俗易懂;

(3)不超过400字。

【答案提示】

给各村中小学生家长的一封信

尊敬的各位家长:

你们好!

为了进一步改善我县各乡镇学校的办学条件,调整一些不合理的校点布局,努力提高办学效益和质量,我县正在逐步推进寄宿制学校建设。

在推进寄宿制学校建设的过程中,我县充分利用多种项目资金投入,建设和完善了各项基础设施,使学生的学习环境得到改善。此外,我县从自身实际出发,统筹规划学校布局,使有限的教育资源得到合理的配置。

我县始终坚持因地制宜、科学规划,重点建设了一批联村办寄宿制学校、民族寄宿制学校、边境形象学校等寄宿制试点学校,使学校的办学条件得到了很大改善,解决了边远山区交通不便、适龄儿童上学难等问题。寄宿制试点学校的成功,说明了"推进寄宿制办学"的工作思路是正确的。

改善办学条件,促进农村教育的发展是各位家长的共同期盼,推进寄宿制学校建设将更有助于这一目标的实现。因此,我们希望各位家长能够支持寄宿制学校建设,为孩子们营造一个更适合学习的环境。

L县教育局

××××年××月××日

华图教育 HUATU.COM

三、给定资料

7.B市是一座正处于经济转型期的老工业基地和资源枯竭型城市。与其他城市相比,所面临的民生问题更具有特殊性和复杂性。一是随着矿产资源的逐渐枯竭,原先的一批国有矿山相继破产关闭,导致下岗人员大量增加。由于产业单一,加之传统的手工操作,这些下岗人员普遍技能单一、年龄偏大,再就业能力较差。二是由于B市是一座随着煤矿资源的开发而发展起来的城市,城市布局不合理,老城区、老矿区居民集中,工厂和居民区混杂,居住条件恶劣,城市基础设施老化严重,广大群众要求尽快改善居住和生活环境的愿望十分强烈。三是B市作为经济不发达的西部城市,一直存在着"大城市、小农村"的问题,社会事业发展不平衡,区域间义务教育发展还有差别,农村医疗卫生、城市社区卫生服务以及城乡社会保障体系建设相对滞后。当地老百姓将这些问题形象地归纳为"五多六难":即下岗失业职工多、待业人员多、公亡遗属和工伤职工多、离退休人员多、不稳定因素多;住房难、行路难、入学难、就医难、就业难和生活难。经济难时期,广大群众收入低,在矿区甚至出现了有人因生活无望而自杀的极端事件。因企业破产、职工下岗、相关政策不平衡而引发的群体性事件时有发生。

为解决困难群众的生活问题,近年来B市积极引进食品加工、现代农业、电子元器件、纺织等非资源型工业项目,努力增加财税收入,解决了一批民生工程的建设。比如从2005年起,争取省市两级财政的大力支持,实施了莲花、鲁谷等集中连片棚户区、沉陷区改造工程,总投资54亿元,共拆迁213万平方米,新建住宅面积366万平方米,受益群众13.4万户,31.7万人,一定程度上改善了城市居民、特别是矿区居民的居住条件。对改建完的棚改新区,还注意重点解决居民回迁后生活成本增加、子女入学等配套服务问题;从2009年起,争取国家、省、市三级财政出资,全市基本建立了以养老保险、失业保险、医疗保险和城镇最低生活保障等为主要内容的社会保障体系,初步解决了群众的后顾之忧;先后为近2万名下岗职工发放基本生活费1.6亿元,为3万余名与企业解除劳动关系的职工发放经济补偿金2亿多元。B市最大的国企某矿业(集团)有限公司全部补发了历史上拖欠职工的工资、取暖费、丧葬费和医药费等,合计达1.9亿元,在职职工工资水平也不断提高,目前年人均收入达2万元,比5年前翻了近2番;通过实施

“就业倍增计划”,3 年来累计实现稳定就业 25.3 万人,城镇登记失业率由全省排名首位下降到全省平均水平以下。

B 市既重视经济转型发展,又关注切实解决、改善诸多民生问题,取得了阶段性成效。但是,随着企业的转轨转产,下岗失业人员还在增加,加之新产生的城市劳动力和农村富余劳动力逐年增加,每年尚有 10 万人的就业问题需要解决。此外,与省内其他城市及全国平均水平相比较,B 市的养老保险、最低生活保障、失业保险和城乡医疗保险的标准还不高,城市与农村的社会保障水平差距更大。B 市市委、市政府承诺,在“十二五”期间,将进一步加大政策倾斜力度,采取切实措施解决好各项民生问题,让老百姓及时、充分地享受转型发展的现实成果。

“给定资料 7”提到 B 市经济转型发展过程中重视解决民生问题。请你以 B 市政府的名义起草一份文件,向省政府汇报本市经济转型发展过程中切实解决民生问题的做法和经验。

视频解析

要求:格式规范,概述准确,切合题意,结构清晰;不超过 600 字。

【答案提示】

关于经济转型过程中民生工作开展的情况汇报

××省政府:

随着 B 市经济转型工作的不断推进,B 市的民生问题也得到了极大的缓解和重视,先将 B 市在开展民生工作上的做法和经验向领导汇报,请参阅:

一、工作目标:

B 市是一座正处于经济转型期的老工业基地和资源枯竭型城市,有待解决的民生问题复杂而特殊:一是解决下岗职工技能单一,年龄偏大的问题,实现二次就业;二是合理规划城市布局,改善民众居住环境;三是统筹平衡区域发展,健全社会保障体系,解决“五多六难”问题。

二、工作思路:

1.积极引进非资源型工业项目,增加税收收入,健全民生工程建设。

2.合理利用财政投入,改造棚户区,完善医疗教育等配套服务设施,改善居民的居住环境。

3.建立健全以养老保险、失业保险、医疗保险和城镇最低生活保障为主要内容的社会保障体系。

4.及时发放最低生活保障金和补发经济补偿金,实施就业培训计划,保障就业稳定。

三、工作计划:

目前 B 市在解决民生问题的工作上取得了可喜的成绩,但我们也意识到当下的任务依然艰巨。我们对此承诺,在“十二五”期间,将进一步加大政策倾斜力度,多策并举妥善解决因企业转轨导致的失业人员的就业问题,进一步提高本市社会保障力度,不断缩小城乡差距,让民众及时、充分的共享转型发展的成果!

B 市政府

××××年××月××日

四、给定资料

5.小宋是一名公司白领,每天乘坐地铁上下班,在地铁上她都会关注朋友圈,看朋友晒孩子、出游、美食等照片,不亦乐乎。她告诉记者,现在自己几乎每天睁开眼第一件事就是拿手机,吃饭的时候看手机,开会的时候偷着看手机,睡觉前不看手机就睡不着,连上厕所都要“争分夺秒”地刷屏。“只要关上手机就基本与外界切断了联系。在没有手机网络时,我觉得自己只是繁华社会中一个渺小的个体,一旦手机连上网络,就有一种世界讯息尽在掌握的快感,从网上查找讯息、答疑解惑,到购物、找美食、订酒店……莫不让人感觉到这个‘一站式’服务平台所涵盖的无限能量。现在我离不开它了,没有手机的生活简直无法想象。”

华图教育 HUATU.COM SINCE 2001

小王周末下午回家，发现电梯因小区电路检修停了，他用 10 分钟爬上了 18 层他的家。进了家门纠结了：该干点啥啊？往常他回到家，用电脑和音响听音乐，或用电子书看书报杂志，或用手机和网络聊天，这一停电就都没戏了，电子书没电了（在公交上看书耗没了），手机还残存着最后 10％的电量，但是欠了费连不上网……他不知道能干点什么，最后只有睡觉了。

私家车车主陈先生告诉记者，他经常会在开车过程中看看手机，“有时等红绿灯时间很长，就顺便刷刷屏，没有回复就觉得心里不舒服”。有些私家车主对于“开车玩手机”纷纷表示，“已习惯了，就是管不住自己”，“前面没什么车，反正眼睛盯着呢，刷一下屏没事”。记者从交管部门得知，开车打电话、刷屏等引发的交通事故不胜枚举。

石小姐由于工作的需要和外界联系频繁，手机便成为她形影不离的得力助手。前段时间，石小姐工作进行了调动，接入的电话骤然减少，一向对工作热情很高的石小姐感到十分焦虑，郁郁寡欢，时不时地拿出手机来看看是否有未接电话，还经常把别人的电话铃声当成是自己的手机在响，不愿意关闭手机，频繁地给手机充电，甚至莫名其妙地发火。心理咨询师张老师认为，过度使用智能手机会让很多人健康出现问题，石小姐就是典型的“手机依赖症”。

2012 年 10 月，张先生与弟弟妹妹相约去爷爷家吃晚饭，饭桌上老人多次想和孙子孙女说说话，但是坐在面前的孩子们却一个个拿着手机玩，老人受冷落后，一怒之下摔了盘子离席。而大四学生小曹也说，如今的同学聚会俨然成了“手机聚会”。坐下后不一会儿每个人都会掏出手机鼓捣着，有的时候，明明就坐在旁边，却用手机上的社交软件相互发信息进行交流；有的时候，在网络上聊得火热的同学，见面时却说不上几句话；有时候想跟朋友聊聊天，叙叙旧，可是他总是盯着手机，聊天也是有一句没一句的。有网友调侃道：“世界上最遥远的距离，不是生与死，而是我就在你身边，你却在玩手机。”

如今在地铁、公交车里、马路上等场合那些低头看屏幕的人，有的看手机，有的掏出平板电脑或者笔记本电脑上网页、玩游戏、看视频、逛网店、看小说，等等，每个人都想通过盯住屏幕的方式，把零碎的时间填满。由于低着头看屏幕是这一群体的共同特征，“低头族”由此而得名。目前“低头族”正在低龄化。调查显示，中国未成年人使用互联网的比例高达 96.8％；北京市妇联发布的《2013 年中国城市儿童生活形态报告》也显示：4 岁至 6 岁孩子中，约有 53％会上网，将近八成的未成年人使用移动终端上网。任女士给 5 岁女儿买了一台平板电脑，现在女儿经常拿着它玩游戏，一坐几个小时不与父母交流说话。如果强行收走，女儿还会不高兴，甚至哭闹不止。“这样低头专注于屏幕，除了少儿的视力下降、可能诱发颈椎、睡眠等方面疾病外，其对儿童心智发育的负面影响更令人担忧。”某儿童医院的院长说。

2013 年 10 月 23 日《北京青年报》上发表了一篇题为《科技战胜人类的噩梦》中提到“博客代替着论文，微博代替着博客，碎片代替着体系，掷地喷饭的段子代替了掷地有声的思想……信息的数量与传播的速度代替着真实性、确切性、深刻性、独创性、严肃性……海量化的真伪莫辨、良莠不齐的信息可能成为佐酒的谈资与搞笑搞恶的素材，却很少能体现高深伟大的学问智慧。加速的信息传播造成习以为常的轻飘、浮躁、急功近利、盲从起哄”“超级的智能技术，使电脑或者手机牵着多数人的鼻子走，舒舒服服地弱化着一大批人的智力，而当人们只会用耳朵、眼球、舌头、鼻孔、皮肉来接受信息的时候，很可能意味着头脑的萎缩与灵魂的干瘪，意味着白痴时代、低智商时代的噩梦缓缓逼近……”

根据“给定资料 5”，以××大学学生会的名义，以“不当低头族，回到现实中”为题写一篇倡议书。

视频解析

要求：(1)内容具体，符合实际；

(2)切合主题，逻辑清晰；

(3)语言生动，有感召力；

(4)不超过 500 字。

【答案提示】

不当低头族，回到现实中

全体老师、同学：

你们好！随着电子时代的飞速发展，平板电脑、手机等越来越多的电子产品进入我们的生活。这些产品在给我们带来信息和便捷的同时，也影响着我们的生活：公司白领没有手机和网络不知道干什么；私家车主开车打电话、刷屏等常引发交通事故；同学聚会变成“手机聚会”；甚至有的人因过度依赖手机患上“手机依赖症”，“低头族”也便应运而生。此外，低头族正在低龄化，少儿因过度关注屏幕而引发的视力下降等疾病确实也令人担忧。

可见，低头族带给我们带来的负面影响是无可厚非的。为改变这一现状，拉近人与人之间的距离，我们特向全体师生提出以下倡议：

一、培养丰富的兴趣爱好。积极参加学校举办的活动或兴趣小组，丰富自己的课余生活，增进师生、同学之间的情感交流。

二、正确使用网络电子产品。不过分依赖电子产品，如传统的阅读方式更有利于我们培养正确的阅读习惯，甚至陶冶情操，提高自身素养。

三、重视情感正面交流。多与朋友、同学，以及家人进行面对面的沟通，关注对方精神和心理上的需求。

四、提高自身独立思考，辨识真伪信息的能力；不盲目起哄，增强独创意识。

最后，希望全校师生积极参与到倡议中来，真正做到“不当低头族，回到现实中”。

××大学学生会

××××年××月××日

华图教育 HUATU.COM SINCE 2001

五、给定资料

7.2016 年《中国互联网络发展状况统计报告》显示，中国网民数量达 6.88 亿。具体来看，以 10－39 岁年龄段为主要群体，比例达到 75.1%。其中，低龄（19 岁以下）、学生群体的占比分别为 46.1%、46.4%，20－29 岁年龄段网民的比例为 29.9%，可见青少年是网络受众群体最多的一个群体。青少年生长在一个互联网时代，丰富多彩的互联网世界，是他们的生活方式和成长家园。但是当前网络环境仍然比较复杂，各种谣言、诈骗、色情、暴力信息还较多，严重危害青少年特别是未成年人的身心健康。

为了动员青年网络文明志愿者积极传播安全用网知识，唱响青年好声音，为广大青少年特别是未成年人营造安全、健康、文明的网络环境，共青团 S 省委拟举行“清朗网络·青年力量——青年网络文明志愿行动”，向全省团员青年发出《清朗网络·青年力量》倡议书，号召全省团员青年们积极按照习近平总书记提出的“勤学、修德、明辨、笃实”要求，将共青团员的先进性和担当精神延伸到网上，在网上积极发出青年好声音、形成强劲青春正能量。

时代的进步中，有青年的责任；祖国的梦想中，有青年的梦想。清朗网络空间的建设，青年不做置身事外的旁观者，而要做勇于担当的生力军！

请结合对“给定资料 7”中划线句子“清朗网络空间的建设，青年不做置身事外的旁观者，而要做勇于担当的生力军”的理解，起草一份倡议书。

要求：结构完整，符合倡议书格式。不超过 500 字。

视频解析

【答案提示】

关于贡献青年力量，建设清朗网络空间的倡议书

广大团员青年们：

随着互联网的迅速发展，广大青年已成为互联网世界的生力军。一方面，互联网丰富了我们的生活；另一方面，当前的网络环境仍然复杂，各种谣言、诈骗等信息充斥网络，严重危害青少年特别是未成年人的身心健康。

为了避免互联网给我们带来的不利影响，使互联网更好地服务于广大人群，营造安全、健康、文明的网络环境。在此，向全省团员青年发出如下倡议：

1.积极按照习近平总书记提出的“勤学、修德、明辨、笃行”的要求，在网络环境中传递正能量。

2.辨别并抵制暴力、虚假等不良网络信息，不信谣、不传谣。

3.提高在网络环境中的自我保护意识，避免信息泄露等。

4.拒绝网络诱惑，敢于同网络违法行为做斗争。

广大青年生在互联网时代，长在互联网时代，是互联网最主要的参与者，因此可以说，青年既是互联网最大的受益者，同时也可能是最大的受害者。所以在建设清朗网络空间的征途中，青年不能做置身事外的旁观者，而要做勇于担当的生力军！将自身的先进性和担当精神延伸到网络上，在时代的进步中，在建设健康、文明网络环境的过程中，唱响青年好声音，为营造和谐的网络空间贡献力量！

S省共青团委

××××年××月××日

华图教育 HUATU.COM SINCE 2001

文章写作题易错易混真题集萃

一、给定资料

7.近年来,“讲文明树新风”志愿服务、关爱空巢老人志愿服务、敬老爱老志愿服务,成为社会主义精神文明的显著标志和重要推动力量。上海世博会上,200 余万名社会志愿者参与世博活动的志愿服务;广州亚运会、亚残运会期间,有 59 万名志愿者投身其中;汶川特大地震发生后,不到一个月时间就有 20 万人次志愿到灾区帮助抗震救灾;玉树地震、舟曲特大山洪泥石流发生后不到一天,志愿者就成为救援大军中的重要力量。这种来自民间、集中爆发的志愿精神,诠释了民族精神新的时代内涵。

汶川大地震,这场突如其来的灾难,人类无法抗拒,但面对灾难,举国上下凝聚成了撼动人心的精神力量。大地震当夜,成都街头就出现了无数个献血点和医疗站,前来献血的人排队站满整条街;成灌高速路上,数百辆出租车开着应急灯奔赴都江堰灾区,没有人给他们一分钱,更没有任何人有过要求和命令;唐山市组织了医疗队和抢险队从抗震纪念碑启程,赶赴四川灾区。曾经有过同样伤痛的唐山人,在互联网上深情地留言:“告诉灾区人民,我们和你们在一起。”唐山人曾被别人感动,在汶川大地震中则感动着别人。唐山某村 13 名老乡,自发组成了一支救援小分队,赶往四川北川救灾现场,用最直接、最朴实的行动,对“感恩”一词进行完美的诠释。

前不久,一位普通农妇刘女士在骑电动三轮车赶集的归途中,遇到同村 76 岁的李老太太及其孙女步行回村,遂热心搭载她们坐“顺风车”。不料路上三轮车侧翻,三人均受伤,其中李老太太伤情最重,经抢救无效去世。出于愧疚,刘女士主动提出给予经济赔偿,而李老太太家属四次坚决拒绝。刘女士说:“如果不是我好心办坏事,老太太就不会走得这么早。无论花多少钱都必须补偿!”李老太太家属则说:“我们不能让好人做了好事,却得不到好报。”

“给定资料 7”中讲述了农妇刘女士和李老太太家人之间发生的一段感人故事,请你以这个故事为话题,自拟题目,写一篇文章。

视频解析

要求:(1)结合“给定资料”,并注意联系当前社会实际和自身体会;

(2)观点明确,内容充实,层次清楚,语言流畅;

(3)总字数 800—1000 字。

【答案提示】

德不孤,必有邻

——浅议道德世界的重构

一段时间以来,无良商家制假售假牟取暴利、功利媒体“缺德炒作”误导公众、医生不讲医德“开单提成”、干部利欲熏心损害民生……道德失范的沙尘暴横行肆虐,大有遮天蔽日之势,诚信缺位、舆论不张、管理乏力似乎为这个社会涂上了一层昏黄的底色,有人甚至喟叹:道德已死。然而,在现实生活中,还有一些人、一些事让我们感知善念并未走远:普通农妇刘女士热心搭载同村李老太太及其孙女回家,不料途中车子侧翻致李老太太身亡,但在刘女士主动提出赔偿后,李老太太的家属却四次坚决拒绝,家属坚持,绝不能让好人做好事,却没了好报。一方主动做好事,发生不幸后勇敢担责,另一方却用善良宽容的态度温暖着对方。这件事情让我们看到了以德报德的力量,让我们看到善良者并非独行。在稍感欣慰之余,我们不禁要问,到底是什么导致种种乱象,使社会道德成为了“双面人”?我们又当如何才能坚守最后的道德底线,重构一个道德的世界?

究其根源,行善成本过高、道德失范成本却又太低是道德出现问题的重要症结。在“彭宇案”“李凯强

案”的现实背景下，“救人有风险，救前须谨慎”成为必然。我们常说“人性本善”，但如果因为一次善行却要付出极大的代价，而作恶却可以获利颇丰，人们必然放弃再行善事，甚至会有弃善从恶的极端案例出现。因此，降低行善所要付出的成本，提高不道德行为的代价是解决道德两面性难题的有利途径。这需要加强相关法律法规的建设。我国历来有德刑并举、礼法并用的传统，道德建设与法律建设从来就是相辅相成、缺一不可的两方面。相对于道德而言，法律是刚性的，其具有强制性和权威性的特点，完善的法律法规可以保证好人做好事得好报，至少不会得恶报。除了完善法律法规之外，健全相关制度也很重要。约束机制、监督机制能够保证法律法规更好地实施，同时良好的激励机制则能够把思想引导和利益调节、精神鼓励与物质奖励很好地统一起来。

完善法律法规，健全相关制度说到底只是道德问题的外因，而注重教育在德化中的作用，使人知荣辱、明法度，则是重构道德世界的内因所在。长期以来，我国的教育都存在功利化的倾向，为升学、为就业等目的性，使德育成了弃之一旁的敝屣。同时，德育观念的松弛，除了使得全社会无法形成完善的道德体系之外，更使得法律法规等“他律”的作用大打折扣，因此加强教育在德化中的作用显得尤为重要。通过德化教育使公众的人道主义情感、正义感等有一个正确的发展方向，使人们能够以德报德，建立起良好的公德共识。

但丁认为，人如果没有道德则与走兽无异。而一个没有道德底线的社会，则注定是一个全盘皆输的社会。重构道德是社会自救的必由之路，虽然就目前而言，这条道路还比较曲折和漫长，但只要全社会都一起努力，那么真正实现“德不孤，必有邻”的道德世界的重建则指日可待。

二、给定资料

5.英国哲学家阿兰·德波顿在四川大地震之后发表文章，介绍并阐发了古代罗马哲学家塞内加关于人类灾难的哲学思考。

公元 62 年 2 月 5 日凌晨，一场强烈的震灾在坎帕尼亚省地底迸发，数千名毫无察觉的居民在几秒钟内丧命。庞培城内大部分建筑在睡梦中的人们头顶上坍塌。救援行动因随后发生的火灾而受阻。幸存者除了身上污黑的衣衫，失去了一切。在整个罗马帝国境内，到处是惊恐、难以置信和愤怒的情绪。这个世界上最强大、技术上最先进的民族，在大自然的脾气面前，怎会如此不堪一击？

这些痛苦与惶惑，引起了塞内加的注意。他撰写了一系列文章来安慰他的刚刚遭逢灾难的读者，然而，他的安慰却多少显得生硬和阴郁：“你们说‘我没想到这一切会发生’，难道你们以为，当你知道某件事有可能发生，当你看见它已经发生，这件事居然还不会发生吗？”为了平息读者心中的不平，塞内加在公元 62 年的春季提醒大家：无论我们认为自己已变得多么高明和安全，自然灾难与人为灾难始终是我们生命的一部分。因此，我们必须时刻想到未可预料的事情。平静，不过是历次混乱之间的间歇。没有什么是绝对可靠的，即便是我们双脚依凭的大地。

塞内加认为，由于未曾预料到的事件对我们的伤害最大，由于我们必须预想到所有事情，因此我们任何时候都必须牢记，最糟糕的事情随时都有可能发生。每个人在驾车启程，走下楼梯，或是与朋友话别时，都应意识到各种致命的可能性。塞内加强调：“不应有始料未及之事。我们的思想应先行一步，去面对所有的问题。我们所要考虑的，不应仅是什么事常会发生，而更应是什么事有可能发生。人是什么？人是一件容器。哪怕是最轻微的振动，最小的颠簸，都会让它破碎。人的躯体软弱而易碎。”

在经历了大地震之后，许多人主张应疏散整个地区的民众，并且不要在震区重建房屋。但塞内加并不认为地球上会有一个地方具有彻底的安全。“谁又能保证，他们所站立的这块或那块土地，就是更好的地基呢？如果我们以为，世界上的某个地方可以幸免于难，保证安全，那我们就错了……大自然还没用这种方式创造过任何永恒不变的东西。”

有中国学者读了阿兰·德波顿的文章之后这样解读塞内加的思想：没有绝对的安全，在某种意义上说，人类的历史正是一个与灾难相伴以及与灾难抗争的历史，而塞内加的思想看似悲观，却有助于我们培

养忧患意识，有助于国人在灾难来临之际保持清醒、从容与淡定，并减轻灾难和流血带来的震惊，进而积极地应对灾难。从这个意义上说，塞内加道出的是与中国古代改革家王安石的“天变不足畏”相近的思想。

“给定资料5”画线部分写道：“无论我们认为自己已变得多么高明和安全，自然灾难与人为灾难始终是我们生命的一部分。”请结合你对这句话的思考，联系自己的经验或感受，自拟题目，写一篇文章。

视频解析

要求：(1)自选角度，立意明确，有思想性；

(2)参考“给定资料”，但不拘泥于“给定资料”；

(3)语言流畅；

(4)总字数800—1000字。

【答案提示】

灾难应对之“人防”

纵观古今中外，放眼大千世界，自然灾难从未失其踪迹，人为灾难总是不期而至，它们一次又一次地打破人类自恃已变得足够高明和安全的幻想，一遍又一遍地向人类宣示它们的始终存在，让人类不得不在屡次承受家园被毁、亲人遇难的悲痛之余，承认安全是相对的，而风险是绝对的，不做好万全准备，就会在自然灾难和人为灾难面前“一败涂地”。

无论灾难给人类的教训多么惨痛，人类对它的认识多么深刻，现实中，依然有很大一部分人没有基本的安全理念和起码的安全意识，将“人防”束之高阁。这些人会在生产中违章指挥、违章操作，漠视操作规范，睁一只眼闭一只眼，从而导致一系列人为因素引起的灾难事故，夺去无数人的生命；在日常生活中会任侥幸心理发展蔓延，如面对遭受灾难的人群时，在为其悲叹之余，却暗自庆幸自己没有遭遇到那样的灾难，甚至还很简单地认为那样的灾难不会降临到自己身上，他们连基本的自救能力和逃生技能都没掌握，发生火灾时，不会使用灭火器，即使居住在二楼也会生生窒息在自家浴室里。这些安全理念和安全意识淡薄的人们，在生产和生活中，一旦发生意外，轻则危及自己和家人，重则累及他人，伤人无数，后患之大，不言自明。

面对作为我们生命的一部分的自然灾难和人为灾难，我们能做的就是以坚忍的态度去正视它，并竭尽所能将其损害风险控制在可以接受的范围。这一目标的实现，在仰赖现代科学技术提供的高科技防灾设施和装备做好“技防”之余，更需要我们做好“人防”。

做好“人防”的第一步无疑就是树立安全理念，增强安全意识，培养忧患意识。认识到灾难发生的必然性，没有所谓的绝对可靠或绝对安全，时刻对可能招致灾难的环境条件保持一种戒备和警觉心理，不仅考虑什么灾难会经常发生，更要考虑什么灾难可能发生，因为始料未及的灾难往往是最致命的。第二步则是付诸实际行动，做好将灾难损害风险控制在可接受范围的万全准备，最大限度地提高自救、互救能力和掌握逃生技能。其中，首要的就是针对可能发生的灾难定期做好实战演练，模拟并熟练操作和使用防灾设施和设备，模拟并熟悉灾难发生时的情景，以保证在灾难来临之时能做到保持清醒、从容与淡定，并减轻灾难带来的震惊，从而积极地应对灾难。没人能否认，日本地震中从受难市民到政府均能保持清醒、镇定，从而有效快速采取应对措施不是他们长时间进行定期实战演练的结果。

于灾难，我们不仅要有“天变不足畏”的勇气，更要有防范意识和积极应对的态度，时刻贯彻和实践“人防”这一安全防范手段。

三、给定资料

3.西部某省的B县政府发布了《B县“智慧城市”发展规划(2013—2016年)》，其中指出，到2016年“智慧城市”建设基本形成“基础设施布局合理、示范带动效应突出、相关产业转型升级、信息安全总体可

控”的良好局面，力争使构建“智慧城市”成为该县发展的新模式、社会生活的新方式和经济发展的新动力。对此，网友们纷纷吐槽：

网友甲：我们B县是贫困县，终于也要现代化、信息化了，变成聪明城市我们的生活会好些吗？不过听说现在各地的智慧城市建设都是政府投入，我们县除了水泥厂、茶厂、酒厂之外也没有什么产业，政府哪来那么多的钱建智慧城市啊？而且还规划在三年内建成“基础设施布局合理、示范带动效应突出、相关产业转型升级、信息安全总体可控”的格局，既然县里没有产业，示范什么又带动什么，转什么型升什么级啊，看不懂……

网友乙：在一些地方政府领导看来，没钱又有什么关系呢，只要与学术界和咨询行业合作编制好智慧城市的漂亮规划，再将规划向外发布，就表明地方政府有大气魄，能紧跟潮流。至于规划如何落实、什么时候落实，再慢慢说呗。据消息人士称，一些城市大力宣传的智慧城市工程项目就是由于政府资金无法到位、投标企业不堪重负而出现了项目暂停或延后的情况。

网友丙：我们市已经建成了智慧公交了，不过智慧公交并不智慧啊。3月4日，我晚上加班，下班后到达公交车站时，已近晚10:30，公交智能站牌显示“552路距离本站3站”。我十分欣喜：“终于赶上了末班车了”，于是一直在站台翘首苦候，直到晚11时多，522路还是迟迟未来。一位热心的骑车人停下来问我：“你在等公交车吗？这站牌的提示不准的，你还是别等了。”不得已只好打车回家，结果出租车费翻番，都是智能站牌误导了我！第二天上网一查才知道，早有记者报道我市近一半的公交站牌存在着发布信息不准确或不及时的问题，有的智能显示屏还未通电，没有任何信息。

网友丁：现在智慧城市就是一个筐，什么都可以往里装嘛。一些城市将涉及道路、管网建设以及安防系统的一般性投资均划入智慧城市的信息化投资中，而实际上这些基础设施建成后不能并入信息基础设施网络，也无法实现智能化公共管理系统的升级。过去几年间，外国企业在中国“智慧城市”已中标多个重大项目工程，这些工程采纳国外厂商的解决方案，并依托国外厂商建设城市重要领域的信息系统，芯片、元器件、网络设备、通用协议和标准的90%以上依赖进口，防火墙、加密机等信息安全产品65%源于进口，这很可能会存在一些不可控制的隐蔽后门。

网友戊：现在中央多部委和地方政府各部门大多是各做各的建设标准和规划，一些城市中交通、安防、医疗等各个系统以及电网、燃气、自来水等城市公共系统单独推动，未联网形成信息孤岛，这也让智慧政府联合办公、统一服务存在困难。一些城市管理其实就是办事手段电脑化了，并没有体现出有多么智慧。有一次我去行政大厅办证，被告知停电了无法办公，无奈返回。你说，我市都智慧化四年了，为什么就不能在网上直接办证呢？智慧城市建设涉及人与人、人与机构、市民与市政空间之间的关系，而在这所有关系之中，人总是位于中心地位嘛。

“给定资料3”中提到：“智慧城市建设涉及人与人、人与机构、市民和市政空间之间的关系，而在这所有关系之中，人总是位于中心地位。”请根据你对这段文字的理解，联系当前社会现实，写一篇文章。

视频解析

要求：(1)自选角度，自拟题目；

(2)观点明确，见解深刻；

(3)思路清晰，语言流畅；

(4)总字数800—1000字。

【答案提示】

以人为本，方成大事

——从智慧城市建设说开去

以信息技术应用创新为主要特点的智慧城市，在中国城镇化推进过程中作用巨大，成为城市创新与产业升级的新契机。然而，在智慧城市建设的过程中，人们往往只考虑纯技术层面，以为其与老百姓和企

业无关，其实并非如此。智慧城市的建设更重要的是要充分发挥人的主观能动性，以人为主导，坚持以民生的改善为主要方向，做到“以人为本”。否则，智慧城市建设得再好，也只是一个没有灵魂与生机的空壳。

——以人为本建设智慧城市，应由政府主导做好顶层设计。

顶层设计是指从城市建设的高度着眼，明确建设目标、路线和工作方法。智慧城市工程系统庞大，需要进行全局规划，才能有效避免分散投资、各自为政、重复建设等问题。在政策规划、资源配置、开发建设方面，必须充分发挥政府的指导与协调作用，以满足人的需求为目的，建立健全协调配合的工作机制，完善公众信息化教育培训机制，以及科学的组织领导机制、咨询决策机制，形成推进智慧城市发展的合力。

——以人为本建设智慧城市，应充分调动社会企业广泛参与。

在市场经济条件下，尤其在信息化建设的今天，政府已无法包揽所有工作，主要的建设与应用，应交给市场主体，由它们完成更多具体的建设管理服务工作。所以企业作为投资主体和管理服务主体，必须发挥市场主流作用，让市场说话、市场引导，普及推广应用与服务。从长远看，政府可考虑政企合作投资方式，营造多元化的筹资来源，创造基本环境，鼓励民间创新，发挥各种资源优势，实现信息化的目标。

——以人为本建设智慧城市，应以改善民生、持续发展为最终目标。

智慧城市建设涉及方方面面，但最终目标是要最大限度地为老百姓在衣、食、住、行、游、教等方面提供更为便捷的服务，因此要以民生为导向推动智慧城市建设。推进过程中要聚焦民生项目，充分关注老百姓的使用感受，不断优化使用方法；注重从市民需求出发，并通过科技工具和方法强化用户的参与，汇聚公众智慧，不断推动创新，让智慧城市切实发挥应有的效果，实现经济、社会、环境的可持续发展。

城市，需要一个条理有序的智慧化管理和智能化生活环境，使人们在日常生活中能够各取所需，享受轻松惬意。而坚持以人为本建设智慧城市，恰恰是城市的需要、人类的进步，是真正利民、利市、利国的发展方向。我们应当始终以人为主导，鼓励创新，发挥先进技术的先导作用，让人们在智慧城市，创造更多的社会财富，加快实现中华民族伟大复兴的“中国梦”！

华图教育 HUATU.COM SINCE 2001

四、给定资料

4.当前，中国在中外文化交流中存在着逆差，中国优秀文化走向世界和外国文化涌入中国，在数量质量上都难成比例。为了扭转这种逆差，有学者提出了中国文化输出问题。

这个问题的提出不是偶然的，而是中国对外开放发展到一定程度后的必然产物。

随着中国对外开放的水平进一步的提高，人们认识到中国当代文化建设不仅要“引进”，而且要“输出”。有学者认为：“在最初的挪用套用之后，必须有自己的创造性输出，否则这个民族就会丧失真正的精神生命力。”“中国当代文化需要进一步奠定自己的文化精神生长点，借此从中西文化交流的逆差中走出来，真正开始自己的文化创生性，走向中西文化平等对话和文化输出。”

从1934年鲁迅提出拿来主义到当前我们提出文化输出，已经整整过去80年了。科学发展观要求我们对外开放要坚持“引进”和“输出”相结合。拓展发展空间，增强发展后劲，不仅是对经济建设提出的要求，而且也适合文化建设。这就是说，我们的文化建设要坚持“拿来主义”与“文化输出”相结合。

学者指出，中国当代文化建设从拿来主义到文化输出虽然是一个巨大转变，但是，我们的文化输出不能为输出而输出，而是应在人类文化发展史上占有一席之地。正如我们拿来的是人类所创造的一切优秀文化成果，我们的文化输出也必须输出的是中国当代文化中对人类健康向上发展的有价值的东西。我们的文化输出应以我们的原创作品为主，即能够代表中国的国家形象，代表中国人民的形象，代表中国民族文化的形象。过去，我们也有一些文化产品输出，我们也输出了不少优秀的文化产品。但是，不可否认，我们输出的有些文化产品却是迎合西方一些人的狭隘需要，贩卖的是一些中国文化的落后的、丑陋的东西。这种文化输出损害了中国的国家形象，损害了中国人民的形象，损害了中国民族文化的形象。这是我们必须坚决反对的。

因此，中国当代文化解决中外文化交流中存在的“逆差”现象，就必须在努力解决现存冲突的过程中大力创造有价值的文化产品。这样，中华民族才能在人类的健康向上的发展中做出自己应有的独特贡献。这种“有价值的文化产品”，首先就内含着中国人自己的价值观。因此，有学者套用法国前总统德斯坦的话说：“中国在能够输出价值观之前，是不会成为一个真正的大国的。”

鉴于有人提出从文化拿来主义走向文化输出主义的理念，有学者也发表了自己的意见：一、少提“主义”，一提主义往往会走向极端；二、在文化上还是要“拿来”与“输出”并举。文化上的平等交流应该是互通的，一手进一手出，不应该只进不出或只出不进。现在没有哪个国家愿意只做进口生意不做出口生意的，文化上也如此，否则根本不符合世贸协定。“拿来”拿的是我们没有的，而且是必要的；“拿来”也不是全盘西化，囫囵吞枣，而是咀嚼消化，为我所用。“输出”也不是不分好歹地“倾销”，文化上的伪劣产品应该杜绝出口，以次充好必然败坏名声，后患无穷。即使是中国优秀的传统文化，尽管资源十分丰富，也需要经过现代的阐释，方能切合现时代世界的需要。最能体现中国当今文化软实力的，应该是经过中西会通又从现实需要出发，体现时代特点的原创性的文化观念、文化思想和文化产品。所以在输出什么、创造什么文化产品和怎样输出等方面，还需要作通盘的规划，并付之行动。

“给定资料 4”画线部分写道：“中国在能够输出价值观之前，是不会成为一个真正的大国的。”请结合你对这句话的思考，自拟题目，写一篇文章。

视频解析

要求：

(1)自选角度，立意明确；

(2)联系实际，不拘泥于“给定资料”；

(3)思路清晰，语言流畅；

(4)总字数 1000—1200 字。

【答案提示】

华图教育 HUATU.COM SINCE 2001

重文化软实力　造文化真强国

文化输出是提升国家软实力的核心因素，“软实力”是相对于一国的经济实力、科技实力、军事实力、资源实力等“硬实力”而言的。软实力就是通过吸引而非强制或者利诱的方式改变他方的行为，从而使己方得偿所愿的能力。软实力体现为一国的文化、价值观念、社会制度、发展模式、外交策略等的国际影响力与感召力。文化是国家软实力的基础，软实力的说服作用、渗透能力和吸引力主要通过文化输出来体现。因此，文化输出是提升国家影响力的重要途径，是国家不断提升国际竞争力的重要保障。

做大做强一批骨干文化企业是做好文化输出的关键。随着中国经济的不断发展壮大，中国制造的影响力在不断扩大，而中国的发展依然是制造业大国、品牌小国，企业的文化实力不足。着力培育一批有实力、有竞争力的企业是文化输出的关键，更是提升国家文化软实力的重要环节。为此，应着重扶持具有市场领导地位或潜力大的文化企业，鼓励这些企业不断提升自主创新能力，通过跨地区、跨行业联合或重组，尽快壮大企业规模，提高集约化经营水平，积极“走出去”，充分参与国际竞争，不断壮大自身实力、提高国际传播能力和影响力。在此过程中，大型国有文化企业应成为“主力军”，充分发挥主导作用；广大民营文化企业应成为“生力军”，充分发挥自身的独特优势和积极作用。

实现经济与文化的良性互动，提升文化的生命力与创造力是文化输出的内在动力。文化产业的一个主要作用，就是运用文化元素来聚集资金、发展经济，再用聚集来的资金、通过产业化的形式来发展文化，从而实现文化与经济的良性互动。近年来，文化产业发展规模超过了农业等传统产业，在国民经济中的比重逐年攀升，成为国家出口创汇的重要来源。文化产业的高度发展，不但能够促进国家国民经济水平的提高，而且在客观上为国家文化的传承、保护和创新提供了雄厚的资金基础和有效的运作方式，从而提升了该国文化的生命力与创造力。

人是文化输出过程中的重要载体。文化的交流归根结底是人的交流、感情的交流，每个人都是一国

最生动的“文化名片”，因此，在文化输出过程中应当充分重视人的重要作用，大力发展我国的教育，不断提升国民素质，在教育中重视中国传统历史文化的灌输，“做好”中国文化输出的每一张“名片”。

他山之石，可以攻玉。在我国文化输出这个问题上，在借鉴他国经验的同时，应从我国现实国情出发，坚持以我为主、为我所用的原则，科学选择、合理吸收，切实做好我国的文化输出工作，不断提升我国文化软实力，塑造我国的文化大国新形象。

SINCE 2001
华图教育
HUATU.COM